Fuerzas Intermoleculares

Indica en el recuadro la respuesta correcta:

1. ¿Qué tipo de fuerza intermolecular caracteriza al siguiente compuesto? (Indique la más fuerte)
   a) Dipolo-dipolo
   b) Ión-dipolo
   c) Puentes de hidrógeno
   d) Dispersión de Londón

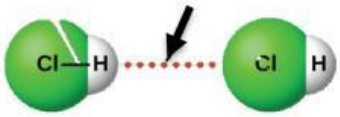

2. ¿Qué tipo de fuerza intermolecular caracteriza a las siguientes moléculas? (Indique la más fuerte)
   a) Dipolo-dipolo
   b) Ión-dipolo
   c) Puentes de hidrógeno
   d) Dispersión de Londón

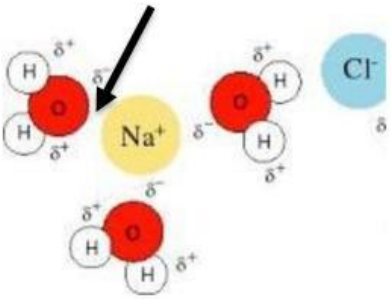

3. ¿Qué tipo de fuerza intermolecular caracteriza a la siguiente molécula? (Indique la más fuerte)
   a) Dipolo-dipolo
   b) Ión-dipolo
   c) Puentes de hidrógeno
   d) Dispersión de Londón

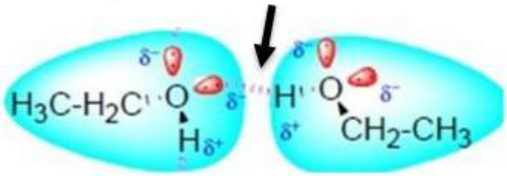

4. ¿Qué tipo de fuerza intermolecular caracteriza a la siguiente molécula? (Indique la más fuerte)

5

   a) Dipolo-dipolo
   b) Ión-dipolo inducido
   c) Puentes de hidrógeno
   d) Dispersión de Londón

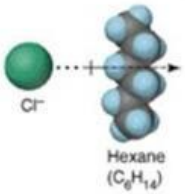

5. ¿Qué tipo de fuerza intermolecular caracteriza a la siguiente molécula* (Indique la más fuerte)
   a) Dipolo-dipolo
   b) Ión-dipolo
   c) Puentes de hidrógeno
   d) Dispersión de Londón

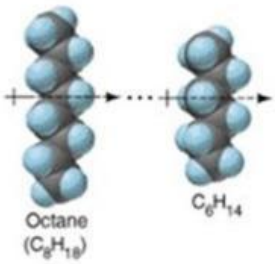

LIVEWORKSHEETS