LEMBAR KERJA PESERTA DIDIK

MATEMATIKA

Bangun Ruang Sisi Datar

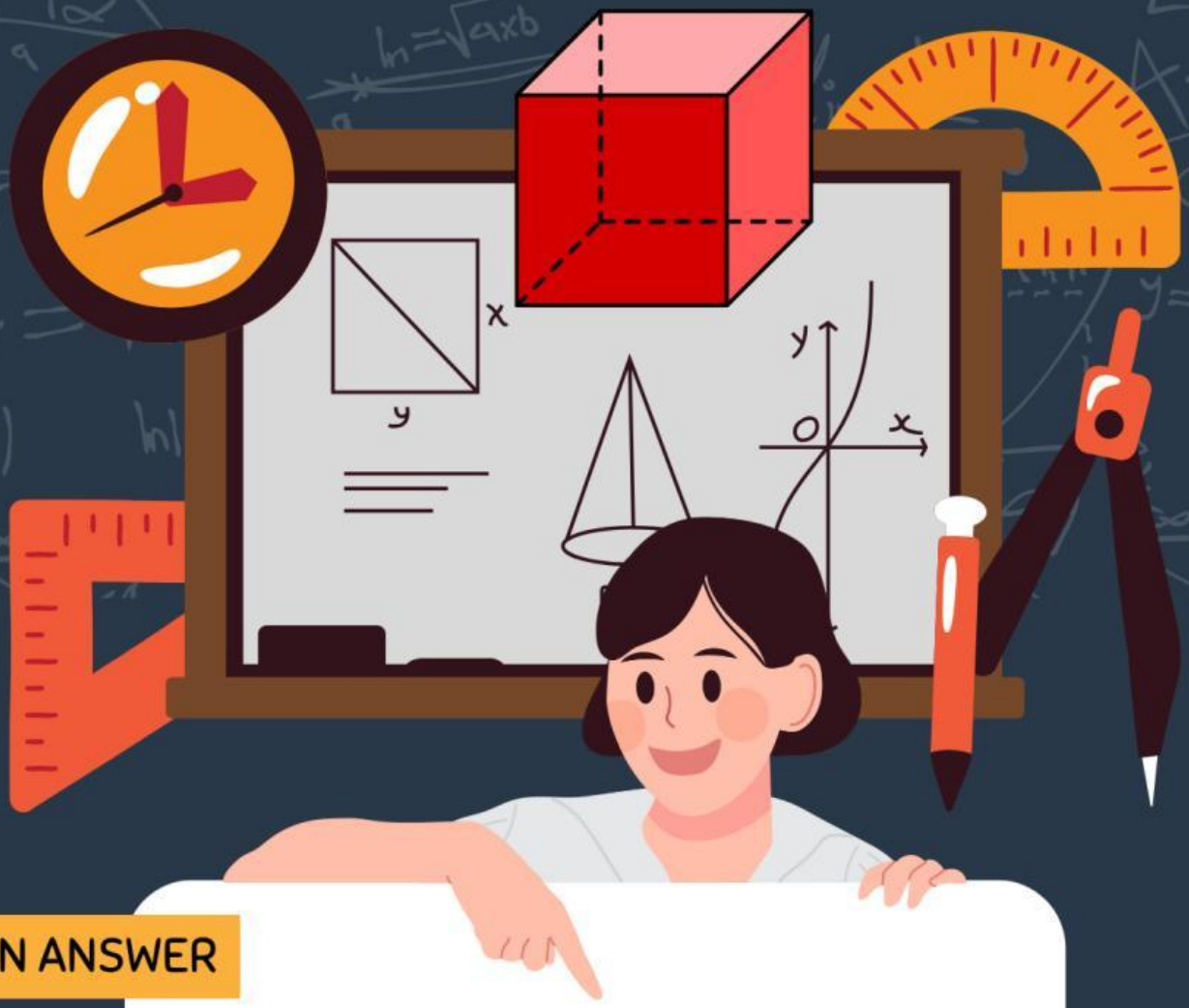

OPEN ANSWER

Nama : .....

Kelas : .....

LIVEWORKSHEETS

VIDEO PEMBAHASAN MATERI BANGUN RUANG SISI DATAR

Simak Video di bawah ini!

VIDEO YOU TUBE

LINK

Kllik link di bawah ini

yuk baca materi di atas

POWER POINT

MP3

LIVEWORKSHEETS

LATIHAN SOAL

Pasangkanlah bangun di bawah ini yang sesuai degan cara mearik garis!

JOIN

PRISMA

LIMAS

BALOK

KUBUS

LIVEWORKSHEETS

LATIHAN SOAL

Jawablah pertanyaan di bawah ini dengan benar!

Banyak titik sudut kubus adalah...

Banyak rusuk kubus adalah...

Banyak sisi kubus adalah...

Banyak rusuk balok adalah...

Banyak sisi balok adalah...

Banyak titik sudut balok adalah...

TEXTFIELD

LIVEWORKSHEETS

LATIHAN SOAL

Pilihlah jawaban dari pertanyaan dibawah ini dengan tepat!

CHECKBOXES

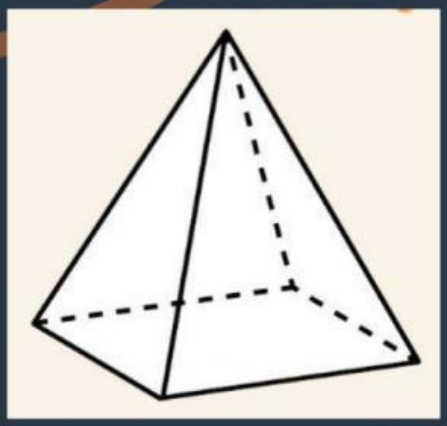

1. Nama bangun di samping adalah.....
   - [ ] Prisma
   - [ ] Limas

2. Banyak rusuk pada gambar di atas adalah.....
   - [ ] 5
   - [ ] 8
   - [ ] 12

3. Banyak titik sudut adalah.....
   - [ ] 5
   - [ ] 8
   - [ ] 12

4. Banyak sisi adalah.....
   - [ ] 5
   - [ ] 8
   - [ ] 12

LIVEWORKSHEETS

LATIHAN SOAL

Geser da pindahkan gambar jaring-jaring di bawah ini pada tempat yang sesuai

DROP & DRAG

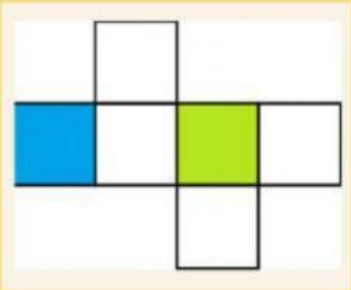

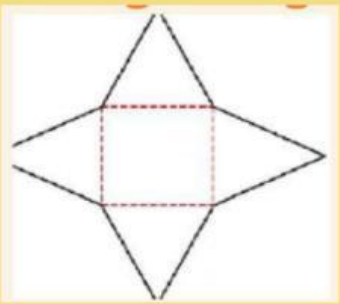

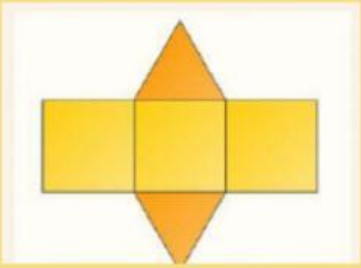

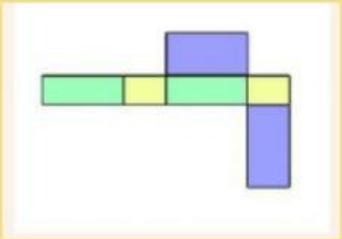

Kubus

Balok

Prisma

Limas

LIVEWORKSHEETS

LATIHAN SOAL

Pilihlah jawaban yang paling tepat!

SELECT

Perhatika ngambar berikut!

1. Nama bangun di samping adalah.....

   A. Prisma Segitiga

   B. Prisma segiempat

   C. Prisma segilima

   D. Prisma segienam

2. Banyak Rusuknya adalah.....

   A. 5

   B. 6

   C. 9

   D. 12

LIVEWORKSHEETS

LATIHAN SOAL

TEMUKANLAH KATA MENGENAI BANGUN RUANG SISI DATAR

WORDSEARCH

E	T	I	R	E	R	A	E	U	I	G	U	M	T
T	M	S	A	I	T	M	N	B	A	L	O	K	R
U	A	L	N	S	A	I	N	S	I	A	P	S	I
S	U	B	U	K	I	L	K	I	I	M	U	A	K
I	A	S	P	G	S	I	I	E	P	A	L	G	N
T	A	P	M	E	I	G	E	S	S	A	M	I	L
L	I	M	A	S	S	E	G	I	T	I	G	A	S
P	R	I	S	M	A	S	E	G	I	T	I	G	A
T	I	A	S	I	M	A	R	I	A	L	O	B	S
T	A	B	U	N	G	M	T	U	C	U	R	E	K
P	R	I	S	M	A	S	E	G	I	E	N	A	M
A	G	M	U	U	T	I	T	A	S	A	T	B	U
T	A	I	S	I	G	R	T	G	E	T	A	B	N
S	E	U	A	T	A	P	P	L	A	K	B	N	S

KATA YAG HARUS DICARI

1. Prisma Segilima
2. Prisma Segitiga
3. Kubus
4. Limas segiempat
5. Limas segitiga
6. Balok

LIVEWORKSHEETS

LATIHAN SOAL

Jawablah pertanyaan di bawah ini dengan tepat!

SINGLE CHOIC

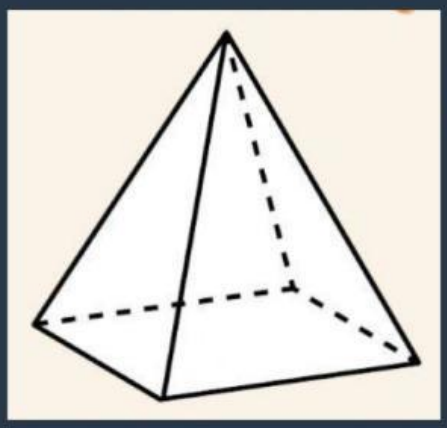

Nama bangun di samping adalah.....

SPEAK

sebutkan gambar di bawah ini dengan tepat!

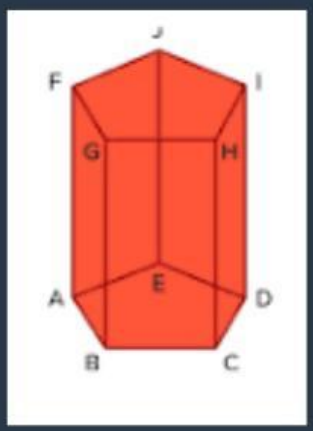

LISTENING

Tuliskan apa yang kamu dengar!

LIVEWORKSHEETS