ชื่อ-สกุล.....ชั้น.....เลขที่.....

# แบบฝึกหัดที่ 12
## เรื่อง โจทย์ปัญหาการหาร

**ตอนที่ 1 เติมคำตอบให้สมบูรณ์**

1. นักท่องเที่ยวมี 7 คน ซื้อแพ็คเกจทัวร์ 5 วัน 4 คืนไปเกาะพีพี เสียค่าใช้จ่ายในการเดินทางทั้งหมด 67,200 บาท โดยค่าใช้จ่ายของผู้หญิง 2 คน จะเท่ากับค่าใช้จ่ายของผู้ชาย 5 คน

   ก. ผู้หญิง 2 คน เสียค่าใช้จ่ายในการเดินทางทั้งหมดเท่าไร

   ข. ผู้ชายแต่ละคนเสียค่าใช้จ่ายในการเดินทางเท่าไร

เติมข้อความลงในรูปบาร์โมเดลให้สมบูรณ์

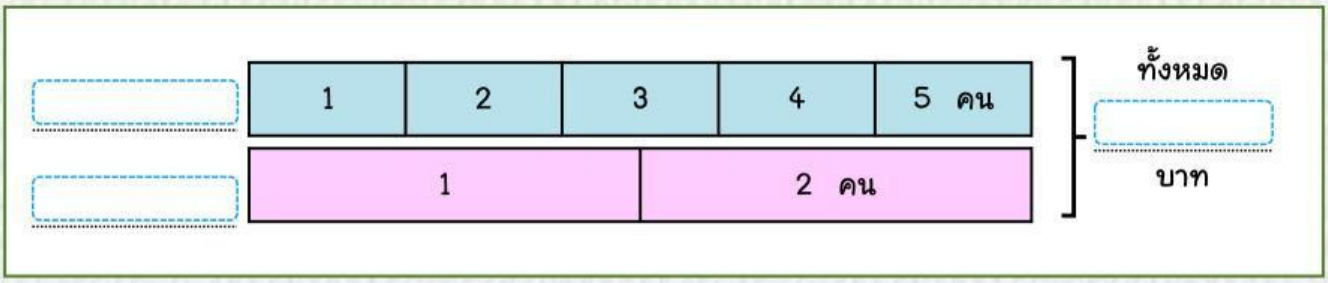


ก. ผู้หญิง 2 คน เสียค่าใช้จ่ายในการเดินทางทั้งหมดเท่าไร

ประโยคสัญลักษณ์ ☐ ○ ☐ = ☐

ดังนั้นผู้หญิง 2 คน เสียค่าใช้จ่ายในการเดินทางทั้งหมด ☐ บาท

ข. ผู้ชายแต่ละคนเสียค่าใช้จ่ายในการเดินทางเท่าไร

ประโยคสัญลักษณ์ ( ☐ ○ 2) ○ ☐ = ☐

ดังนั้น ผู้ชายแต่ละคนเสียค่าใช้จ่ายในการเดินทาง ☐ บาท

LIVEWORKSHEETS

2. ชบากับน้องชายมีเงินรวมกันได้ 1,440 บาท ถ้าชบามีเงินเป็น 2 เท่าของน้องชาย ชบาต้องให้เงินน้องชายกี่บาท จึงจะทำให้ทั้งสองคนมีเงินเท่ากันพอดี

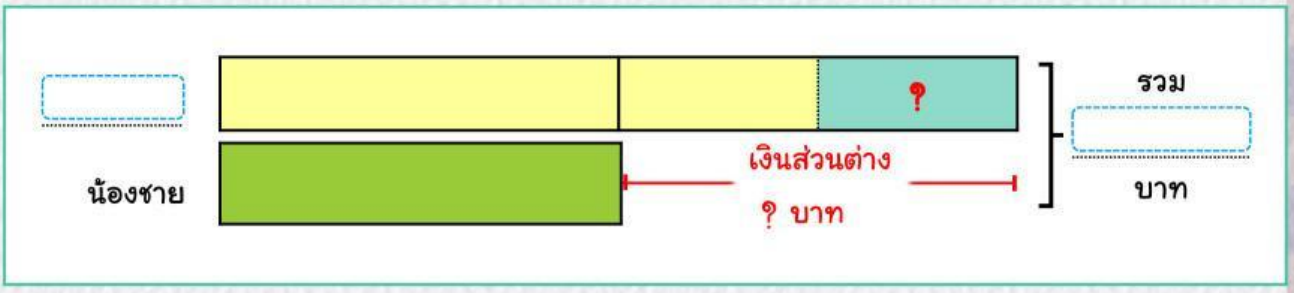


**ประโยคสัญลักษณ์** ( ) = □

**ตอบ** บาท

3. โรงงานผลิตขนมจีบวันละ 38,400 ลูก แบ่งส่งไปยังสาขาซึ่งมี 8 สาขา สาขาละเท่าๆ กัน แต่ละสาขาจะนำขนมจีบจัดใส่กล่องกล่องละ 15 ลูก แต่ละสาขาจัดขนมจีบได้กี่กล่อง

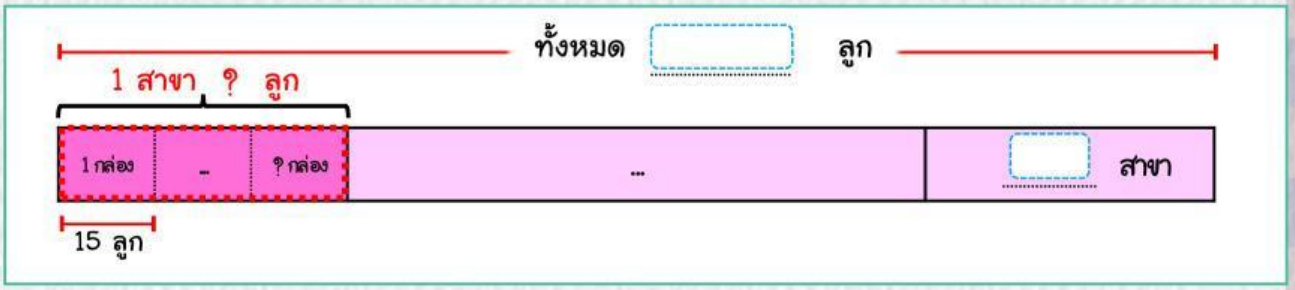


**ตอบ** กล่อง

4. ผู้รับเหมาถมดินได้รับเหมาถมดิน 59,432 ลูกบาศก์เมตร ถ้ารถขนดินคันหนึ่งบรรทุกได้เที่ยวละ 8 ลูกบาศก์เมตร และผู้รับเหมามีรถบรรทุกอยู่ 17 คัน รถบรรทุกแต่ละคันจะต้องบรรทุกดินกี่เที่ยว

**ตอบ** เที่ยว

LIVEWORKSHEETS

**ตอนที่ 2 เลือกคำตอบใน ☐ และใส่รายละเอียดในรูปบาร์โมเดล ☐ ให้ถูกต้อง**

สุทินซื้อถั่วเขียว 36 ถุง ราคา 1,620 บาท ถ้าถั่วเขียว 1 ถุง หนัก 3 กิโลกรัม ถั่วเขียวราคากิโลกรัมละกี่บาท

**ขั้นที่ 1 ทำความเข้าใจปัญหา**

โจทย์ถาม : ☐

โจทย์บอก : สุทินซื้อถั่วเขียว ☐ ถุง ราคา ☐ บาท
ถ้าถั่วเขียว 1 ถุง หนัก 3 กิโลกรัม

**ขั้นที่ 2 วางแผนแก้ปัญหาโดยใช้รูปบาร์โมเดล**

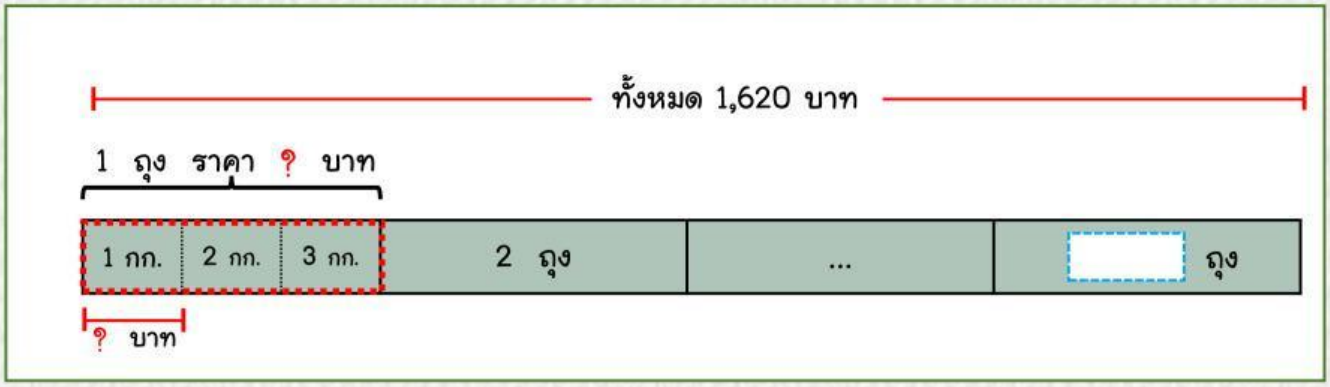


**ขั้นที่ 3 แสดงวิธีทำ**

**<u>วิธีทำ</u>** สุทินซื้อถั่วเขียว ☐ ถุง

ราคา ☐ บาท

ถั่วเขียว 1 ถุง ราคา ☐ ◯ 36 = ☐ บาท

ถ้าถั่วเขียว 1 ถุง หนัก 3 กิโลกรัม

ถั่วเขียวราคากิโลกรัมละ ☐ ◯ 3 = ☐ บาท

**<u>ตอบ</u>** ☐ บาท

LIVEWORKSHEETS