Lembar Kerja Peserta Didik

LKPD

MATEMATIKA

Materi : Pengukuran Waktu

Nama : .....

Kelas : .....

LIVEWORKSHEETS

Waktu Aktivitasku

Tuliskan waktu di kotak dan berilah garis pada gambar jam yang telah disediakan sesuai dengan aktivitas yang kamu lakukan.

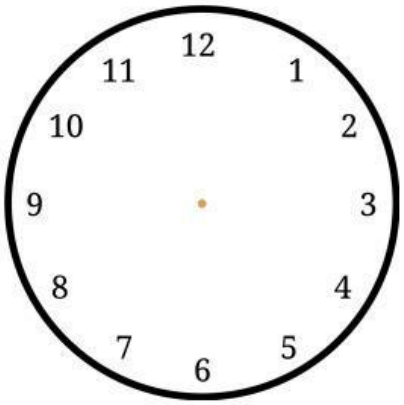

Aku tidur pada pukul

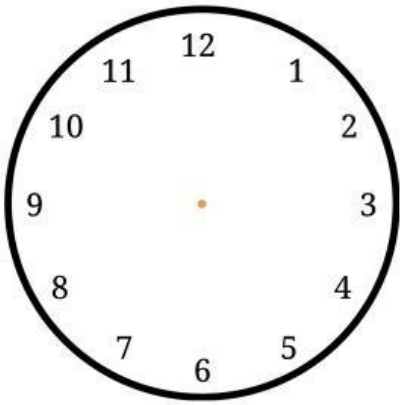

Aku bangun tidur pada pukul

LIVEWORKSHEETS

Waktu Aktivitasku

Tuliskan waktu di kotak dan berilah garis pada gambar jam yang telah disediakan sesuai dengan aktivitas yang kamu lakukan.

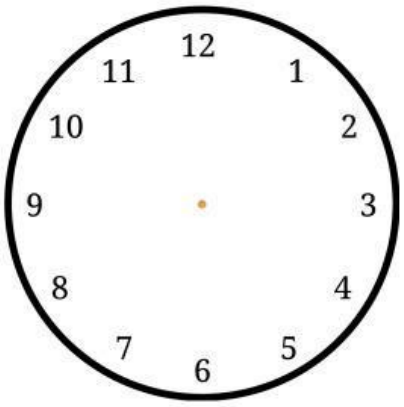

Aku sarapan pukul

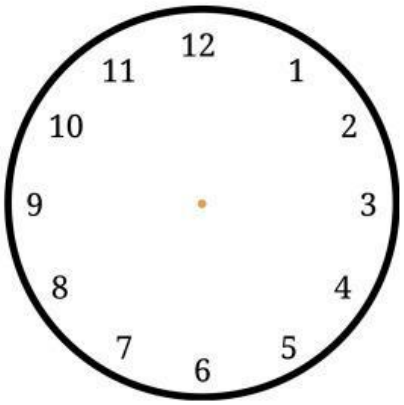

Aku mandi pada pukul

LIVEWORKSHEETS

NAMA : KELAS :

Lembar Kerja

Waktu Sehari-Hari

Lihat dan cermati gambar di bawah ini. Hubungkan dengan garis dari jam dengan angka yang cocok!

LIVEWORKSHEETS