ใบกิจกรรมที่ 1 เรื่อง ลักษณะของปริซึมและทรงกระบอก

คำชี้แจง ให้นักเรียนเติมคำในช่องว่างให้ถูกต้อง (หน้าตัดหรือฐาน , ส่วนสูง , ด้านข้าง) และตอบคำถามต่อไปนี้

กลุ่มที่ 1 ปริซึมสามเหลี่ยม

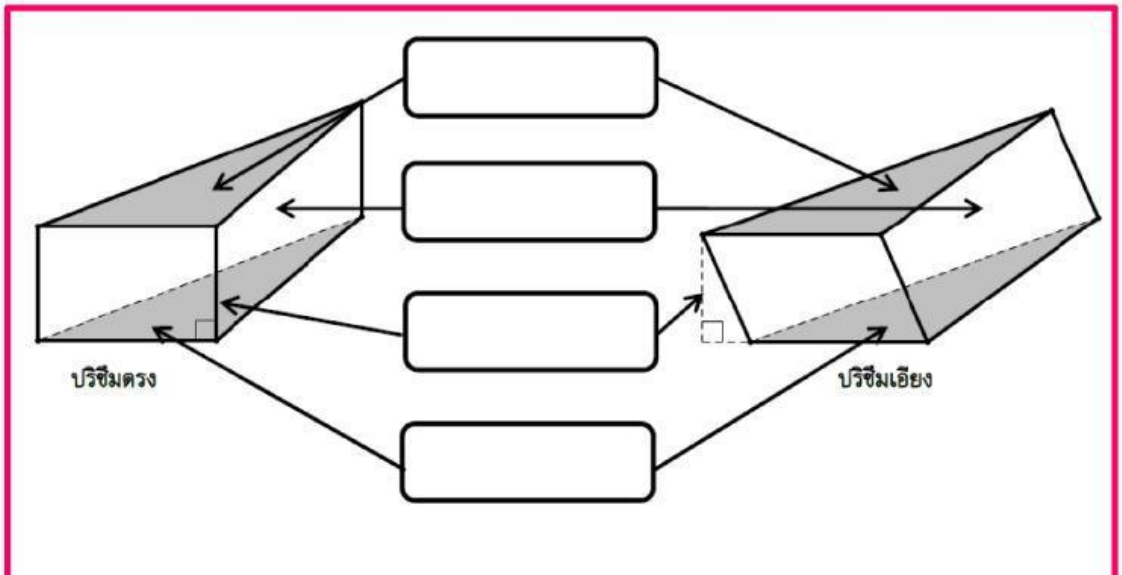

ภาพแสดงส่วนต่างๆ ของปริซึมสามเหลี่ยม

1. ปริซึมนี้มีทั้งหมด.....หน้า โดยเป็นหน้าตัดหรือฐาน.....หน้า และเป็นด้านข้าง.....หน้า
2. ปริซึมนี้มีหน้าตัดหรือฐานเป็นรูปเหลี่ยมชนิดใด

   ตอบ.....
3. ปริซึมนี้มีด้านข้างเป็นรูปเหลี่ยมชนิดใด

   ตอบ.....

LIVEWORKSHEETS

กลุ่มที่ 2 ปริซึมสี่เหลี่ยม

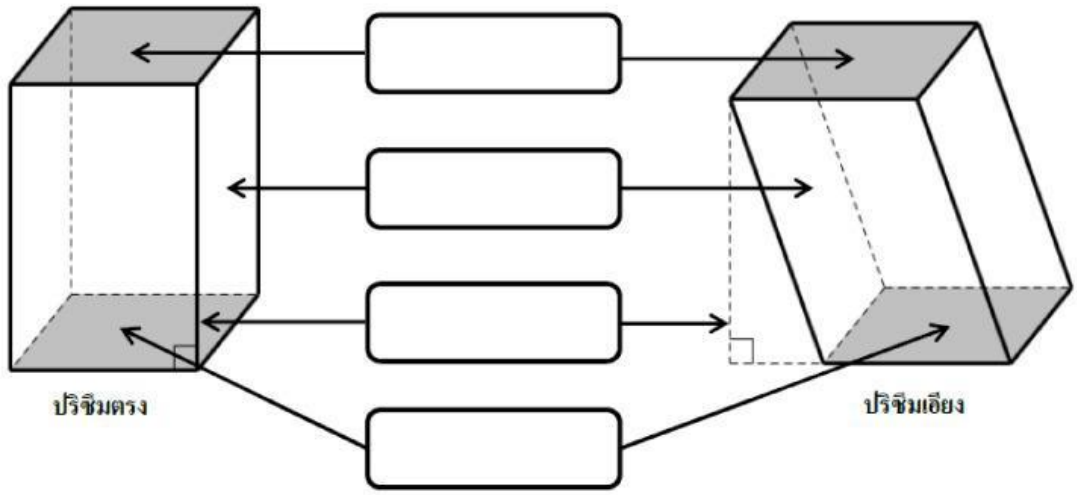

ภาพแสดงส่วนต่างๆ ของปริซึมสี่เหลี่ยมผืนผ้า

1. ปริซึมนี้มีทั้งหมด.....หน้า โดยเป็นหน้าตัดหรือฐาน.....หน้า และเป็นด้านข้าง.....หน้า
2. ปริซึมนี้มีหน้าตัดหรือฐานเป็นรูปเหลี่ยมชนิดใด

   ตอบ.....
3. ปริซึมนี้มีด้านข้างเป็นรูปเหลี่ยมชนิดใด

   ตอบ.....

LIVEWORKSHEETS

กลุ่มที่ 3 ปริซึมห้าเหลี่ยม

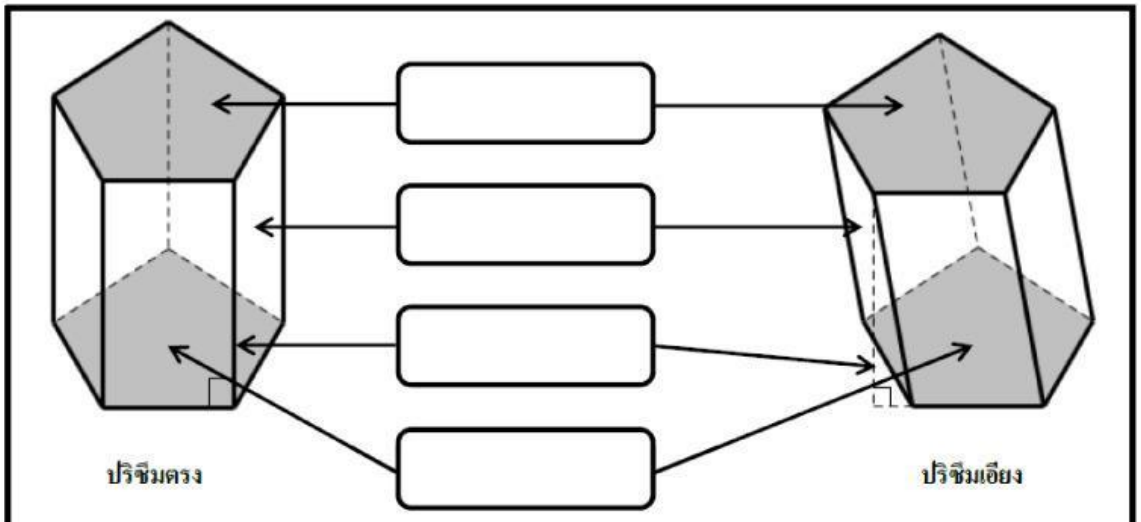

ภาพแสดงส่วนต่างๆ ของปริซึมห้าเหลี่ยม

1. ปริซึมนี้มีทั้งหมด.....หน้า โดยเป็นหน้าตัดหรือฐาน.....หน้า และเป็นด้านข้าง.....หน้า
2. ปริซึมนี้มีหน้าตัดหรือฐานเป็นรูปเหลี่ยมชนิดใด

   ตอบ.....
3. ปริซึมนี้มีด้านข้างเป็นรูปเหลี่ยมชนิดใด

   ตอบ.....

LIVEWORKSHEETS

กลุ่มที่ 4 ทรงกระบอก

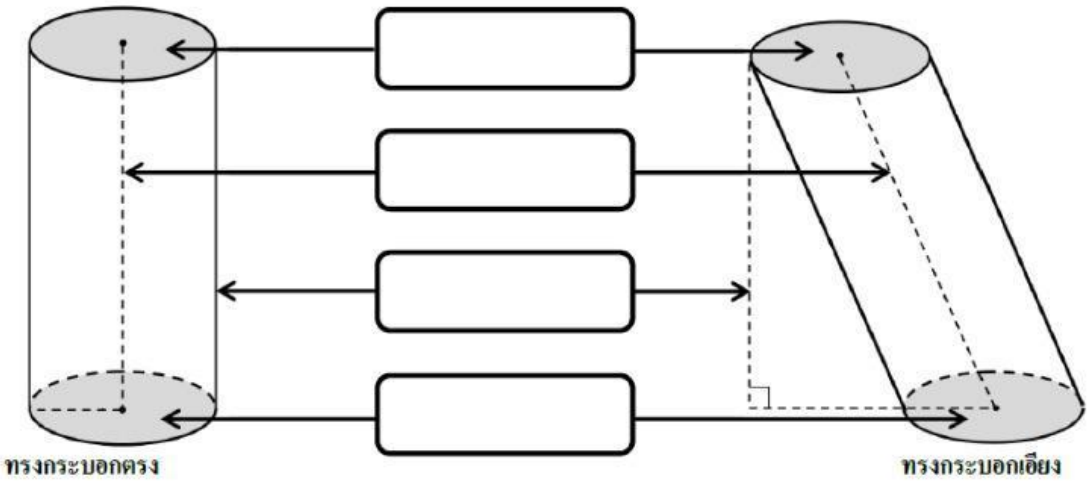

ภาพแสดงส่วนต่างๆ ของทรงกระบอก

1. ทรงกระบอกนี้มีหน้าตัดหรือฐานเป็นรูปชนิดใด

   ตอบ.....

2. ถ้าตัดทรงกระบอกตามแนวส่วนสูงและคลี่ออก นักเรียนคิดว่าจะได้รูปคลี่เป็นรูปอะไร

   ตอบ.....

3. จากข้อ 2. ความกว้างและความยาวที่ได้จากรูปคลี่ คือส่วนใดของทรงกระบอก

   ตอบ.....

   .....

   .....

LIVEWORKSHEETS