Sebelum mulai mengerjakan latihan soal, pahami petunjuk dibawah ini agar tidak terjadi kebingungan, ya!

- Jawablah pertanyaan-pertanyaan yang ada dengan menuliskan cara penyelesaiannya di buku tulis dan ketikkan hasil jawabanmu pada kolom yang tersedia

- Jika telah selesai, tekan tombol "FINISH" yang ada di bagian bawah seperti pada gambar berikut.

- Isilah data diri seperti gambar berikut. Kemudian, tekan "SEND" jika sudah

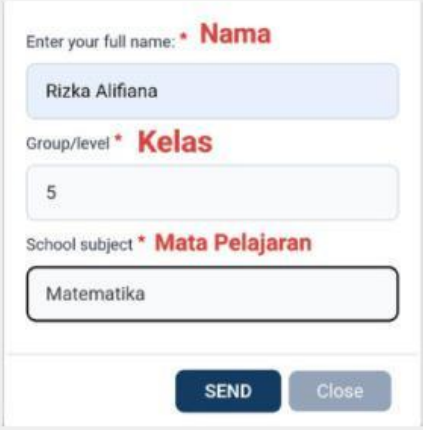

- Jawabanmu akan langsung terkirim ke akun gurumu

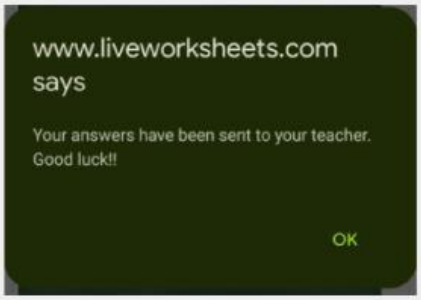

LIVEWORKSHEETS

- Setelah jawabanmu terkirim, maka nilaimu akan muncul pada bagian pojok kiri atas.
- Periksalah jawabanmu dan pelajarilah kembali. Jawaban yang benar akan berwarna hijau dan jawaban yang sakah akan berwarna merah.
- Jika ingin kembali ke halaman buku elektronik interaktif, kamu bisa menggeser kursor laptopmu ke arah tanda panah di bagian kiri atas. Jika kamu menggunakan handphone, maka kamu bisa menekan tombol kembali yang ada pada handphone mu. Dengan begitu, layar akan kembali ke tampilan buku elektronik interaktif
- Selamat mengerjakan 👇👇👇👇👇

LIVEWORKSHEETS

Ayo Berlatih

Isilah pertanyaan dibawah ini pada kotak jawaban yang telah disediakan, dan tulislah cara penyelesaianmu di buku tulis!

1. Madura merupakan salah satu pulau yang terletak di Provinsi Jawa Timur yang terdiri dari empat kabupaten yaitu Bangkalan, Sampang, Pamekasan, dan Sumenep. Perhatikan jumlah penduduk dan luas wilayah dari tiap kota di Pulau Madura pada tahun 2023 berikut!

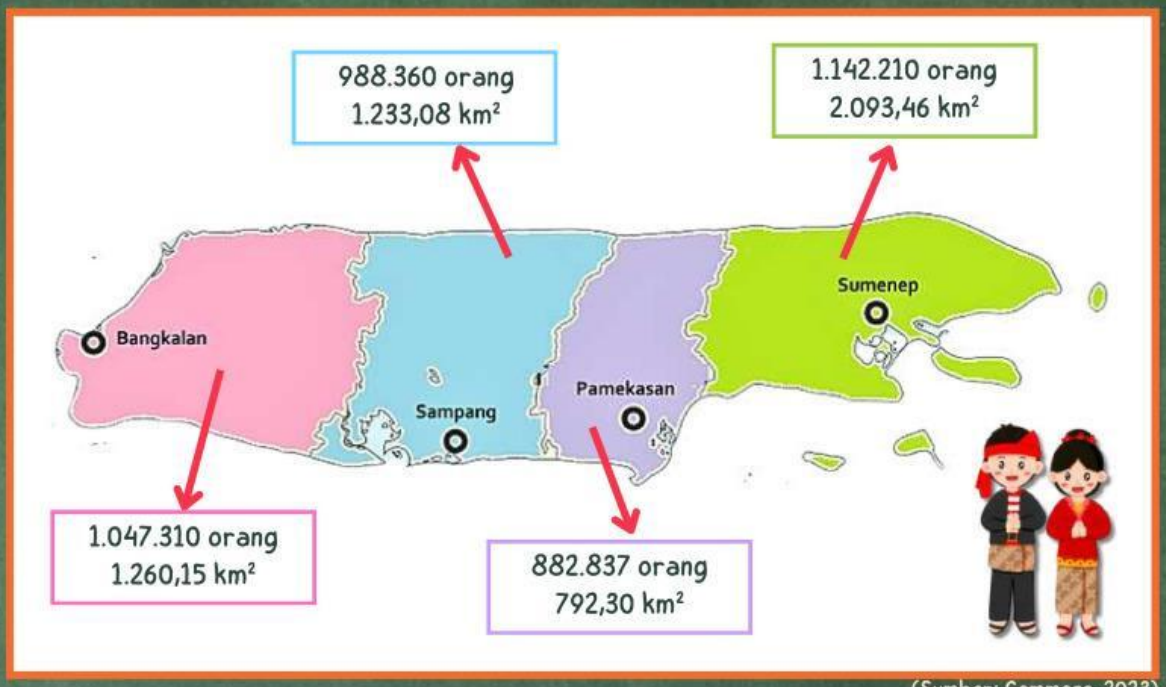

(Sumber: Commons, 2023)

Hitunglah kepadatan populasi pada tahun 2023 dari tiap kota yang ada di Pulau Madura. Bulatkan tempat desimal pertama dan berikan jawabannya dalam bilangan bulat pada kolom dibawah ini!

Kepadatan populasi kota Bangkalan =

Kepadatan populasi kota Sampang =

Kepadatan populasi kota Pamekasan =

Kepadatan populasi kota Sumenep =

Diantara empat kota yang ada di pulau Madura, kota manakah yang memiliki kepadatan populasi paling tinggi?

LIVEWORKSHEETS

2. Sebuah toko menjual paket pensil yang berisi 10 pensil seharga Rp50.000. Hitunglah harga 1 pensil! dan berapa biaya yang diperlukan jika ingin membeli 25 pensil? Jawablah pada kolom yang tersedia pada tabel berikut!

Harga 1 pensil =

: 10

Jumlah Pensil	1	10
Harga		50.000

:

Harga 1 pensil adalah

Harga 25 pensil =

× 25

Jumlah Pensil	1	25
Harga		

×

Harga 25 pensil adalah

3. Sebuah resep kue membutuhkan 300 gram gula untuk membuat 10 kue. Jika ibu memiliki persediaan gula sebanyak 240 gram, maka berapa jumlah kue yang dapat dibuat oleh ibu? Jawablah pada kolom yang tersedia pada tabel berikut!

Banyaknya gula untuk membuat 1 kue =

:

Banyaknya Gula		300
Jumlah Kue	1	10

:

Jumlah kue yang dapat dibuat dengan 240 gram gula =

×

Banyaknya Gula		240
Jumlah Kue	1	

×

Jadi, jumlah kue yang dapat dibuat dengan 240 gram gula adalah kue

LIVEWORKSHEETS