Sebelum mulai mengerjakan latihan soal, pahami petunjuk dibawah ini agar tidak terjadi kebingungan, ya!

- Jawablah pertanyaan-pertanyaan yang ada dengan menuliskan cara penyelesaiannya di buku tulis dan ketikkan hasil jawabanmu pada kolom yang tersedia

- Jika telah selesai, tekan tombol "FINISH" yang ada di bagian bawah seperti pada gambar berikut.

- Isilah data diri seperti gambar berikut. Kemudian, tekan "SEND" jika sudah

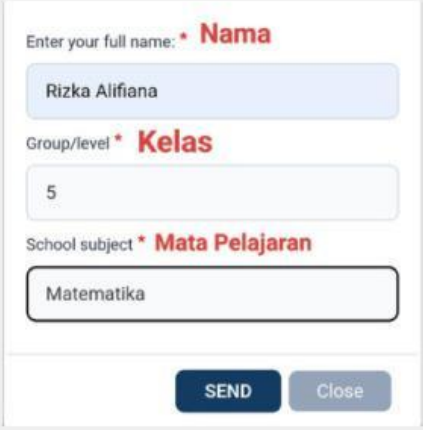

- Jawabanmu akan langsung terkirim ke akun gurumu

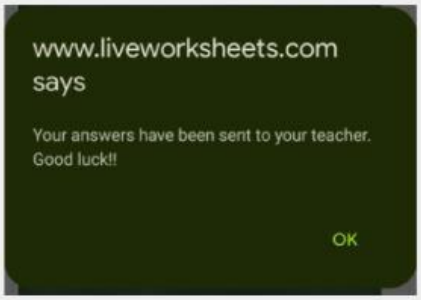

LIVEWORKSHEETS

- Setelah jawabanmu terkirim, maka nilaimu akan muncul pada bagian pojok kiri atas.
- Periksalah jawabanmu dan pelajarilah kembali. Jawaban yang benar akan berwarna hijau dan jawaban yang sakah akan berwarna merah.
- Jika ingin kembali ke halaman buku elektronik interaktif, kamu bisa menggeser kursor laptopmu ke arah tanda panah di bagian kiri atas. Jika kamu menggunakan handphone, maka kamu bisa menekan tombol kembali yang ada pada handphone mu. Dengan begitu, layar akan kembali ke tampilan buku elektronik interaktif
- Selamat mengerjakan 👇👇👇👇👇

LIVEWORKSHEETS

Ayo Berlatih

Isilah pertanyaan dibawah ini pada kotak jawaban yang telah disediakan, dan tulislah cara penyelesaianmu di buku tulis!

1. Tabel disamping menunjukkan jumlah kunjungan Perpustakaan Daerah di Kabupaten Pamekasan pada bulan Januari hingga Mei tahun 2023.

   Berdasarkan tabel tersebut, hitunglah rata-rata kunjungan Perpustakaan Daerah di Kabupaten Pamekasan per bulan pada kolom rata-rata yang telah disediakan!

   Ketikkan jawabanmu disini ya 👉

Bulan	Jumlah Kunjungan
Januari	4.615 Kunjungan
Februari	2.274 Kunjungan
Maret	3.327 Kunjungan
April	2.445 Kunjungan
Mei	3.254 Kunjungan
Rata-rata	

(Sumber: kabarmadura.id)

2. Diagram disamping menunjukkan jumlah produksi minyak bumi di Indonesia pada tahun 2020.

   Berdasarkan diagram batang tersebut, hitunglah rata-rata jumlah produksi minyak bumi di Indonesia per bulannya pada kolom rata-rata yang telah disedikan!

   Ketikkan jawabanmu disini ya 👉

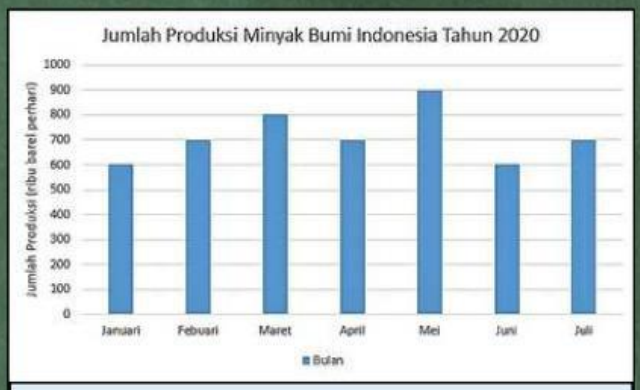

Rata-rata =

(Sumber: kompas.com)

3. Siswa kelas V di SDN Kowel 3 Pamekasan terbagi ke dalam dua kelompok, yaitu Kelompok A dan Kelompok B untuk mengikuti proyek menanam 5 tanaman di kebun sekolah. Mereka menemukan perbedaan tinggi tanaman yang mereka tanam setelah empat minggu.

LIVEWORKSHEETS

Hitunglah rata-rata tinggi tanaman masing-masing kelompok pada kolom rata-rata yang telah disediakan dibawah ini!

Nama Kelompok	Tanaman 1	Tanaman 2	Tanaman 3	Tanaman 4	Tanaman 5	Rata-rata
Kelompok A	30 cm	32 cm	35 cm	28 cm	33 cm	
Kelompok B	29 cm	34 cm	30 cm	32 cm	31 cm	

Ketikkan jawabanmu pada kolom diatas ya 👆

Kelompok manakah yang memiliki rata-rata tinggi tanaman paling tinggi?

Ketikkan jawabanmu pada kolom diatas ya 👆

LIVEWORKSHEETS