Sekolah Dasar

Tahun Ajaran
2024/2025

# MATEMATIKA

Disusun Oleh:

Kadek Tasya Wiryantini

LIVEWORKSHEETS

# LKPD

## Lembar Kerja Peserta Didik

### Penjumlahan susun 2 bilangan

Nama : _____

Kelas : _____

LIVEWORKSHEETS

# Petunjuk penggunaan E - LKPD

- Isilah identitas pada kolom yang tersedia
- Kerjakan e-LKPD sesuai dengan langkah dan petunjuk yang tertera
- Setelah selesai mengerjakan kumpulkan e-LKPD dengan memilih menu "finish" ➡ " Email my answer to my teacher" ➡ masukkan nama ➡ kelas ➡ mata pelajara(matematika) dan ➡ send

LIVEWORKSHEETS

# Mari Berhitung

**Berapa jumlah buah - buahan di bawah ini ?**



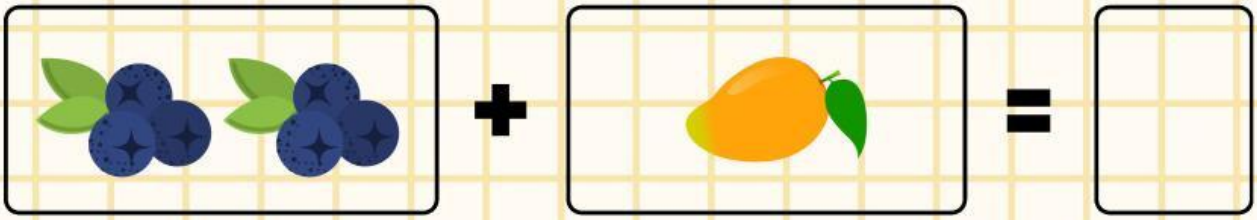


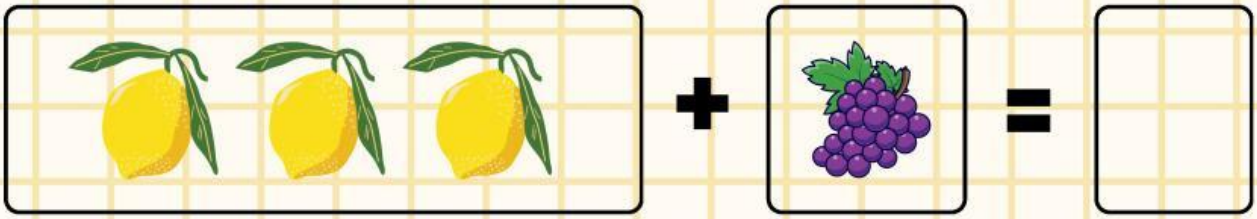





LIVEWORKSHEETS

ayo kerjakan penjumlahan susun di bawah ini !!

$$\begin{array}{r} 14 \\ 24 \\ \hline + \end{array}$$

$$\begin{array}{r} 21 \\ 11 \\ \hline + \end{array}$$

$$\begin{array}{r} 10 \\ 12 \\ \hline + \end{array}$$

$$\begin{array}{r} 22 \\ 12 \\ \hline + \end{array}$$

$$\begin{array}{r} 15 \\ 12 \\ \hline + \end{array}$$

$$\begin{array}{r} 20 \\ 10 \\ \hline + \end{array}$$

$$\begin{array}{r} 14 \\ 14 \\ \hline + \end{array}$$

$$\begin{array}{r} 12 \\ 12 \\ \hline + \end{array}$$

$$\begin{array}{r} 10 \\ 4 \\ \hline + \end{array}$$

$$\begin{array}{r} 23 \\ 4 \\ \hline + \end{array}$$

$$\begin{array}{r} 40 \\ 12 \\ \hline + \end{array}$$

$$\begin{array}{r} 20 \\ 14 \\ \hline + \end{array}$$

Selamat Mengerjakan

LIVEWORKSHEETS

ayo kerjakan dengan cara cocokan jawaban dengan tepat !!

| | |
|---|---|
| 4 + 6 = | 31 |
| 11 + 6 = | 10 |
| 11 + 12 = | 17 |
| 21 + 10 = | 23 |

Selamat Mengerjakan

LIVEWORKSHEETS