LKPD

BANGUN DATAR

Perhatikan gambar berikut:

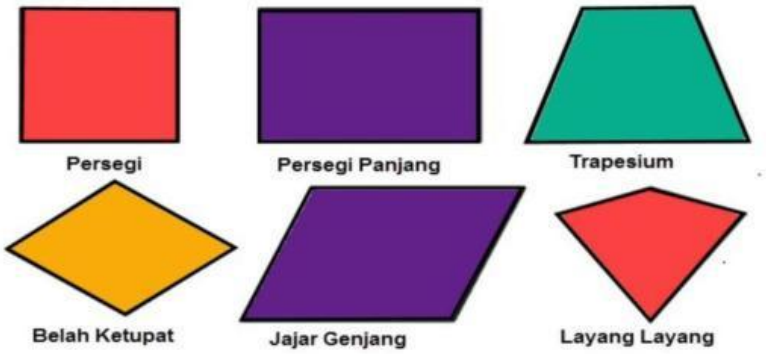

Perhatikan video berikut ini :

LIVEWORKSHEETS

Perhatikan materi presentasi berikut ini :

Materi **Materi**

LIVEWORKSHEETS

1

TEKSFILED

Bangun datar segi empat yang keempat sisanya sama panjang dan keempat sudutnya siku-siku atau 90˚ adalah...

2

SINGLE CHOICE

Berikut ini yang bukan merupakan bangun datar adalah....

3

CHECKBOXES

Pernyataan yang benar adalah....

- Persegi memiliki 4 sisi
- lingkaran memiliki 6 sisi
- segitiga memiliki 3 sisi

4

SELECT

nama bangun datar dibawah ini adalah...

- persegi
- segitiga
- persegi panjang
- lingkaran

LIVEWORKSHEETS

5

WORD SEARCH

Tentukan 3 kata pada kotak dibawah ini...

S	S	I	S	I
M	U	L	I	N
O	S	D	K	T
D	K	C	U	K
U	G	X	M	T

6

SPEAK

Sebutkan nama bangun datar berikut dengan tepat !

7

LISTENING

Dengarkan suara berikut dantuliskan jawabannya dengan tepat !

LIVEWORKSHEETS

8

DRAG & DROP

Tentukan rumus yang sesuai dengan gambar!

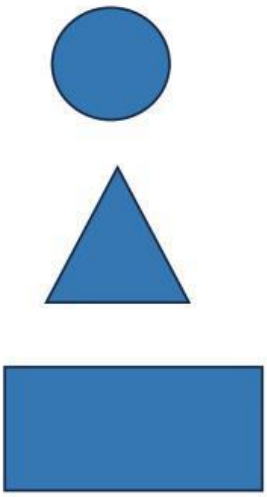

$L = \frac{1}{2}$ x alas x tinggi
L = Panjang x lebar
L = π x r x r

9

JOIN

Buatlah garis ke jawaben yang benar !

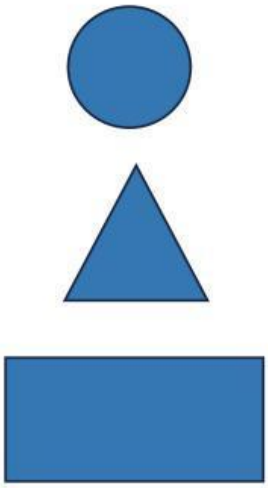

Persegi panjang
Lingkaran
Segitiga

LIVEWORKSHEETS

LIVEWORKSHEETS