Actividad de cierre: Area y Perimetro

⇒Como primer nivel deben encontrar el código escondido entre las áreas y perímetros de las siguientes figuras geométricas.

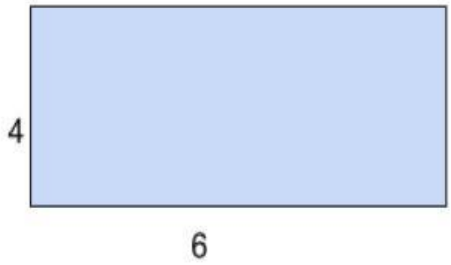

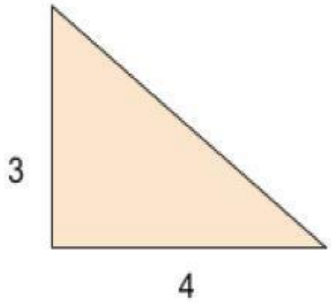

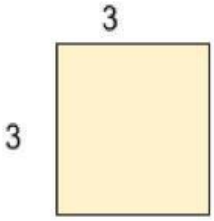

- El Perimetro del rectangulo el ⇨ ☐ ☐
- El area del rectangulo es ⇨ ☐ ☐
- El área del cuadrado es ⇨ ☐
- El área del triángulo es ⇨ ☐

LIVEWORKSHEETS

Momento de abrir el candado!!

<u>Nivel 2.</u>

Decidan si las siguientes afirmaciones son Verdaderas (V) o Falsas (F).

- *El área de un rectángulo de 4cm de ancho por 8cm de largo es de 32cm* ⇨
- *El perímetro de un rectángulo se obtiene al multiplicar la base por altura* ⇨
- *El sum de una escuela mide 5x8m. En el mismo hay un escenario de 2x3m, el lugar libre del sum es de 46m* ⇨

LIVEWORKSHEETS

- *El perímetro de un triángulo de lados de 3cm, 3cm y 4,2 cm es de 10,2cm* ⇨

Ahora ingresen como codigo los V o F de las respuestas , asi se les permitirá abrir la puerta y pasar al siguiente nivel!!

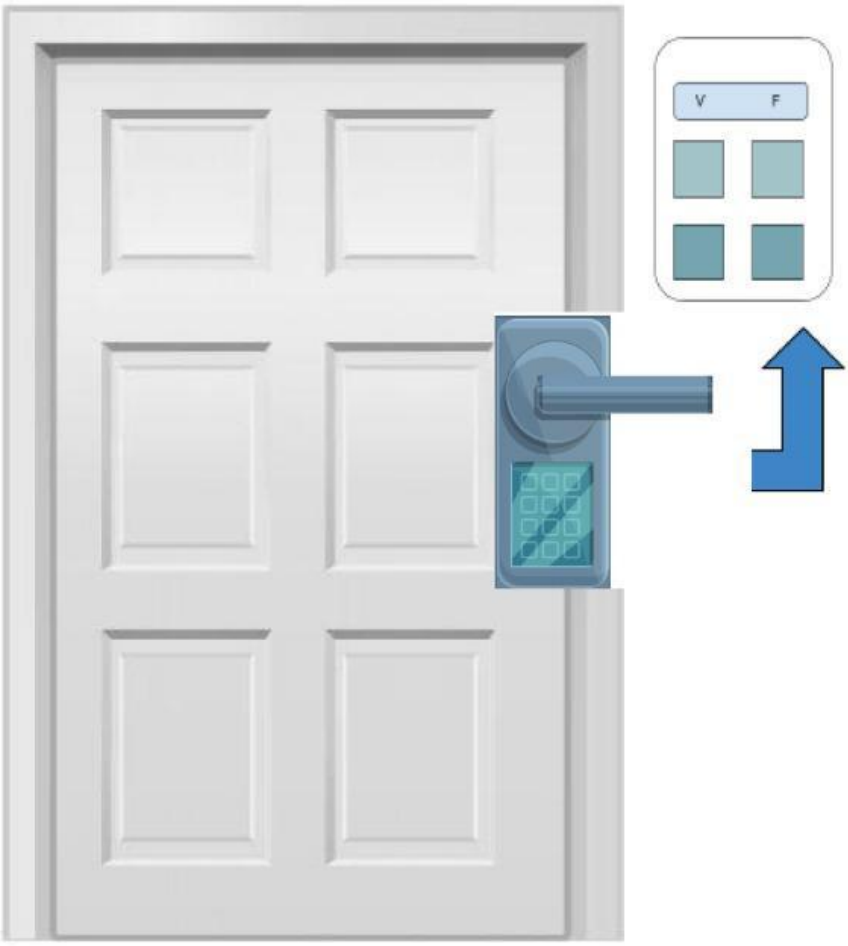

<u>NIvel 3:</u>

A continuación se encuentra un castillo formado por las siguientes figuras geométricas :

LIVEWORKSHEETS

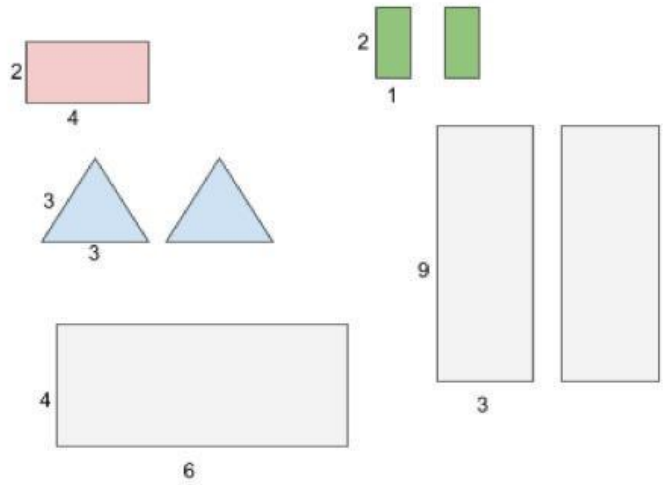

Grafico del castillo

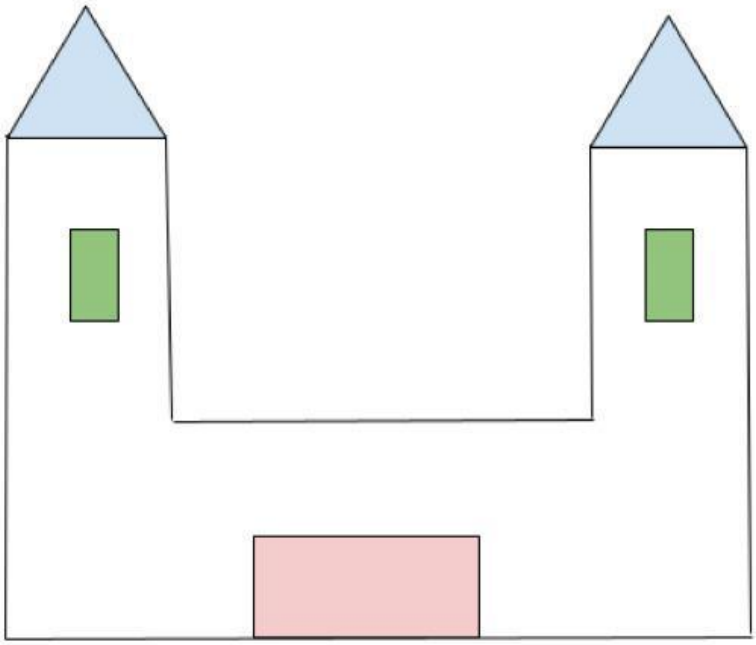

Para superar este nivel deberán responder las siguientes preguntas:

- *¿Cuál es el área del castillo?*
- *¿Cuál es el perímetro del castillo?*

LIVEWORKSHEETS

AVERIGUAR	N°	LETRA
Área del rectángulo gris, menos el área del rectángulo rosa		
Área de los triángulos rosas		
Tercer dígito del área total del castillo		
MItad del area del triangulo celeste		
Mitad del rectángulo de medidas 4x6		
Segundo dígito del perímetro total del castillo		
Suma de las áreas de los rectángulos rosas y verdes		

Nivel 4

- ***Con las letras que obtuvieron al completar la tabla del nivel anterior , completen las casillas correspondientes para formar la frase que les permitirá terminar el juego.***

LIVEWORKSHEETS

1 2 3 4 1 3 1 1 2

2 5 3 4 5 1 6 5

5 7 3 8 5 4 3 1 2

1 4 8 1 4 6 1

1 2 6 7 6 4 7 6 1

5 7 3 8 5 4 3

LIVEWORKSHEETS