LKPD

BANGUN DATAR

Perhatikan video berikut ini !

Perhatikan materi presentasi berikut ini !

LIVEWORKSHEETS

LKPD

BANGUN DATAR

1

TEKSFIELD

Bangun datar segi empat yang keempat sisinya sama panjang dankeempat sudutnya siku-siku atau 90° adalah.....

2

SINGLE CHOICE

Berikut yang bukan merupakan bangun datar adalah...

3

CHECKBOXES

Pernyataan yang benar adalah....

- [ ] Persegi memiliki 4 sisi
- [ ] Lingkaran memiliki 6 sisi
- [ ] Segitiga memiliki 3 sisi.

4

SELECT

Nama bangun datar di bawah ini adalah....

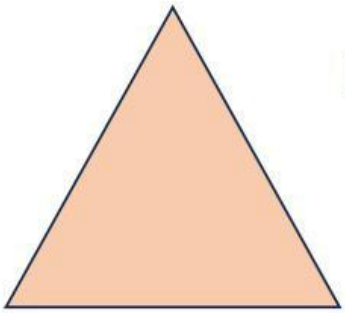

- [ ] Persegi
- [ ] Segitiga
- [ ] Persegi Panjang
- [ ] Lingkaran

LIVEWORKSHEETS

5 WORD SEARCH

Temukan 3 kata pada kotak di bawah ini.

S	S	I	S	I
M	U	L	I	N
O	S	D	K	T
D	K	C	U	K
U	G	X	M	T

6 SPEAK

Sebutkan nama bangun datar berikut dengan tepat !.

7 LISTENING.

Dengarkan suara berikut dan tuliskan jawabannya dengan tepat!.

LIVEWORKSHEETS

8

DRAG AND DROP

Tentukan rumus yang sesuai dengan gambar.



$L = \frac{1}{2}$ x Alas x Tinggi

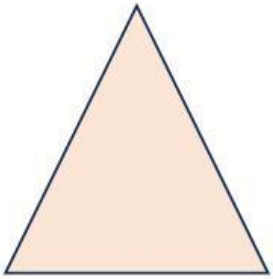

L = Panjang x lebar.

L = $\pi \; x \; r \; x \; r$.

LIVEWORKSHEETS