LKPD Bangun Datar

Bangun Datar

Nama:

Kelas:

Isikan jawaban yang benar pada kolom yang tersedia!



Nama Bangun Datar :

Jumlah Sisi :

Jumlah Sudut :

Jumlah Diagonal :

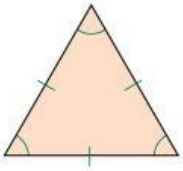

Nama Bangun Datar :

Jumlah Sisi :

Jumlah Sudut :

Jumlah Diagonal :

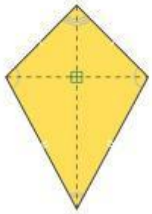

Nama Bangun Datar :

Jumlah Sisi :

Jumlah Sudut :

Jumlah Diagonal :

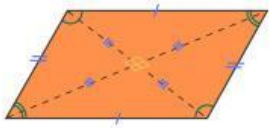

Nama Bangun Datar :

Jumlah Sisi :

Jumlah Sudut :

Jumlah Diagonal :

LIVEWORKSHEETS

CIRI & SIFAT BANGUN DATAR

Cermati gambar dibawah kemudian tarik garis dan pasangkan dengan pernyataan yang benar!

- Memiliki 4 sisi sama panjang
- 4 sudut siku-siku yang sama besar

- Memiliki 4 sisi, kedua sisi yang saling berhadapan sama panjang dan sejajar

- Memiliki satu titik pusat
- Jumlah derajat sebesar 360 derajat



- Memiliki 3 sisi yang sama panjang
- Memiliki 3 sudut yang sama besar

- Memiliki 6 sisi yang sama panjang
- Memiliki 6 sudut yang sama besar

LIVEWORKSHEETS

Jawablah pertanyaan di bawah ini dengan melingkari pada jawaban yang benar!

Benda di bawah ini yang termasuk bangun datar persegi adalah?

a

b

c

Benda di bawah ini yang termasuk bangun datar segitiga adalah?

a

b

c

Benda di bawah ini yang termasuk bangun datar layang-layang adalah?

a

b

c

Benda di bawah ini yang termasuk bangun datar persegi panjang adalah?

a

b

c

Benda di bawah ini yang termasuk bangun datar lingkaran adalah?

a

b

c

LIVEWORKSHEETS

Temukan 5 macam-macam bangun datar pada tabel dibawah ini

G	B	I	B	M	A	U	S	A	T
E	A	S	E	G	I	T	I	G	A
L	T	Z	L	O	T	B	N	V	A
I	T	R	A	P	E	S	I	U	M
N	B	E	H	E	I	R	G	A	A
G	A	V	K	R	M	N	O	M	S
K	R	B	E	S	R	R	A	I	B
A	A	U	T	E	R	A	A	E	U
R	A	N	U	G	N	X	S	A	M
A	S	S	P	I	T	Q	O	L	N
N	I	N	A	I	K	B	U	M	I
M	A	T	T	H	A	R	I	U	X

LIVEWORKSHEETS

Isi TTS di Bawah ini

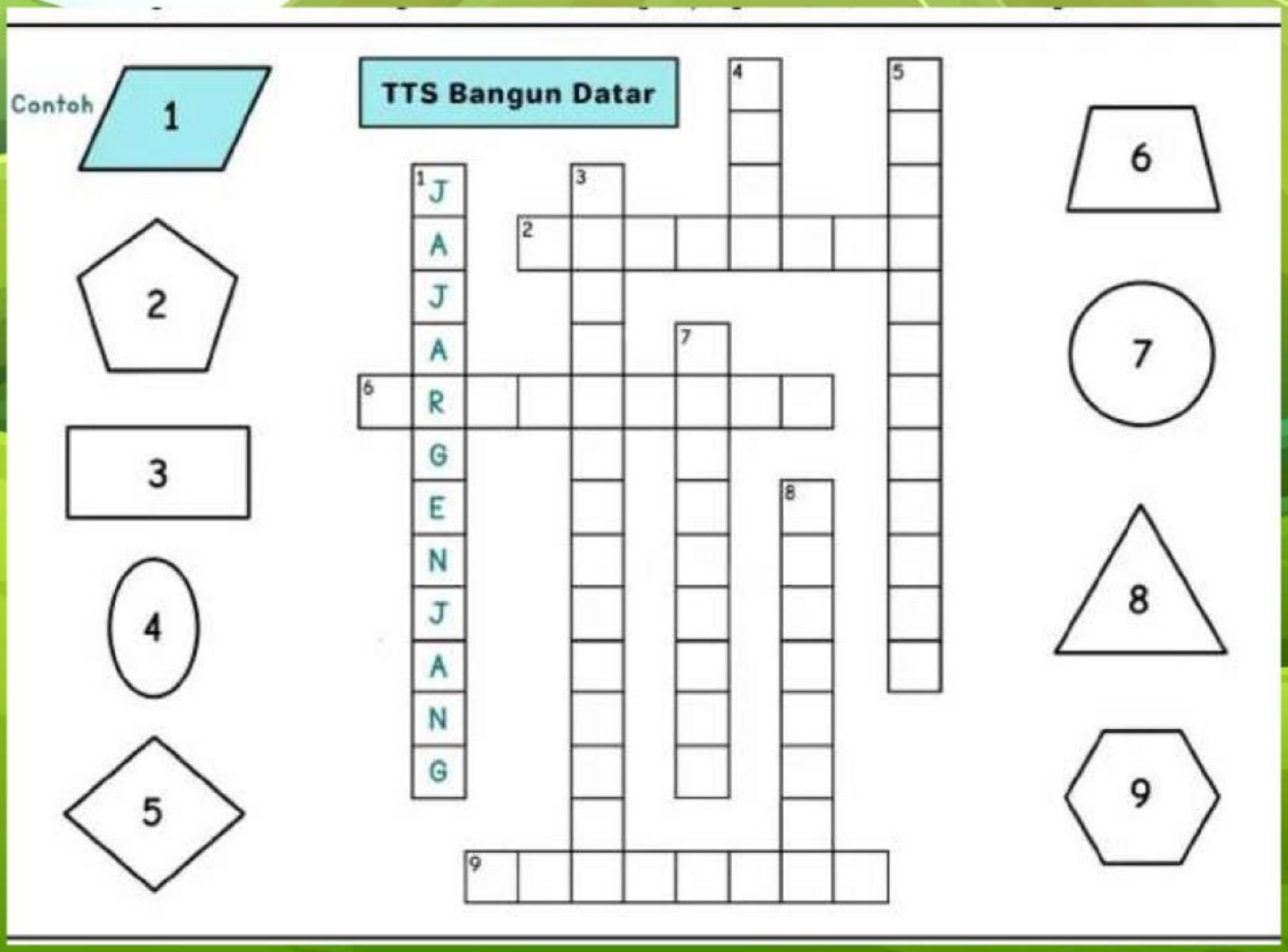

LIVEWORKSHEETS