Lembar Kerja Peserta Didik

1. **Pasangkan bangun dibawah ini yang sesuai dengan menarik garis!**

Balok

Kubus

Limas

Prisma

2. Isilah unsur-unsur prisma segitiga dengan benar!

Banyak rusuk prisma segitiga adalah

Banyak titik sudut prisma segitiga adalah

Banyak sisi prisma segitiga adalah

3. Isilah unsur-unsur kubus dengan benar!

Banyak rusuk prisma kubus adalah

Banyak titik sudut kubus segitiga adalah

Banyak sisi kubus adalah

LIVEWORKSHEETS

4. Perhatikan gambar berikut!



Nama bangun

Banyak sisi

Banyak titik sudut

Banyak rusuk

5. Perhatikan gambar berikut!

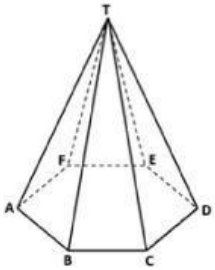

Nama bangun

Banyak sisi

Banyak titik sudut

Banyak rusuk

6. Yang termasuk diagonal ruang bangun disamping adalah...

- AF, AG, HB, EG
- AG, HB, EC, DF
- EC, BD, AC, AE
- DE, EC, DF, EB

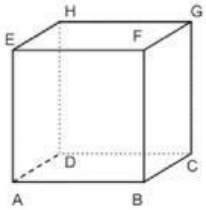

7.



AC, BD, EG, HF, AF, EB,CH, DG, AH, ED,BG,dan CF

Termasuk unsur balok

8. Perhatikan gambar dibawah ini centang pada jawaban yang sesuai

Agar terbentuk jaring-jaring balok, maka bidang yang harus dihilangkan bidang nomor...

- 1
- 2
- 3
- 4
- 5
- 6
- 7
- 8
- 9

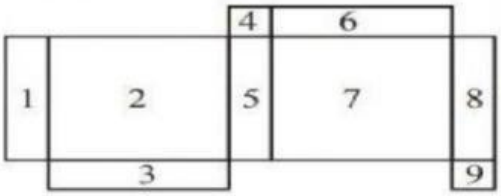

LIVEWORKSHEETS