7 $\frac{1}{5}$ cm = ... mm

$\frac{1}{10}$ dm = ... cm

$\frac{1}{2}$ dm = ... cm

$\frac{1}{2}$ m = ... cm

8 Užpildyk lenteles.

Kvadrato	
kraštinės ilgis	perimetras
8 cm	
	120 cm

Stačiakampio		
ilgis	plotis	perimetras
8 cm	6 cm	
18 cm		60 cm

9 Trikampio perimetras 70 cm. Apskaičiuok nežinomą kraštinės ilgį.

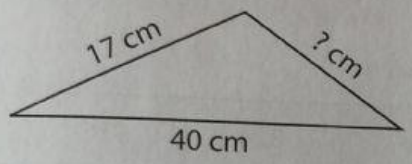

(.....)

10 Kvadrato perimetras 28 cm. Koks jis bus, jeigu kiekvieną kvadrato kraštinę pailginsime 3 cm?

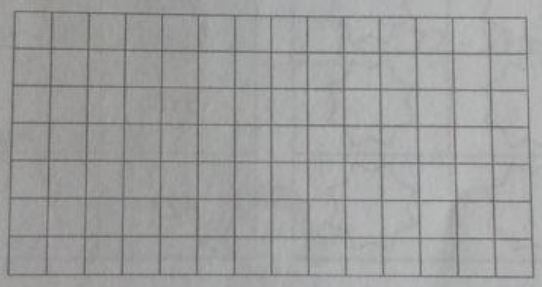

Teisingai atlikęs visas užduotis, galėjai surinkti 30 riešutėlių.

Tavo krepšelyje yra 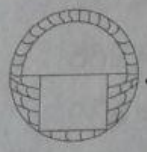 .

Įvertinimas .....

.....

LIVEWORKSHEETS