E-LKPD

Lembar Kerja Peserta Didik

SUDUT DALAM GENGGAMAN: MENGAMATI, MENGUKUR, DAN MENGKLASIFIKASIKAN SUDUT DI SEKITAR KITA

FASE : C
BAB : 6
TOPIK : SUDUT
ELEMEN CAPAIAN : MATEMATIKA

KELAS

V

Semester I

Nama : _____

Absen : _____

LIVEWORKSHEETS

Capaian Pembelajaran

Peserta didik mengklasifikasikan jenis-jenis sudut serta menghitung besar sudut tersebut berdasarkan kegiatan yang diamati.

Tujuan Pembelajaran

1. Peserta didik mampu mengklasifikasikan jenis sudut melalui kegiatan menyimak video yang ditampilkan dengan benar.
2. Peserta didik mampu menghitung besar sudut dengan bantuan busur derajat dengan benar.

LIVEWORKSHEETS

PETUNJUK BELAJAR

Tulislah identitas diri pada kolom yang telah disediakan

Bacalah petunjuk pada setiap kegiatan

Tanyakan kepada guru jika terdapat kesulitan dalam pengerjaan soal.

Kerjakan setiap soal dengan teliti

Waktu pengerjaan 40 menit

LIVEWORKSHEETS

INFORMASI MATERI

AYO BELAJAR!

Dalam mengukur besar sudut dapat menggunakan busur derajat. Busur derajat adalah alat berbentuk setengah lingkaran yang mempunyai tanda derajat dari 0 sampai 180 derajat. Berikut cara mengukur besar sudut menggunakan busur derajat.

LIVEWORKSHEETS

MARI KITA SIMAK VIDEO BERIKUT!



Andi bersama temannya akan mengikuti kegiatan pembelajaran olahraga pada hari Jumat. Sebelum melakukan kegiatan olahraga tersebut guru meminta siswa untuk melakukan pemanasan terlebih dahulu seperti pada video di atas, sehingga mereka mencoba beberapa gerakan.

LIVEWORKSHEETS

MARI KITA MENGKLASIFIKASI

Berdasarkan video di atas, coba klasifikasikan 4 gerakan pemanasan olahraga yang membentuk sudut!

JENIS SUDUT :

ILUSTRASI SUDUT :

NOMOR GERAKAN :

JENIS SUDUT :

ILUSTRASI SUDUT :

NOMOR GERAKAN :

JENIS SUDUT :

ILUSTRASI SUDUT :

NOMOR GERAKAN :

JENIS SUDUT :

ILUSTRASI SUDUT :

NOMOR GERAKAN :

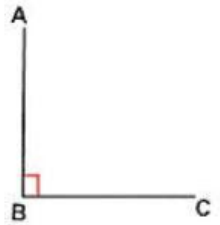

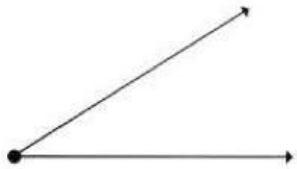

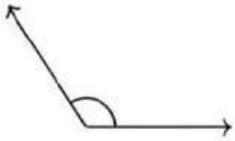

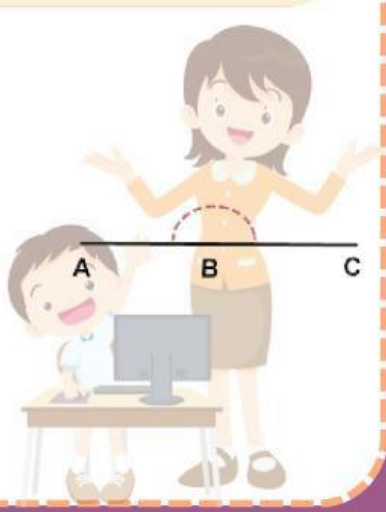

LIVEWORKSHEETS

Perhatikan gerakan yoga di bawah! Ayo pasangkan banyak sudut sesuai gerakan berikut!

Mempunyai 4 sudut siku-siku dan 1 sudut lurus

Mempunyai 3 sudut tumpul

Mempunyai 3 sudut siku-siku dan 1 sudut tumpul

Mempunyai 1 sudut lurus dan 1 sudut lancip

LIVEWORKSHEETS

MARI KITA MENGHITUNG

Berdasarkan bentuk sudut yang dibentuk oleh gerakan pemanasan olahraga, ayo kita hitung kira - kira berapa besar sudut yang dibentuk dengan bantuan busur derajat!

Contoh

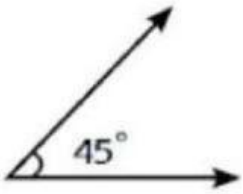

1. Jenis Sudut : Sudut Lancip
2. Besar Sudut : 45 derajat

1

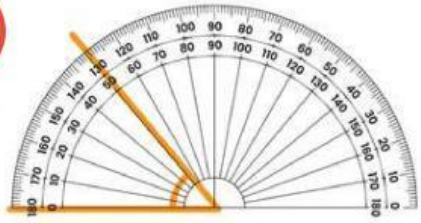

1. Jenis Sudut :
2. Besar Sudut :

2

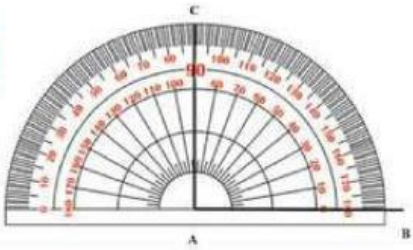

1. Jenis Sudut :
2. Besar Sudut :

3

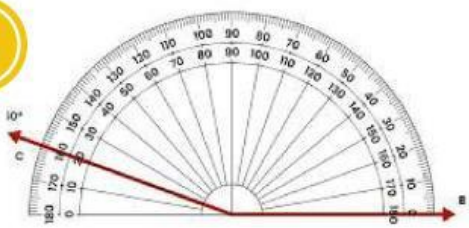

1. Jenis Sudut :
2. Besar Sudut :

4

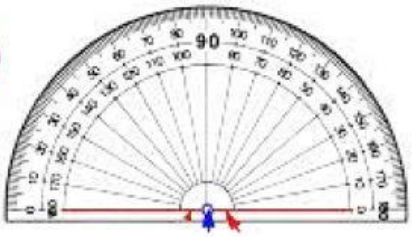

1. Jenis Sudut :
2. Besar Sudut :

LIVEWORKSHEETS

MARI MENYIMPULKAN

Setelah kalian mempelajari dan mengerjakan soal tentang sudut, ayo simpulkan dan refleksi materi yang telah kalian pelajari.

Kesimpulan

Refleksi

1.Bagaimana perasaan kalian setelah mempelajari materi jenis - jenis sudut dan besar sudut?

2. Apakah ada kesulitan saat kalian belajar?

3. Hal apa yang paling kalian sukai dan tidak sukai dalam belajar materi jenis - jenis sudut dan besar sudut?

LIVEWORKSHEETS

RUBRIK PENILAIAN

Silahkan klik link di bawah ini agar kalian mengetahui rubrik penilaian dari soal - soal yang sudah kalian jawab!

CLICK HERE

LIVEWORKSHEETS

Selamat Mengerjakan

LIVEWORKSHEETS