salesianos BARAKALDO

Izen - Deiturak: _____ Maila: _____ Znbk.: _____
Nombre y Apellidos Curso Número

Irakasgaia: _____ Data: _____
Asignatura Fecha

1. Kokatu zenbakiak zuzenean.

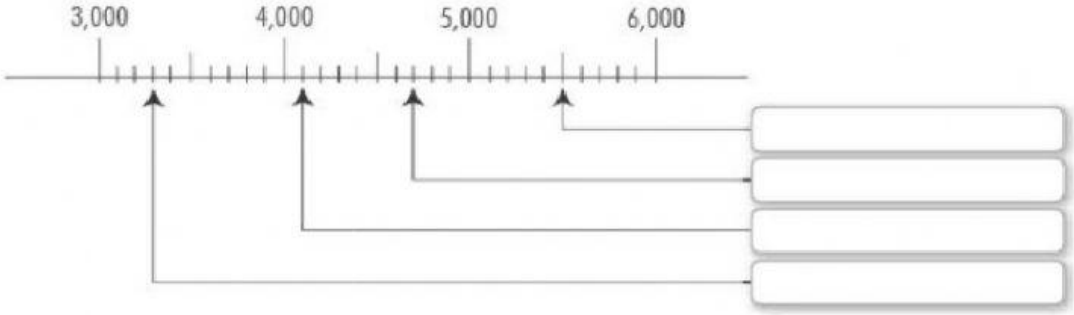

0.7 1.6 2.5 3.9

2. Zenbat kubo daude guztira?

e)

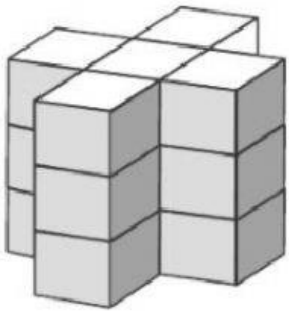

f)

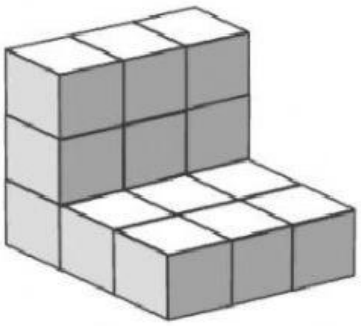

3. Jarraitu adibideari eta deskonposatu.

2,95= 2 B + 9 h + 5e

LIVEWORKSHEETS

salesianos BARAKALDO

Izen - Deiturak: _____ Maila: _____ Znbk.: _____
Nombre y Apellidos Curso Número

Irakasgaia: _____ Data: _____
Asignatura Fecha

256,25=

39,09

999,99=

12,45=

4. Bete berdintza hauek

36 hg = _____ g

0,03 dag = _____ cg

2,8 dg = _____ dag

17,5 mg = _____ g

1,750kg= _____ gr

5,300kg= _____ gr

3,480kg= _____ gr

6,890kg= _____ gr

24,014kg= _____ gr

5.Kalkulatu

a) 80 minutu → _____ + _____ → _____ ordu eta _____ minutu

b) 90 minutu → _____ + _____ → _____ ordu eta _____ minutu

c) 100 minutu → _____ + _____ → _____ ordu eta _____ minutu

d) 200 minutu → _____ + _____ → _____ ordu eta _____ minutu

e) 165 minutu → _____ + _____ → _____ ordu eta _____ minutu

LIVEWORKSHEETS