3. Padankan aktiviti manusia yang berikut dengan pengaruh cuaca yang betul. **TP 3**

Aktiviti manusia	Pengaruh cuaca
	• Musim tengkujuh • Laut bergelora
	• Panas dan lembap sepanjang tahun • Suhu 27°C dan hujan kira-kira 2 600 mm
	• Suhu antara 18°C hingga 21°C • Hujan melebihi 2 000 mm
	• Suhu air laut antara 20°C hingga 30°C • Iklim yang panas dan lembap

Scanned with CamScanner
LIVEWORKSHEETS

4 Nyatakan kesan-kesan hujan asid. TP5

(a)

(b)

(c)

(d)

5 Berdasarkan rajah berikut, huraikan proses hujan asid mengikut peringkat.

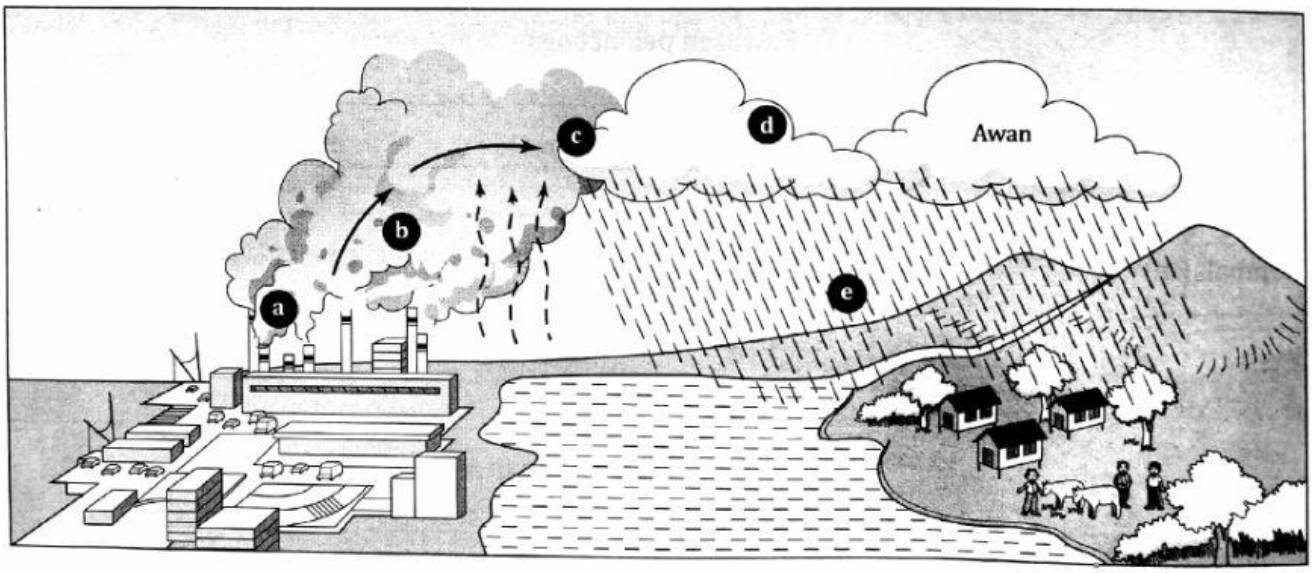

Proses hujan asid

a

b

c

d

e

Scanned with CamScanner
LIVEWORKSHEETS

6. Lengkapkan peta pemikiran di bawah. Subtopik 4.3

i-THINK Peta pelbagai alir

BUKU TEKS m.s. 58

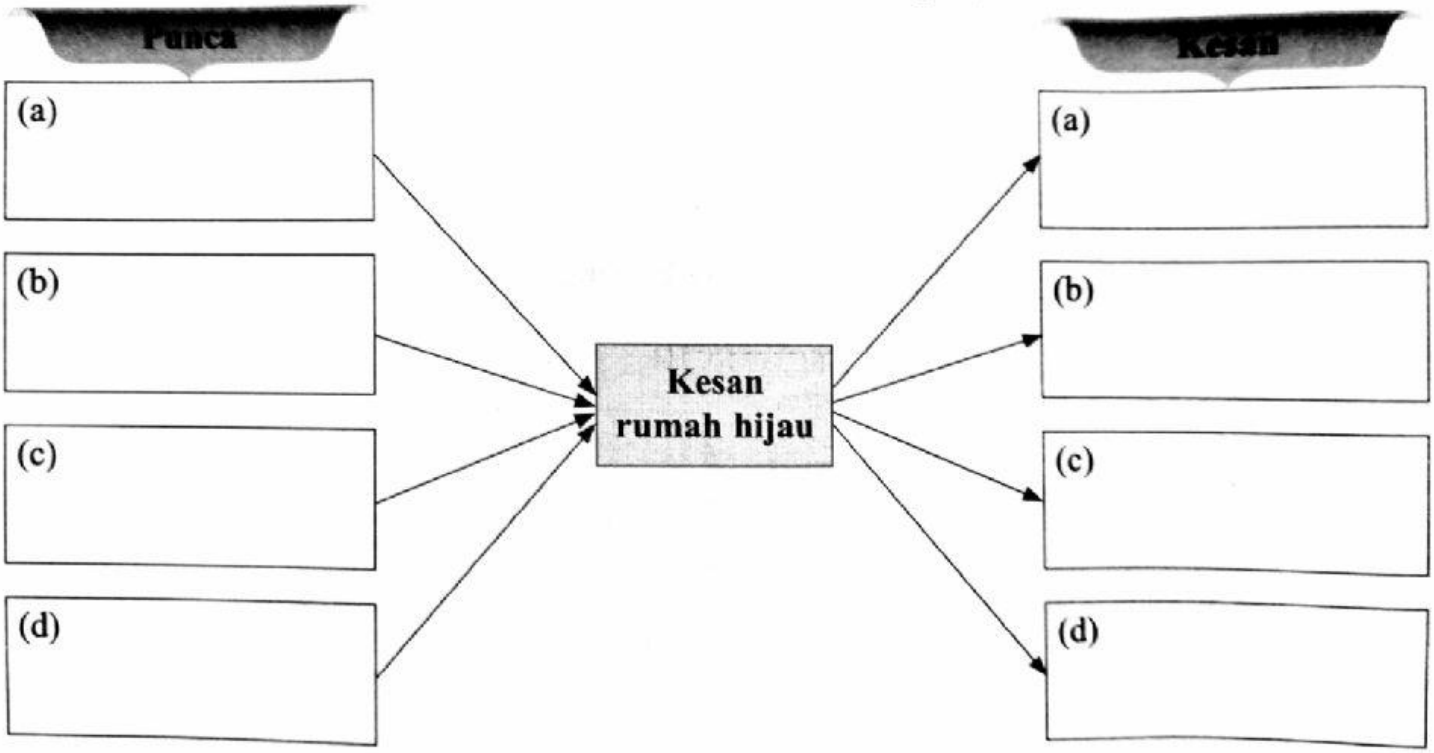

LIVEWORKSHEETS
Scan this worksheet