ورقة عمل تفاعلية إعداد المدرّس هيسم أبو سعيد

المادة رياضيات للصف السادس الوحدة الخامسة ف 2

- - - - - - - - - - - - - - - - - - -

اختر الإجابة الصحيحة من القائمة المنسدلة:

53.34+22.17=

132.34+14.3=

657-1.45=

17.2*5=

43.1*2.1=

6.374*10=

6.374*100=

6.374*1000=

47.65/5=

LIVEWORKSHEETS

68.74/2=

45.2/10=

45.2/100=

45.2/1000=

من واحدات قياس الطول:

الواحدة الأنسب لقياس طول القلم هي:

الواحدة الأنسب لقياس المسافة بين دمشق وحمص هي:

7.2km= m

12.2m= cm

LIVEWORKSHEETS

الشكل المجاور:

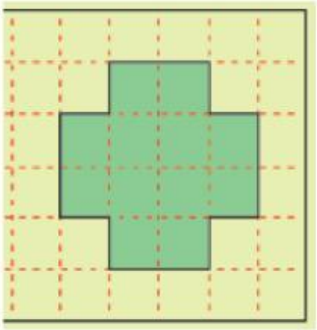

محيطه =

مساحته =

على اعتبار أن π=3.14 ، دائرة نصف قطرها 5cm فيكون محيطها =

ومساحتها =

الشكل المجاور:

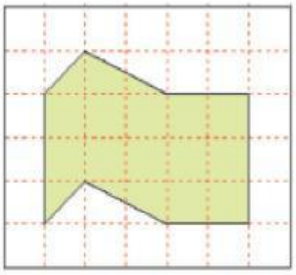

مساحته =

في الشكل التالي:



الشكلان 1 و 2:

الشكلان 1 و 8:

LIVEWORKSHEETS

الشكلان 5 و 10:

في الشكل التالي:

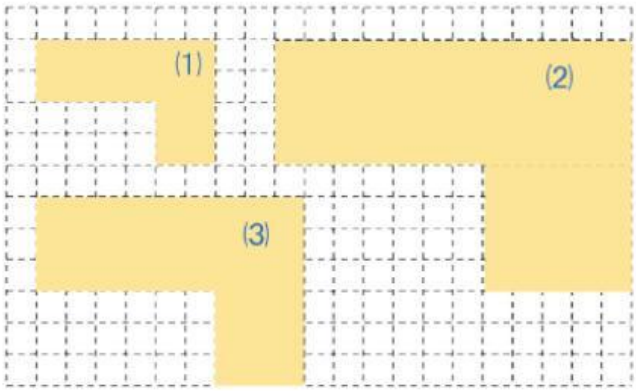

الشكلان المتشابهان هما:

انتهت الأسئلة

أمنياتي لكم بالتوفيق

LIVEWORKSHEETS