PEMERINTAH KABUPATEN LUWU TIMUR
DINAS PENDIDIKAN
SDn No. 264 WAWONDULA
Alamat : Jl. Gunung Agung No. 01, Wawondula Kecamatan Towuti

SOAL ULANGAN TENGAH SEMESTER

Mata Pelajaran : Matematika
Kelas/Semester : V / 2
Tahun Pelajaran :2020 /2021

Nama Siswa : .....
Nomor Absen : .....

KD 3.5

1. Sebuah Balok adalah bangun ruang yang dibentuk oleh bangun datar ....
   A. persegi panjang dan lingkaran
   B. persegi panjang
   C. persegi panjang dan persegi
   D. persegi panjang dan segitiga

2. Bangun kubus mempunyai sisi sebanyak ....
   a. 3
   b. 4
   c. 5
   d. 6

3. Balok mempunyai jumlah rusuk sebanyak ....
   a. 12 buah
   b. 15 buah
   c. 6 buah
   d. 8 buah

4. Hitunglah volume gambar disamping ini !
   a. 124.700 cm3
   b. 124.800 cm3
   c. 125.700 cm3
   d. 125.800 cm3

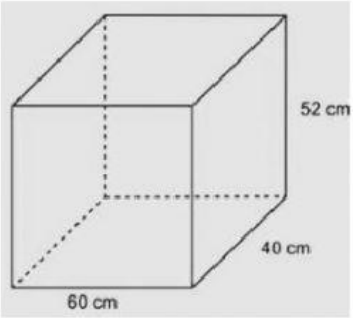

5. Hitunglah volume gambar disamping ini !
   a. 5.831 cm3
   b. 5.832 cm3
   c. 5.833 cm3
   d. 5.834 cm3

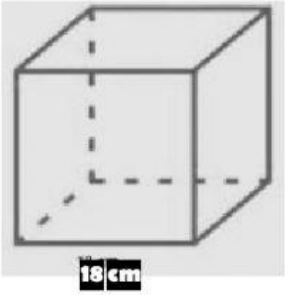

KD 3.6

6. Jaring-jaring di bawah merupakan jaring-jaring .....

LIVEWORKSHEETS

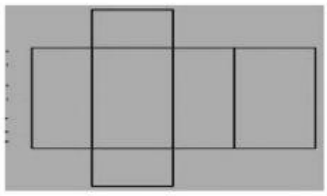

7. Perhatikan gambar disamping ini!
   Jika nomor 4 alas, maka sisi atas balok adalah nomor …..

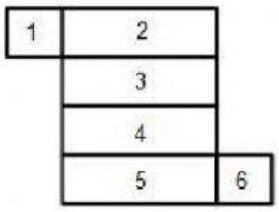

8. Jaring – jaring kubus di bawah jika dibuat kubus sehingga sisi "c" sebagai atas, maka yang berada di sisi alas adalah …..

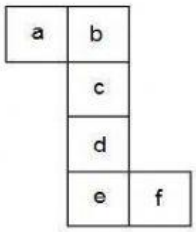

9. Gambar di bawah ini adalah jaring - jaring …..

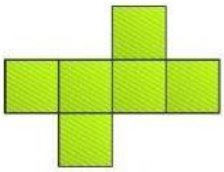

10. Jika **D** adalah alas, maka yang menjadi tutup (atas) kubus adalah . .

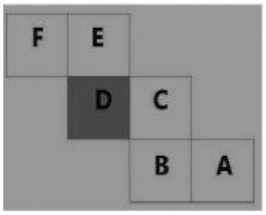

LIVEWORKSHEETS