# LKPD

## Lembar Kerja Peserta Didik

**MATEMATIKA**

**BANGUN SEGI BANYAK**

Nama : _____

Kelas : _____

**KELAS 4**


Disusun Oleh:

**Nita Febriani**

23011040119


LIVEWORKSHEETS

# Aktivitas I

## Menggambar Bentuk Segi Banyak

Satuan Pendidikan : Sekolah Dasar
Kelas/ Semester : IV/II
Materi Pokok : Segi Banyak
Alokasi Waktu : 2JP

## Tujuan Kegiatan

Mengidentifikasi ciri-ciri segi banyak berdasarkan sudut dan sisinya.

## Langkah Kerja

1. Menyiapkan alat dan bahan
2. Menggambar bangun segi banyak sesuai dengan instruksi.

LIVEWORKSHEETS

# Coba gambarlah bangun segi banyak di bawah ini!

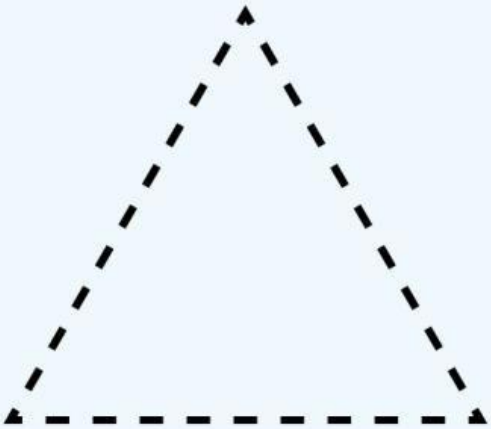

SEGITIGA

PERSEGI

PERSEGI PANJANG

LIVEWORKSHEETS

# Coba gambarlah bangun segi banyak di bawah ini!

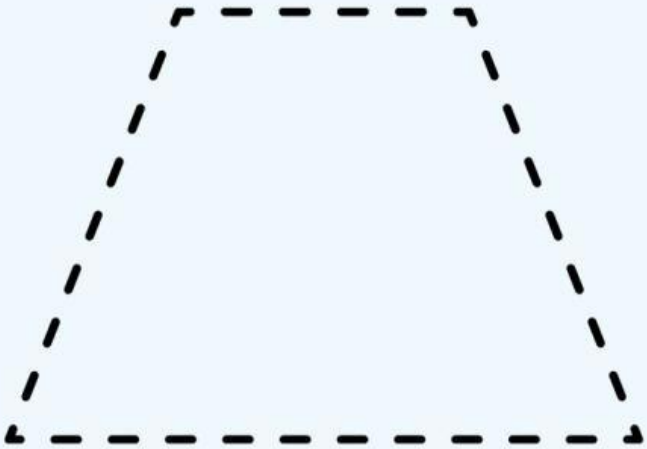

TRAPESIUM

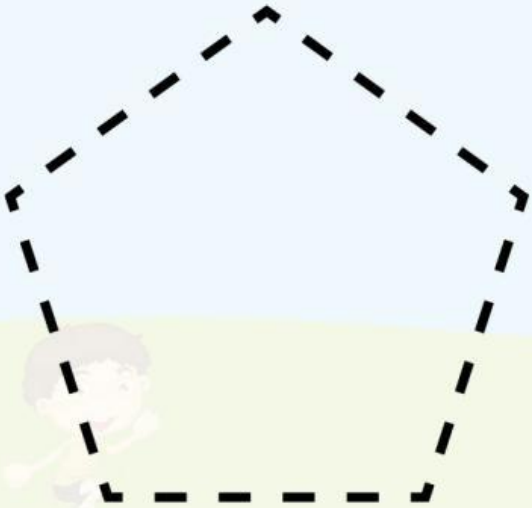

SEGI 5

LIVEWORKSHEETS

# Aktivitas 2

## Mengidentifikasi ciri segi banyak

Satuan Pendidikan : Sekolah Dasar
Kelas/ Semester : IV/II
Materi Pokok : Segi Banyak
Alokasi Waktu : 2JP

## Tujuan Kegiatan

Mengidentifikasi ciri-ciri segi banyak berdasarkan sudut dan sisinya.

## Langkah Kerja

1. Mengamati bentuk segibanyak yang telah terbentuk.
2. Menjodohkan gambar dengan ilustrasi mengenai citi segibanyak

LIVEWORKSHEETS

# Jodohkan ciri-ciri segibanyak dengan gambar yang sesuai

Memiliki 4 sisi

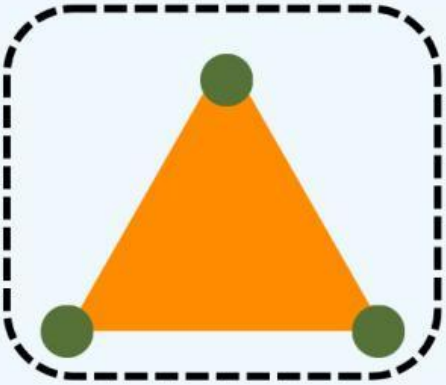

Memiliki 3 sisi

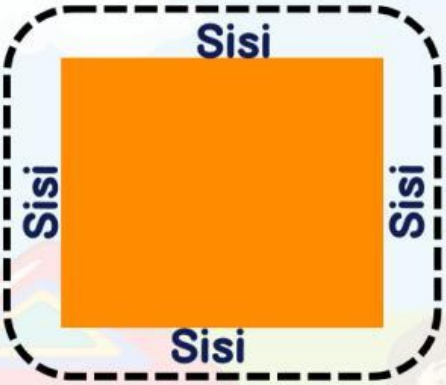


Memiliki 3 sudut

Memiliki 4 sudut

LIVEWORKSHEETS

# Jodohkan ciri-ciri segibanyak dengan gambar yang sesuai

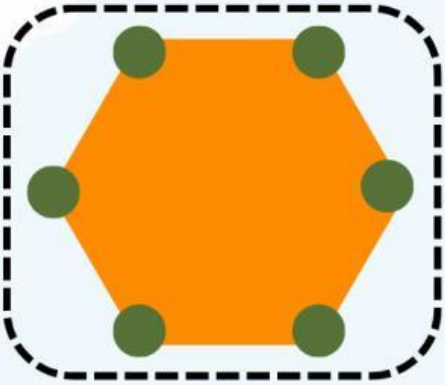

Memiliki 4 sudut

Memiliki 6 sisi

Memiliki 5 sisi

Memiliki 6 sudut

LIVEWORKSHEETS