| Nilai muatan pelajaran MTK | |
|---|---|
| Paraf Guru | Paraf Ortu |
| | |

NAMA : .....

NOMOR : .....

**PEMERINTAH KABUPATEN GUNUNGKIDUL**

**DINAS PENDIDIKAN**

# SD NEGERI WEDIWUTAH

*Alamat : Wediwutah, Ngeposari, Semanu, Gunungkidul 55893*

## ASESMEN SUMATIF AKHIR TAHUN
## TAHUN PELAJARAN 2023/2024

Muatan Ajar : MTK
Kelas : IV (Empat)

Hari/ Tanggal : Jumat, 7 Juni 2024
Waktu : 07.30 – 09.00

**A. Kerjakan soal berikut ini dengan benar!**

**POLA GAMBAR DAN BILANGAN**

1. **Perhatikan pola bilangan berikut:**

   2, 4, 6, 8, ...

   Bilangan berikutnya adalah ...

   a) 9

   b) 10

   c) 11

   d) 12

2. **Perhatikan pola bilangan berikut:**

   1, 3, 5, 7, ...

   Bilangan berikutnya adalah ...

   a) 8

   b) 9

   c) 10

   d) 11

3. **Perhatikan pola bilangan berikut:**

   10, 15, 20, 25, ...

   Bilangan berikutnya adalah ...



LIVEWORKSHEETS

a) 30

b) 35

c) 40

d) 45

4. Perhatikan pola gambar berikut:

Pola bunga selanjutnya adalah:

a.

b.

c.

d.

5. Perhatikan pola gambar berikut:

★
★★
★★★
★★★★

Pola bintang selanjutnya adalah:

a. ★★★★

b. ★★★★★

c. ★★★★ ★★

d. ★★★★

**SUDUT & BANGUN DATAR**

6. Aza mengukur sudut besarnya adalah $105^0$. Sudut tersebut dinamakan sudut . . .

a. tumpul
b. lancip
c. lurus
d. siku-siku



LIVEWORKSHEETS

7. Besar sudut pada gambar tersebut adalah … .

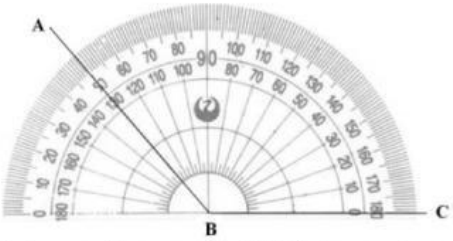


a. $130^0$
b. $120^0$
c. $60^0$
d. $50^0$

8. Sudut yang kurang dari 90° dinamakan….
   a. Siku-siku
   b. Tumpul
   c. lurus
   d. lancip
9. Sudut persegi ada . . . .
   a. 4
   b. 5
   c. 6
   d. 8
10. Jarak di antara dua garis adalah sama pada setiap titiknya dan mereka tidak akan pernah bertemu walaupun diperpanjang. Pernyataan tersebut merupakan ciri-ciri dari dua garis yang...
   a. berpotongan
   b. tegak lurus
   c. berimpit
   d. sejajar
11. Perhatikan gambar berikut!

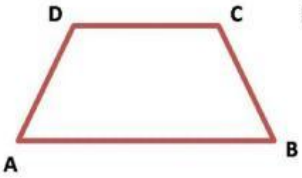


Pasangan dua ruas garis yang sejajar adalah ….
   a. AB dan BC
   b. AB dan DC
   c. DC dan CB
   d. AD dan BC
12. Segiempat yang memiliki empat sisi sama panjang….
   a. Persegi
   b. Jajargenjang
   c. Belah ketupat
   d. Persegi panjang
13. Nama bangun di bawah ini adalah . . . .

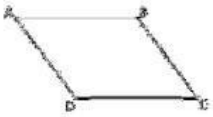

   a. Persegi
   b. Belah ketupat
   c. Jajargenjang
   d. Persegi panjang
14. Nama bangun di bawah ini adalah . . . .



   a. Belah ketupat
   b. Jajargenjang
   c. Persegi
   d. Trapesium
15. Perhatikan gambar berikut!

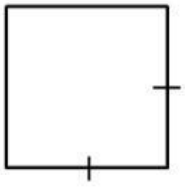

13 cm

Keliling dari gambar tersebut adalah … cm.
   a. 26 cm
   b. 39 cm
   c. 52 cm
   d. 169 cm



LIVEWORKSHEETS

16. Perhatikan gambar berikut!

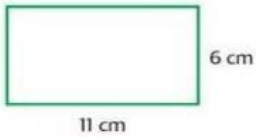


Keliling bangun tersebut adalah . . . . cm

a. 17 cm c. 34 cm

b. 33 cm d. 66 cm

17. Perhatikan gambar berikut!

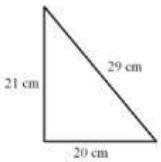


Keliling bangun tersebut adalah . . . . cm

a. 70 cm c. 210 cm

b. 80 cm d. 420 cm

18. Perhatikan gambar berikut!

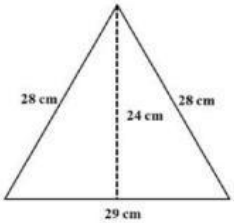


Luas bangun tersebut adalah … $cm^2$

a. 812 $cm^2$ c. 406 $cm^2$

b. 696 $cm^2$ d. 348 $cm^2$

19. Perhatikan gambar berikut!

Luas bangun tersebut adalah … $cm^2$

a. 24 $cm^2$ c. 105 $cm^2$

b. 48 $cm^2$ d. 135 $cm^2$

20. Perhatikan gambar berikut!

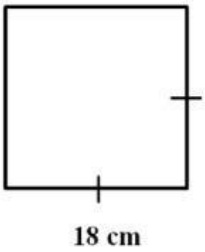


Luas bangun tersebut adalah … $cm^2$

a. 324 $cm^2$ c. 144 $cm^2$

b. 162 $cm^2$ d. 72 $cm^2$

**STATISTIKA**

21. Perhatikan data nilai matematika kelas IV SDN Tunggaknongo berikut.

80, 70, 80, 90, 70, 90, 80, 100, 80, 60, 70, 80, 80, 90, 100, 60, 80, 70, 90, 80

Banyaknya siswa yang mendapat nilai 80 ada … .

a. 9 c. 7

b. 8 d. 4



LIVEWORKSHEETS

Perhatikan diagram batang berikut untuk menjawab soal nomor 22 sampai 26

22. Pengunjung perpustakaan terbanyak adalah hari … .
    a. Senin
    b. Selasa
    c. Rabu
    d. Kamis
23. Selisih pengunjung hari Senin dan hari Rabu adalah … .
    a. 35
    b. 30
    c. 25
    d. 15
24. Pengunjung perpustakaan paling sedikit adalah hari … .
    a. Senin
    b. Selasa
    c. Rabu
    d. Jumat
25. Pengunjung perpustakaan hari Selasa adalah … .
    a. 60
    b. 65
    c. 75
    d. 80
26. Jumlah pengunjung perpustakaan hari Senin sampai Sabtu adalah . . . .
    a. 315
    b. 325
    c. 370
    d. 380
27. Perhatikan tabel tinggi badan siswa kelas IV SDN Wediwutah berikut!

    Dari tabel tersebut, informasi yang tepat adalah … .

| Tinggi badan (cm) | Banyaknya siswa |
|---|---|
| 138 | 6 |
| 139 | 5 |
| 140 | 11 |
| 141 | 10 |
| 142 | 8 |

    a. Jumlah siswa kelas IV SDN Wediwutah adalah 35
    b. Jumlah siswa yang memiliki tinggi badan lebih dari 140 cm adalah 29
    c. Selisih siswa yang memiliki tinggi badan 141 cm dan 139 cm adalah15
    d. Jumlah siswa yang memiliki tinggi badan 138 cm dan 142 cm adalah14



LIVEWORKSHEETS

Perhatikan diagram batang berikut untuk menjawab nomor 28 – 30!

28. Jumlah siswa SD Sanjaya adalah …. .

a. 85 b. 90 c. 95 d. 100

29. Banyak siswa perempuan yang menyukai buah anggur dan apel adalah … .

a. 14 b. 15 c. 16 d. 17

30. Banyak siswa laki-laki yang menyukai buah jeruk dan apel adalah … .

a. 7 b.11 c. 16 d. 18

**VOLUME**

31. Satuan volume yang baku adalah . . . .

a. ml dan liter c. 1 botol B

b. 1 botol A d. 1 botol C

32. Perhatikan gambar berikut ini!

Manakah gambar yang menunjukkan 5 satuan volume?

a.

c.

b.

d.

33. Perhatikan gambar berikut ini!

Volume kotak susu UHT menunjukkan 1000 ml. Jadi volumenya . . . liter.

a. 0,1 liter

b. 1 liter

c. 10 liter

d. 100 liter

34. Ajeng membeli 7 liter 500 *m*l susu. Dia mengkonsumsi 3 liter 700 *m*l susu di siang hari. Berapa banyak susu yang tersisa?

a. 3.800 ml c. 4.200 ml

b. 3.500 ml d. 7.700 ml

35. Nadin membeli 3 liter 250 *m*l susu pada hari Senin, 2 liter 750 *m*l pada hari Rabu dan 3 liter pada hari Jumat. Berapa banyak susu yang dibeli Nadin selama tiga hari?

a. 7 liter c. 9 liter

b. 8 liter d. 9.000 liter



LIVEWORKSHEETS