العنوان	٣٥-١ رسم وقياس الزوايا
الاسـم	الصف

قال تعالى: [وَقُلْ رَبِّ زِدْنِي عِلْمًا] طه : ١١٤

١) اختر قياس الزاوية المشار اليها بعلامة (؟) .

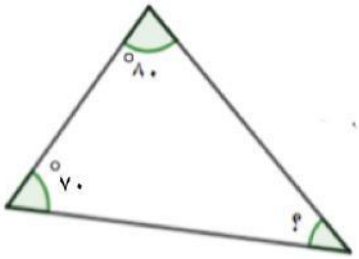

٣٠ ٤٠

١٥٠ ١٨٠

٢) اكتب قياس الزاوية ب في الشكل المقابل.

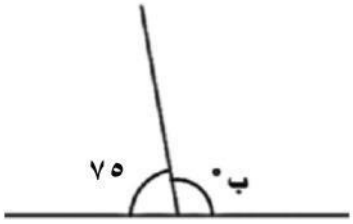

_____

٣) اكتب قياس الزاوية المشار اليها بالعلامة (؟)

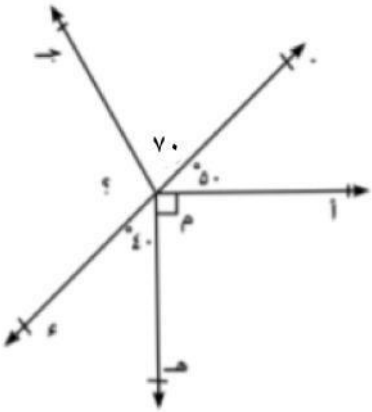

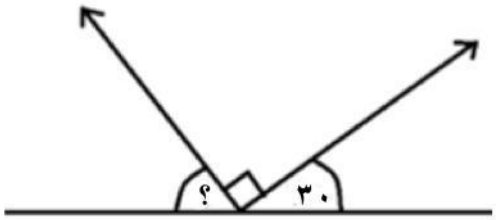

٤) اكتب قياس الزاوية س.

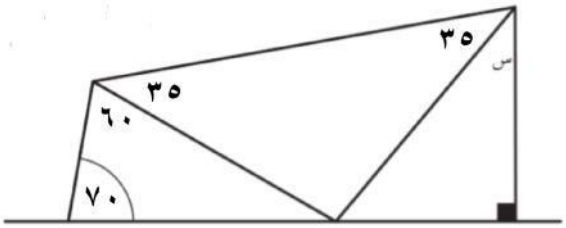

قياس الزاوية س =

LIVEWORKSHEETS