سلطنة عُمان
وزارة التربية والتعليم

نسخة احتياطية

المديرية العامة للتربية والتعليم بمحافظة شمال الباطنة

امتحـان نـهاية العام الدراسي لمادة: الرياضيات
للصف: **الخامس** ــ الدور الأول
للعام الدراسي ١٤٤١/١٤٤٢هـ - ٢٠٢٠/٢٠٢١م

- زمن الامتحان: ساعة.
- الإجابة في الدفتر نفسه.
- الدرجة الكلية للامتحان: ٤٠ درجة.
- عدد صفحات أسئلة الامتحان: (٧).
- يسمح باستخدام: المسطرة، المنقلة، المثلث القائم، الورق الشفاف.
- **لا يسمح** باستخدام: الآلة الحاسبة.

أقرأ التعليمات الآتية في البداية:

- أجب عن **جميع** الأسئلة في الفراغ المخصص في ورقة الأسئلة.
- وضح **كل** خطوات حلك في دفتر الأسئلة.
- درجة كل سؤال أو جزء من السؤال مكتوبة في اليسار بين الحاصرتين [].

الصفحة	الدرجة		التوقيع بالاسم	
	بالأرقام	بالحروف	المصحح الأول	المصحح الثاني
١				
٢				
٣				
٤				
٥				
٦				
٧				
٨				
٩				
١٠				
المجموع			جمعه	مراجعة الجمع
المجموع الكلي				

LIVEWORKSHEETS

امتحان نهاية العام الدراسي لمادة الرياضيات الصف: **الخامس** للعام الدراسي ٢٠٢٠/٢٠٢١م

١) حوّط عددين مجموعهما ١

٠,٢ ٠,٣ ٠,٤ ٠,٥ ٠,٦

[١]

٢) اكتب العدد الذي صيغته التحليلية

٤٠٠٠٠٠ + ٦٠٠٠٠ + ٣٠٠٠ + ٧٠٠ + ٩

_____ [١]

٣) أوجد ناتج

أ) ٥٢,٦ + ٣٤,٣

_____ [١]

ب) ٩,٢ × ٣

_____ [١]

٤) ضعف العدد ٣٨ = ٧٦

اكتب ضعف العدد ٣٨٠٠

_____ [١]

٥) أكمل العبارات التالية

$\frac{١}{٥} = \frac{\square}{٢٠}$

$\frac{١}{\square} = \frac{٣}{٦}$

[٢]

٦) صل كل زاوية بالقياس المناسب لها

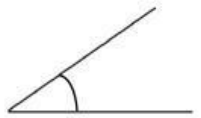

١٢٠°
٩٠°
٣٠°

[١]

الدرجة

يتبع/٢

LIVEWORKSHEETS

٧) حوّط الانعكاس الصحيح للشكل حول خط المرآة

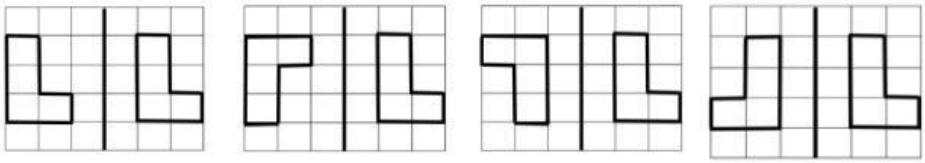

[١]

٨) انظر إلى الميزان الموضح أمامك

اكتب كتلة كيس الدقيق بالكيلوغرام

_____ كغم [١]

٩) أكمل العبارات التالية

أ) ٣٨٠٠ ÷ ☐ = ٣٨٠ [١]

ب) ٩٠ × ٤ = ☐ [١]

١٠) اكتب الكلمة صحيح أو خطأ مقابل كل عبارة

العبـــــــــارة	صحيح/ خطأ
جميع مضاعفات العدد ١٠٠ هي مضاعفات للعدد ٢٥	صحيح
جميع مضاعفات العدد ٥ تبدأ بـ ٥ فقط	**خطأ**

[١]

١١) حوّط الكسر الذي يمثل عدد الخرز الأسود في العقد

$\frac{١}{٣}$ $\frac{٢}{٣}$ $\frac{٢}{٥}$ $\frac{٣}{٥}$

[١]

الدرجة		

يتبع/٣

LIVEWORKSHEETS

١٢) أكمل العبارات التالية

$\frac{٧}{٢} = \frac{١}{٢}\square$

$\frac{٥}{٣} = ١\frac{\square}{٣}$

[٢]

١٣) صف الانسحاب الذي يحرك الشكل (أ) إلى الشكل (ب)

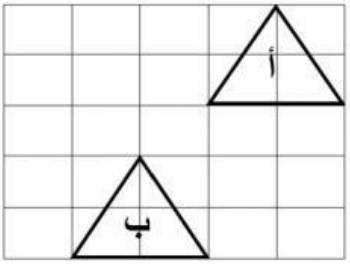

_____

[١]

١٤) يشارك ١٤٤ طفلاً في إحدى المنافسات
يتم تشكيل فرق مكونة من ٦ أطفال

اكتب عدد الفرق التي يمكن تكوينها

_____ فرقة

[١]

١٥) أمامك ثلاث بطاقات أعداد

٣٦٠	٤٦٠	٥٦٠

استخدم بطاقتين لجعل العملية الحسابية التالية صحيحة.

$\square + \square = ٩٢٠$

[١]

١٦) أمامك الشكل المقابل

اكتب قياس الزاوية ب

_____

[١]

الدرجة		

LIVEWORKSHEETS

١٧) زاوج كل عبارة بدرجة الحرارة الجديدة

انخفاض درجة الحرارة -٥ °س بمقدار ٣ °س	٨ °س
ارتفاع درجة الحرارة -٥ °س بمقدار ٣ °س	-٢ °س
انخفاض درجة الحرارة ٥ °س بمقدار ٣ °س	-٨ °س
	٢ °س

[٢]

١٨) تستخدم شهد ٥ حبات طماطم لصنع لتر واحد من الصلصة

اكتب عدد اللترات التي يمكن أن تصنعها من ١٥ حبة طماطم

_____ لتر [١]

١٩) طول حبل ١٠ متر
قطع منه ٣,٦ متر
حوط طول الحبل المتبقي بالمتر

٧,٤ ٧,٣ ٦,٤ ٦,٣

[١]

٢٠) أمامك الشكل المقابل

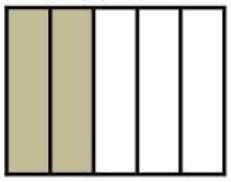

اكتب ما يمثله الجزء المظلل في صورة

كسر ☐ كسر عشري ☐ نسبة مئوية ☐

[٢]

الدرجة ☐ ☐

يتبع/٥

LIVEWORKSHEETS

امتحان نهاية العام الدراسي لمادة الرياضيات الصف: **الخامس** للعام الدراسي ٢٠٢٠/٢٠٢١م

٢١) أكمل المخطط

٥,٤ ← النصف ☐

[١]

٢٢) يعرض متجر سعر حقيبتين كما بالشكل



اكتب

أ) إجمالي سعر الحقيبتين _____ ريال

ب) الفرق بين سعر الحقيبتين _____ ريال

[٢]

٢٣) متتالية أعداد تبدأ بـالعدد ٣
قاعدتها الضرب في ٢

اكتب الأعداد الثلاثة التالية في هذه المتتالية

_____ ، _____ ، _____ [٢]

٢٤) اكتب عامل أكبر من الواحد للعددين ١٢ و ٢٠ معاً

_____ [١]

٢٥) أمامك أربع من بطاقات الأرقام

٢	٣	٦	٨

استخدم البطاقات الأربع كلها لجعل هذه العملية الحسابية صحيحة

☐,☐ + ☐,☐ = ١٠

[١]

الدرجة		

يتبع/٦

LIVEWORKSHEETS

٢٦) أكمل المتتالية

٥			١-

[١]

٢٧) يحمّل عامل قوالب اسمنتية في عربة
كتلة كل قالب اسمنتي ٥ كغم
أقصى كتلة يمكن وضعها في العربة ٦٣ كغم
اكتب أكبر عدد من القوالب الاسمنتية يمكن للعربة حملها

_____ قالب اسمنتي [١]

٢٨) يريد أحمد أن يقطع بالدراجة ٢٥٠ كيلومتر خلال أربعة أيام
الجدول التالي يوضح المسافات التي قطعها خلال كل يوم

اليوم	المسافة (كيلومتر)
الأول	٦٥
الثاني	٤٣
الثالث	٧٨
الرابع	٥٤

هل حقق أحمد ما يريده؟ ☐ نعم ☐ لا
فسر إجابتك.

_____

_____ [١]

٢٩) لدى محمد كتاب يحوي ٢٠٠ صفحة
قرأ ٢٣٪ من صفحات الكتاب

احسب عدد الصفحات المتبقية

وضح خطوات الحل

_____ صفحة [٢]

الدرجة

LIVEWORKSHEETS

٣٠) حوّط العدد الذي تفكر فيه فاطمة

١٦ ١٧ ١٨ ١٩

[١]

٣١) شريط طوله ٣٥ م
قُطع $\frac{١}{٥}$ من طول الشريط
طول الجزء المتبقي من الشريط ٢٨م
فسّر ذلك

_____

_____ [١]

الدرجة		

انتهت الأسئلة مع الدعاء للجميع بالتوفيق والنجاح.

LIVEWORKSHEETS