lớp 2

51	Bạn An phơi 3 cái khăn mặt theo cách dưới đây thì cần dùng 4 cái kẹp. Hỏi bạn ấy cần dùng bao nhiêu cái kẹp nếu muốn phơi 9 cái khăn mặt theo cách đó. Bạn ấy cần số cái kẹp là (chỉ cần ghi số): .....
52	Hãy tính giá trị của một bông hoa. 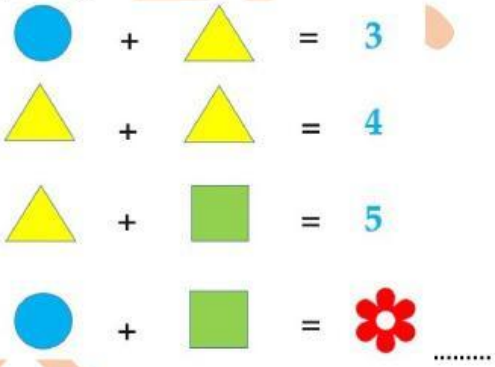
53	Hình nào không nằm trong bốn bức tranh dưới dây? 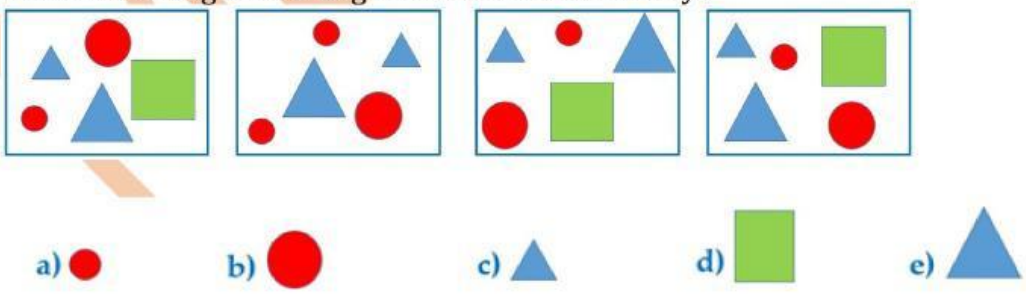

LIVEWORKSHEETS

lớp 2

54	Có bao nhiêu hình tam giác trong bức tranh dưới đây? (A) 7 (B) 6 (C) 5 (D) 4 (E) 3
55	Hiệu số gạch của hai hình là bao nhiêu? (A) 4 (B) 5 (C) 6 (D) 7 (E) 10
56	Một con Mèo đuổi bắt Chuột (như hình bên), biết rằng một bước của Mèo dài 2 ô, một bước của Chuột dài 1 ô.  Hỏi Mèo bắt được Chuột tại ô vuông nào? (A) 1 (B) 2 (C) 3 (D) 4 (E) 5

LIVEWORKSHEETS

lớp 2

57	Tìm mảnh ghép còn thiếu của hình ngôi nhà? 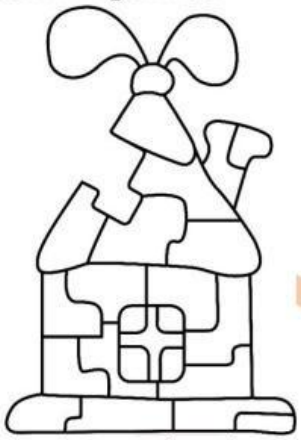 (A) (B) (C) (D) (E)
58	Có năm con bọ sống trên một bụi cây. Hỏi tổng cộng có bao nhiêu điểm chấm xanh có trên các con bọ? .....

LIVEWORKSHEETS

lớp 2

59	Một trò chơi đổi quả như sau:  Adam có 6 quả lê. Nếu đổi hết lê để lấy nho thì Adam có bao nhiêu chùm nho? (A) 12 (B) 36 (C) 18 (D) 24 (E) 6
60	Sophie làm 10 ngôi nhà bằng diêm như hình vẽ. Hỏi Sophie đã dùng bao nhiêu que diêm? ..... 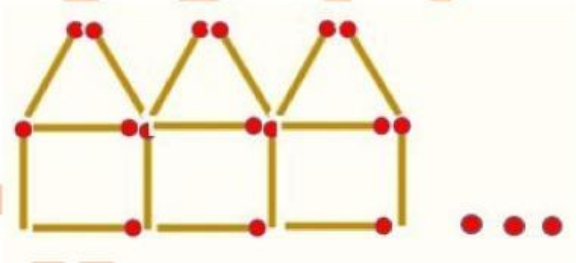

LIVEWORKSHEETS

lớp 2

61	Eric có 10 dải kim loại bằng nhau.  Eric đã vặn các dải kim loại thành 5 dải dài, mỗi dải lớn gồm 2 dải kim loại nhỏ. Hỏi dải nào ngắn nhất? 
62	Có một chiếu cân hai đĩa như hình vẽ. Hỏi cần bao nhiêu con vịt đặt vào đĩa cân bên phải để cân bằng với cá sấu? 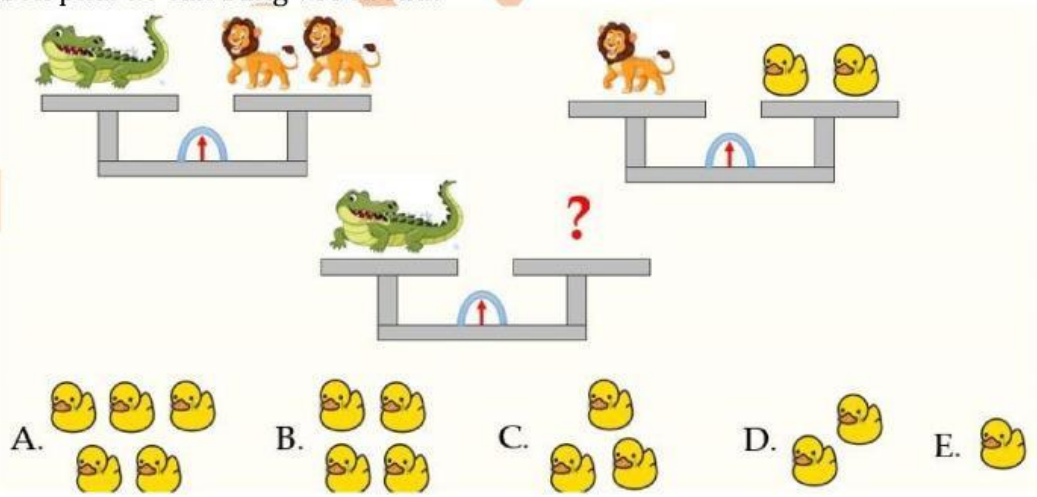

LIVEWORKSHEETS

lớp 2

63	Hình nào dưới đây có thể xoay để thành hình bên? A. B. C. D. E.
64	Tổng các số ở ngoài hình vuông bằng bao nhiêu? 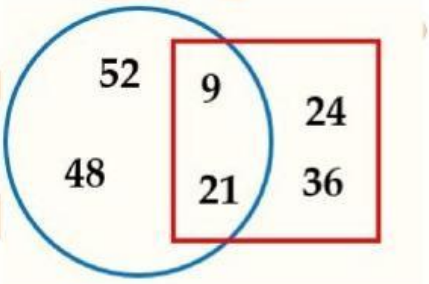 (A) 30 (B) 60 (C) 90 (D) 45 (E) 100
65	Có 6 con voi A; B; C; D; E; F xếp hàng mua vé. F đứng sau A và đứng trước D nhưng đứng giữa B và C; B đứng đầu hàng và E đứng cuối hàng. Hỏi con voi F đứng thứ mấy? .....
66	Điền các số 2; 3; 4 và 5 vào các ô trống. Khi đó tổng lớn nhất có thể có bằng bao nhiêu? 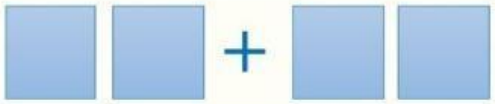 (A) 68 (B) 77 (C) 86 (D) 95 (E) 97

LIVEWORKSHEETS

lớp 2

67	Fedya có 4 hình vuông màu đỏ, 3 hình vuông màu xanh dương, 2 hình vuông màu xanh lá và 1 hình vuông màu vàng. Fedya dựng thành một cái tháp như hình bên, sao cho không có 2 hình vuông nào gần nhau cùng màu nhau. Hỏi màu của hình vuông có dấu chấm hỏi là gì?  (A) Đỏ (B) Xanh dương (C) Xanh lá (D) Vàng (E) Không thể xác định được
68	Để đi được nửa quãng đường từ nhà đến trường Jenny đi mất nửa giờ. Hỏi nếu đi cả quãng đường từ nhà đến trường Jenny sẽ mất bao nhiêu thời gian? (A) 15 phút (B) 30 phút (C) 1 giờ (D) 2 giờ (E) 40 phút
69	Có bao nhiêu hình tam giác trong hình bên: ..... 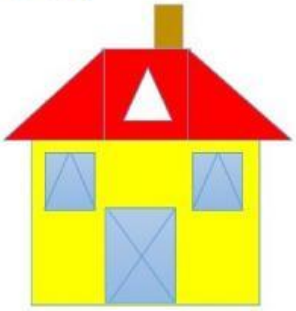
70	John viết các số 1; 2; 3; 4; 5; 6; 7; 8; 9 và 10 lên một bảng trắng. John đã xóa một vài số và cộng các số còn lại với nhau được tổng là 24. Hỏi còn lại nhiều nhất bao nhiêu số trên bảng? (A) 3 (B) 4 (C) 5 (D) 6 (E) 7

LIVEWORKSHEETS

lớp 2

71	Mảnh ghép nào còn thiếu trong bức tranh dưới dây? 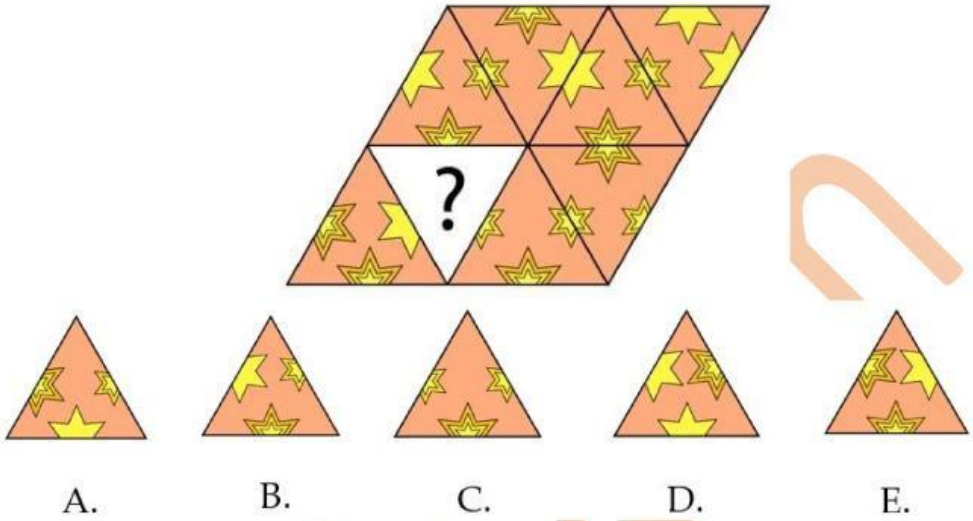
72	Có 8 lá cờ xếp thẳng hàng, biết rằng khoảng cách giữa hai lá cờ gần nhau là 11 m. Hỏi khoảng cách từ lá cờ đầu tiên đến lá cờ cuối cùng bằng bao nhiêu? ..... (mét)
73	Ngày 5/5/2015 có 3 chữ số 5. Hỏi ngày nào gần ngày đó nhất cũng có 3 chữ số 5? ..... / ..... / .....

LIVEWORKSHEETS

lớp 2

74	Cho 2 xếp hình, mỗi xếp gồm 2 hình vuông như hình vẽ. Hỏi hình nào sau đây không được tạo ra bằng cách dán hai xếp hình lại với nhau. 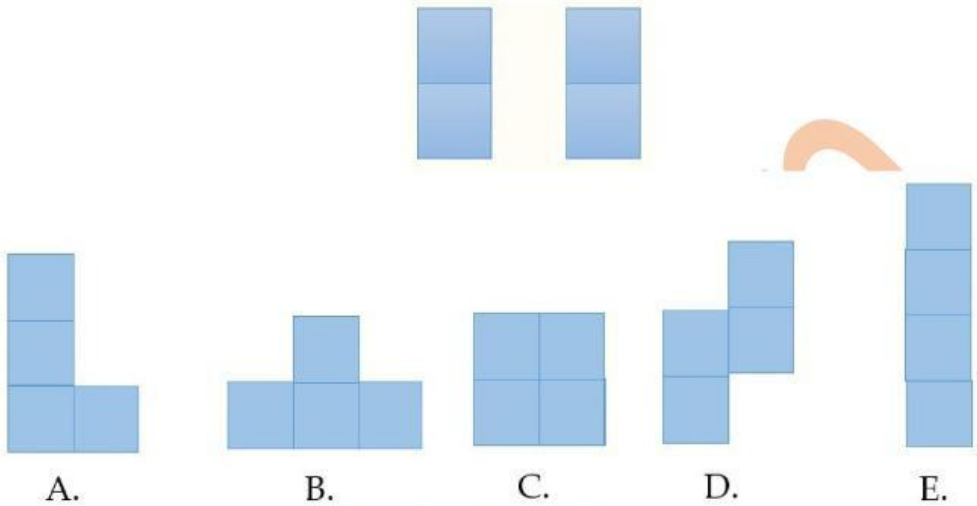
75	Có 6 chồng được xếp bởi các khối lập phương màu trắng và màu xám. Mỗi chồng gồm 5 khối lập phương sao cho không có hai khối lập phương nào cạnh nhau cùng màu nhau. Hỏi có tất cả bao nhiêu khối lập phương màu trắng? Số khối lập phương màu trắng là: ..... (khối) 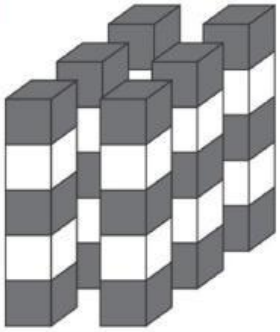

LIVEWORKSHEETS