## ПОРІВНЮЄМО МАТЕМАТИЧНІ ВИРАЗИ

**1** Встав у «ланцюжок» такі числа, щоб у результаті одержати 90. Поцікався, які числа дібрали інші учні.

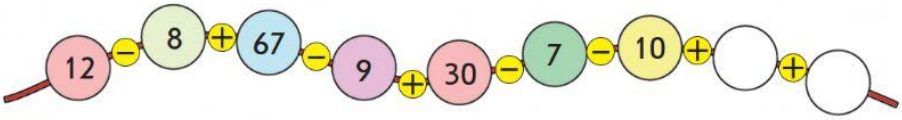


**2** Порівняй математичні вирази.

56 − 7 ◯ 34 + 25
16 + 23 ◯ 56 − 8
21 − 5 ◯ 7 + 8
46 + 8 ◯ 62 − 7

8 + 6 ◯ 56 − 43
15 − 7 ◯ 42 − 6
45 + 8 ◯ 99 − 46
54 + 9 ◯ 47 + 16

**3** Порівняй математичні вирази без обчислень.

8 + 4 ◯ 8 − 4
24 + 9 ◯ 24 + 5
36 − 8 ◯ 36 − 9
27 + 8 ◯ 29 + 8

52 − 7 ◯ 52 − 6
78 + 4 ◯ 75 + 4
43 − 7 ◯ 45 − 7
43 − 7 ◯ 43 + 7

**4** Прочитай задачу. Поясни схему. Про що дізнаємось, обчисливши значення поданих виразів?

Юпітер має 16 супутників, що на 3 супутники менше, ніж має Сатурн, а Уран має на 4 супутники менше, ніж Сатурн. Скільки супутників має Уран?

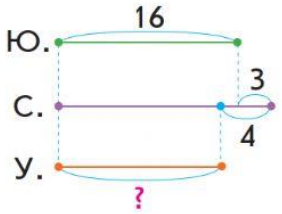


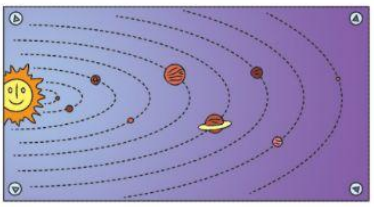



Обери вираз для розв'язання задачі.

1) 16 + 3  2) (16 + 3) − 4  3) 4 − 3  4) 16 − (4 − 3)

**5** Обчисли трьома способами.

64 − 39 = . . + .
64 − 39 = . . + .
64 − 39 = . . + . . . + .

33 − 16 = . . + .
33 − 16 = . . + .
33 − 16 = . . + . . . + .

**6** Знайди значення виразів зі змінними.

1) $32 - p + 53$, якщо $p = 6$.
2) $67 - (a + b)$, якщо $a = 6$, $b = 8$.
3) $c - (12 - k)$, якщо $c = 42$, $k = 5$.

LIVEWORKSHEETS