Ficha de Geografia – Tipos de clima no Mundo

Nome:

1. Completa os espaços em branco com o nome correto.

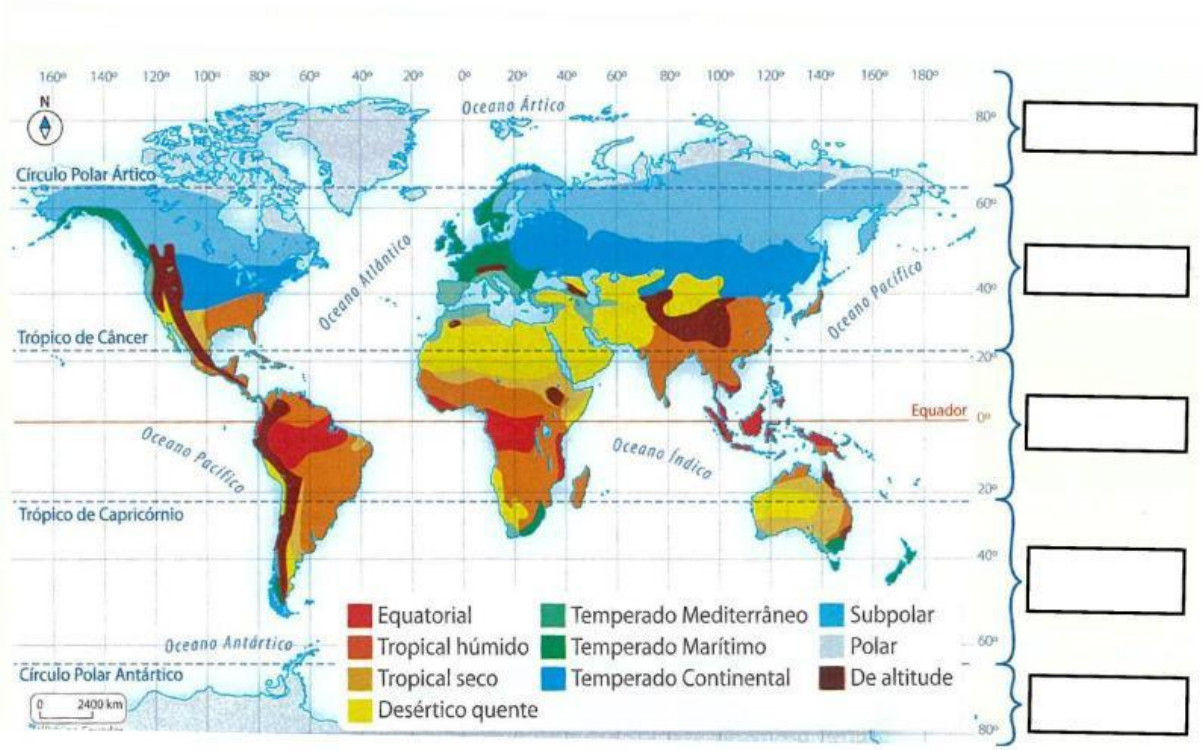

2. Completa os espaços em branco com o nome correto.

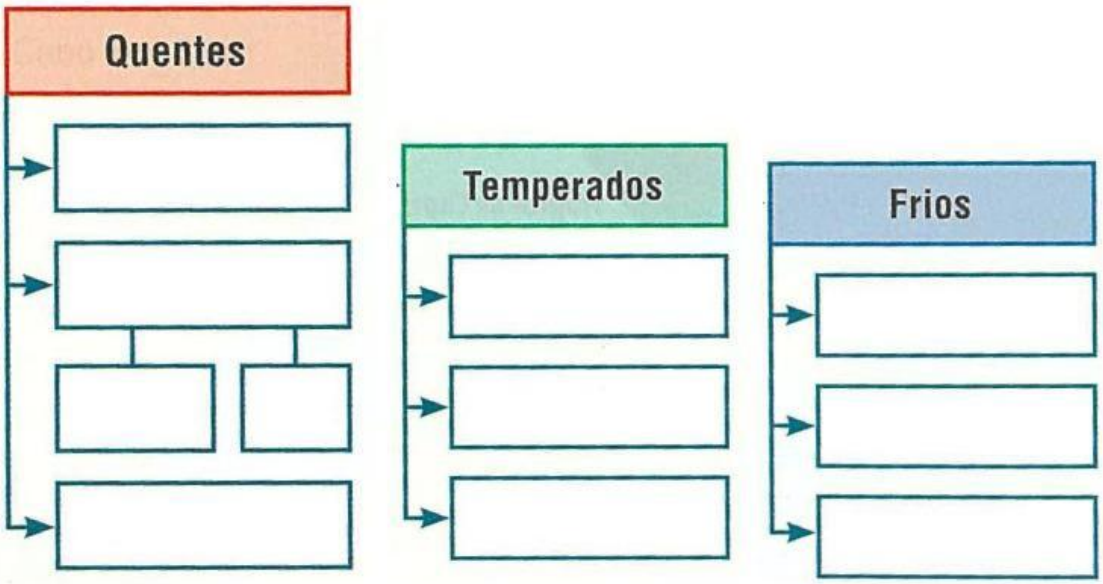

LIVEWORKSHEETS

3 **Elabora** um esquema das zonas climáticas da Terra, recorrendo a um transferidor e a um lápis.

3.1. Marca na figura os seguintes elementos geométricos da esfera terrestre:

a) os trópicos de Câncer e de Capricórnio;

b) os círculos polares ártico e antártico.



3.2. Define uma legenda de cores para as zonas climáticas.

Legenda:

- ( ) _____
- ( ) _____
- ( ) _____

4 Com base na informação das figuras, **identifica** as zonas climáticas onde se situa cada uma das localidades.

Inuvik, Canadá

-8,7 °C

Latitude: 68° 21' N

Zona climática: _____

Belém, Brasil

26,7 °C

Latitude: 1° 26' S

Zona climática: _____



Sapporo, Japão

9,1 °C

Latitude: 43° 05' N

Zona climática: _____



Perth, Austrália

18,6 °C

Latitude: 31° 54' S

Zona climática: _____



Murmansk, Rússia

0,2 °C

Latitude: 68° 59' N

Zona climática: _____

Dacar, Senegal

24,7 °C

Latitude: 14° 42' N

Zona climática: _____

LIVEWORKSHEETS