Kurikulum Merdeka | MERDEKA BELAJAR | Merdeka Mengajar

E-LKPD

ELEKTRONIK LEMBAR KERJA PESERTA DIDIK

MATERI : SISTEM PENCERNAAN MANUSIA
KELAS : 5 SEKOLAH DASAR

LIVEWORKSHEETS

YUK KITA BERLATIH !

1. **Lengkapilah pernyataan berikut tentang sistem pernapasan manusia !**

a. Udara pertama kali masuk melalui .....

b. Alveolus berfungsi untuk mengambil udara yang mengandung .....

2. Salah satu cara menjaga kesehatan sistem pernapasan manusia adalah .....

- [ ] Mandi 5 kali sehari
- [ ] Berolahraga secara teratur
- [ ] Menutup mulut dengan tangan
- [ ] Tinggal dilingkungan ber-AC

3. Sebutkan Urutan organ pernapasan yang benar dari luar ke dalam adalah .....

4. Berikan tanda ceklis ( ) pada gambar dibawah ini yang BUKAN termasuk dari sistem pernapasan manusia !

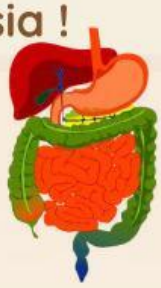

LIVEWORKSHEETS

5. Isilah nama organ pernapasan manusia dengan cara tarik kotak dibawah ke gambar !

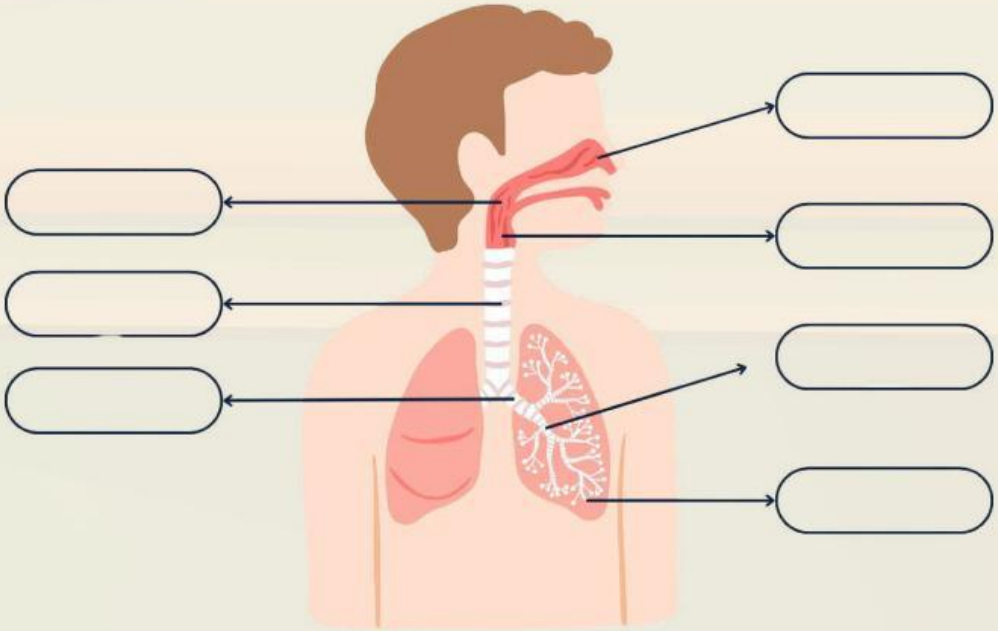

Laring | Alveolus | Trakea | Hidung

Faring | Bronkiolus | Bronkus

6. Pasangkan nama penyakit pernapasan dan penjelasannya!

No	Nama Penyakit		Disebabkan Oleh
1	Asma	A	Terpapar virus *Corona*
2	Mimisan	B	Terpapar bakteri, virus dan jamur.
3	Pneumonia	C	Terkena bakteri Mycobacterium tuberculosis
4	Tuberculosis (TBC)	D	Kekeringan udara dan kebiasaan buruk mengorek hidung
5	Covid-19	E	Penyempitan Saluran Pernapasan

LIVEWORKSHEETS

7. Pasangkan nama Organ Pernapasan dan fungsinya di bawah ini !

Laring	Menghubungkan rongga hidung ke laring
Bronkus	Tempat melekatnya selaput atau pita suara
Hidung	Menjadi saluran atau menyediakan jalan bagi udara untuk masuk dan keluar paru-paru
Bronkiolus	menyaring debu dan kotoran yang masuk ke rongga hidung
Alveolus	Mengalirkan udara yang masuk atau keluar dari paru-paru
Trakea	cabang bronkus yang mengatur banyaknyanudara yang masuk dan keluar
Faring	Tempat pertukaran antara oksigen dengan karbondioksida

LIVEWORKSHEETS

8. Berikan tanda ceklis (✓) jika Benar (benar) atau S (salah) pada pernyataan dibawah ini !

Soal	B	S
Diafragma merupakan sekat yang membatasi rongga dada dan rongga perut		
Fungsi proses pernapasan bagi tubuh adalah menghasilkan energi		
Oksigen adalah gas yang dikeluarkan ketika bernapas		

9. Identifikasi mekanisme pernapasan pada manusia berikut ini dengan memilih jawaban yang tepat pada box yang telah disediakan !

MEKANISME PERNAPASAN MANUSIA

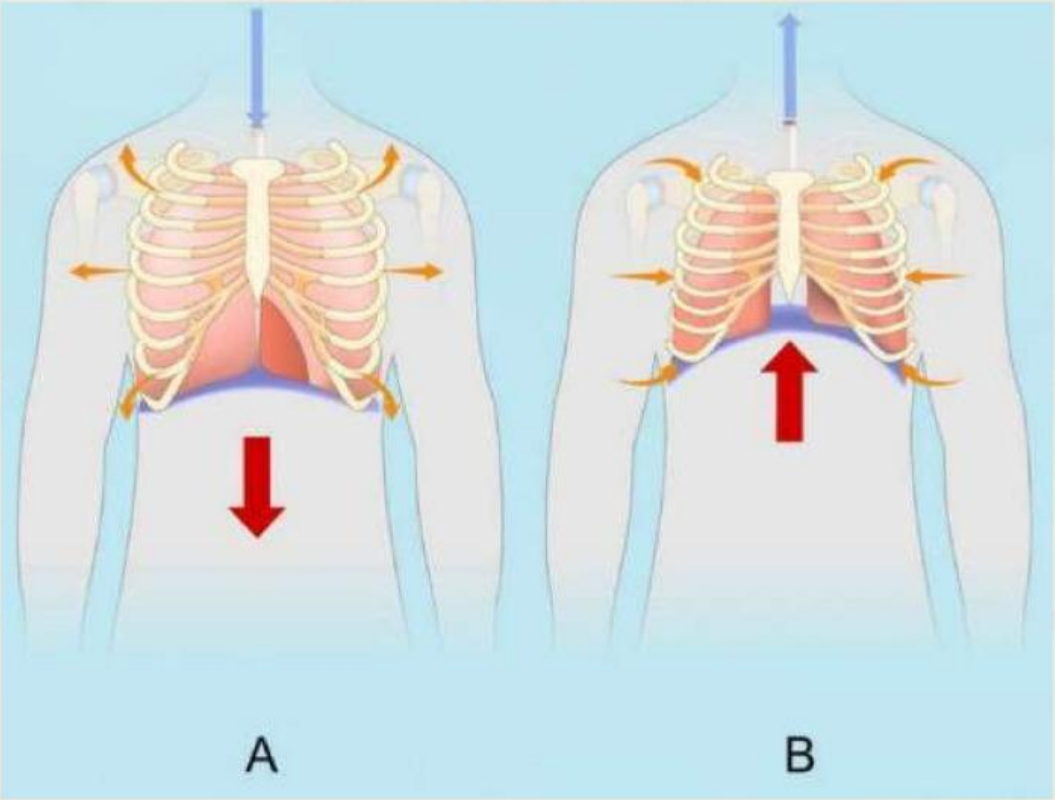

LIVEWORKSHEETS

10. Carilah 2 kata tersembunyi tentang sistem pernapasan manusia

F	I	C	E	S	E	A	S	U	S	H	I
A	L	C	D	O	I	J	T	U	V	U	W
R	A	M	B	R	O	G	E	R	Y	P	Z
I	S	L	M	P	N	O	A	P	R	S	T
N	A	C	U	R	R	Y	K	Q	R	A	B
G	G	E	S	P	A	G	H	E	T	T	I
D	N	G	M	E	A	T	B	A	L	L	S
S	A	L	A	D	L	P	I	Z	Z	A	M
H	I	T	R	A	K	E	A	I	N	G	S

SELAMAT MENGERJAKAN

LIVEWORKSHEETS