Marca así ● la respuesta correcta.

1. ¿De cuánto en cuánto aumenta la siguiente serie numérica?

4 - 8 - 12 - 16 - 20

SEP 41-42

○ De 2 en 2. ○ De 3 en 3. ○ De 4 en 4. ○ De 5 en 5.

2. ¿Cuál de las siguientes actividades dura más tiempo?

SEP 14

○ ○ ○ ○

3. ¿Cuántos ramos de una decena se pueden hacer con la siguiente cantidad de flores y cuántas sobran?



SEP 18

○ Se forman 4 ramos y sobran 6 flores.
○ Se forman 3 ramos y sobran 5 flores.
○ Se forman 5 ramos y sobran 4 flores.
○ Se forman 6 ramos y sobran 3 flores.

4. ¿Cuál es el resultado de la siguiente suma?

28 + 30 =

SEP 25

○ 82 ○ 61 ○ 58 ○ 72

© MONTENEGRO®

LIVEWORKSHEETS

5. Si Érika compró un monedero de $45, una pulsera de $54 y unos aretes de $62, ¿cuánto gastó en total?

SEP 29

○ $152 ○ $192 ○ $161 ○ $148

6. ¿Cuántas galletas compró Alejandro en total si tiene las siguientes bolsas?

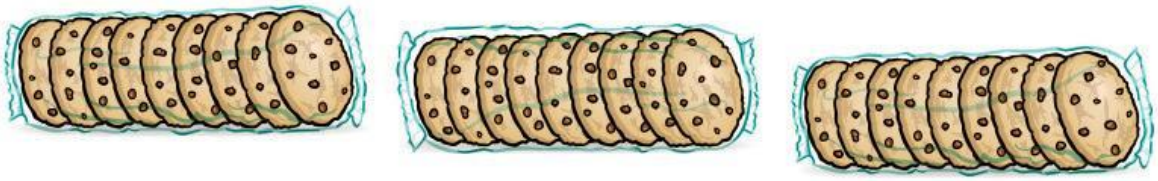

SEP 46-47

○ 27 galletas. ○ 32 galletas. ○ 38 galletas. ○ 28 galletas.

7. ¿Cuántas paletas hay en total en la siguiente charola?

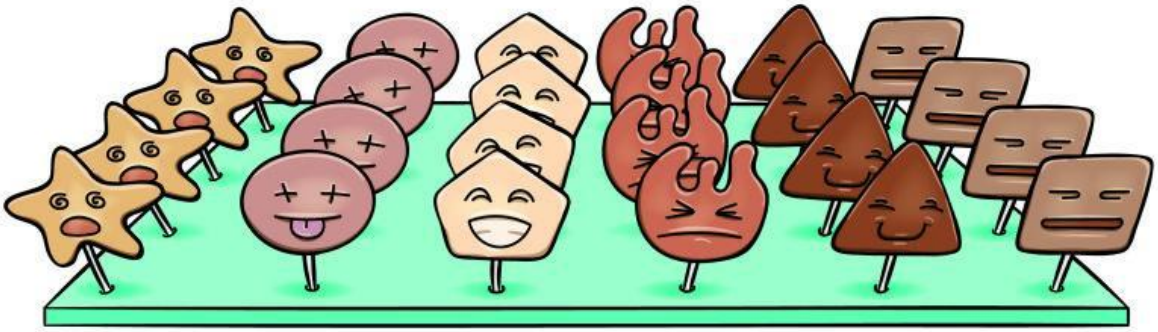

SEP 48

○ 20 paletas. ○ 12 paletas. ○ 18 paletas. ○ 24 paletas.

8. Es la figura geométrica que tiene un par de lados largos y dos lados cortos del mismo tamaño.

SEP 52

○ ○  ○ ○

9. ¿Qué número falta en la siguiente suma?

35 + ____ = 100

SEP 61-62

○ 75 ○ 65 ○ 55 ○ 85

10. ¿Cuáles son los números que faltan en esta recta numérica?

SEP 91

○ 134, 140 y 151. ○ 131, 138 y 152. ○ 128, 136 y 150. ○ 132, 136 y 153.

© MONTENEGRO®

LIVEWORKSHEETS

11. Es el resultado de la siguiente suma.

89 + 100 =

SEP 94

ⓐ 189 ⓑ 180 ⓒ 186 ⓓ 192

12. Miguel compró un pastel de chocolate que le costó **$263**. Si pagó con un billete de **$500**, ¿cuánto dinero le sobró?

SEP 107

ⓐ $242 ⓑ $263 ⓒ $237 ⓓ $254

13. ¿Cuál de las siguientes figuras es un cuadrilátero?

SEP 113

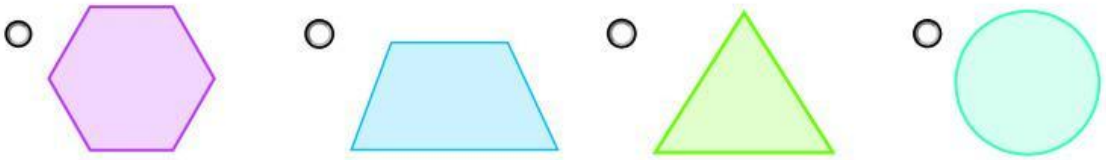

14. Es el resultado de la siguiente multiplicación.

9 × 7 =

SEP 119

ⓐ 82 ⓑ 66 ⓒ 74 ⓓ 63

15. Édgar compró 12 paletas de vainilla. Si cada paleta cuesta **$14**, ¿cuánto pagó en total?

SEP 124

ⓐ $168 ⓑ $172 ⓒ $156 ⓓ $146

16. ¿Cuál es la multiplicación que te ayuda a calcular el total de asientos que hay en esta área del teatro?



SEP 122

ⓐ 4 × 5 = ⓑ 6 × 5 = ⓒ 7 × 4 = ⓓ 6 × 4 =

© MONTENEGRO®

LIVEWORKSHEETS

17. ¿Cuál es el resultado de la siguiente resta?

274 – 132 =

SEP 138

ⓐ 152 ⓑ 172 ⓒ 142 ⓓ 132

18. ¿Cuáles son los números que faltan en la siguiente sucesión?

SEP 158

ⓐ 142, 172 y 180. ⓑ 142, 170 y 180.
ⓒ 142, 174 y 182. ⓓ 142, 172 y 182.

19. Fernanda compró 6 ramos de 7 rosas cada uno. ¿Cuántas rosas compró en total?

SEP 187

ⓐ 42 rosas. ⓑ 52 rosas. ⓒ 58 rosas. ⓓ 46 rosas.

20. ¿Cuál es el resultado de la suma de la siguiente recta numérica?

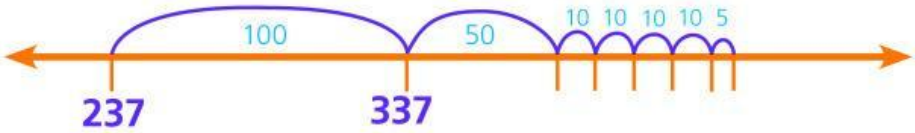

SEP 167

ⓐ 432 ⓑ 435 ⓒ 445 ⓓ 455

Lee con atención y resuelve como se indica.

21. Escribe la cantidad total que representan los siguientes cubos.

SEP 93

© MONTENEGRO®

LIVEWORKSHEETS

22. ¿Qué unidad de medida utilizarías para medir el pizarrón de tu salón?

SEP 164

23. Marca así ✓ los productos que se pueden comprar en kilogramos.

SEP 196



24. Dibuja la base del siguiente cuerpo geométrico.

SEP 126

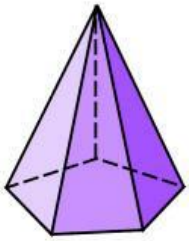

25. Escribe en los recuadros la cantidad de figuras que se usaron para construir el helicóptero.

SEP 112-113

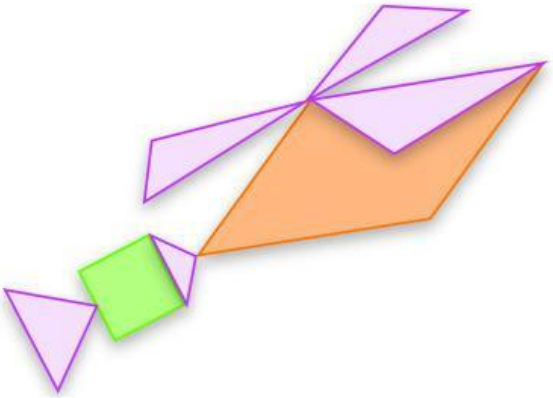

Triángulos	
Romboides	
Cuadrados	

© MONTENEGRO®

LIVEWORKSHEETS