ACTIVIDAD PITÁGORAS Y ÁREAS DE FIGURAS PLANAS.

1) Calcula el área y perímetro de la siguiente figura:

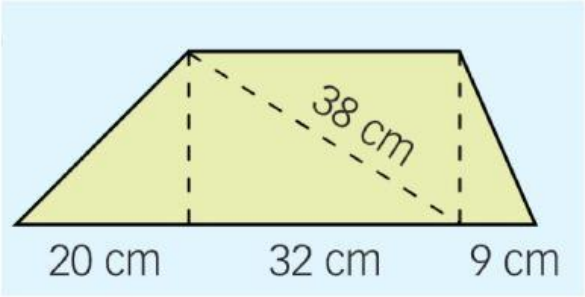

Área = _____ cm2

Perímetro= _____ cm

2) Calcula el área de la siguiente figura:

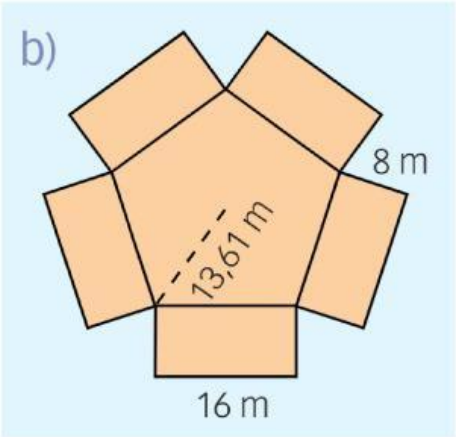

Área = _____ m2

3) Calcula el área de la región sombreada.

LIVEWORKSHEETS

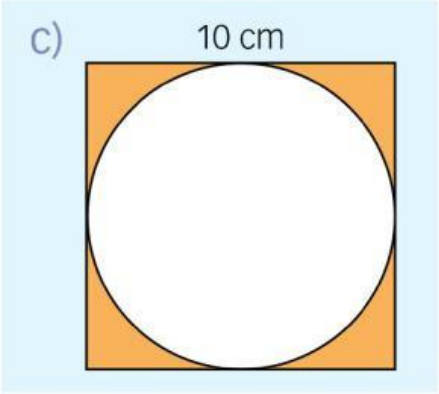

Área = _____ m2

4) A partir de una circunferencia de 7 cm de radio, calcula la longitud de un arco de 30º y el área del sector circular formado por los mismos grados.

Longitud arco 30º= _____ cm

Área sector circular 30º= _____ cm2

LIVEWORKSHEETS