Colegio Mixto Galilea
Ciencias Naturales
Docente: Doris Sánchez
Tercer Bimestre 2023
Quinto Primaria



Guía de Aprendizaje

Nombre: _____ ***Clave:*** _____

I Serie
Instrucciones: Escriba el nombre de las partes señaladas del sistema linfático.

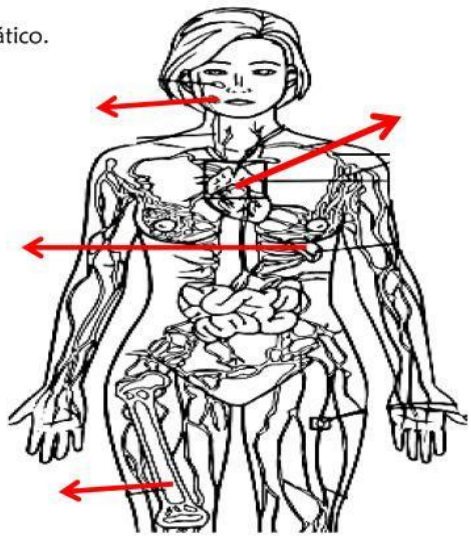

II Serie
Instrucciones: Escriba las partes del sistema respiratorio.

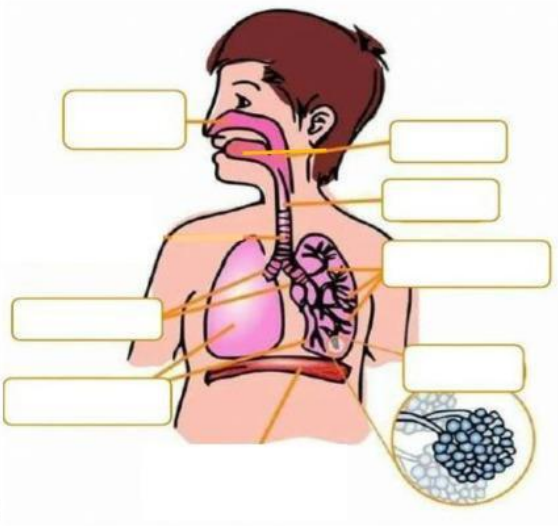

III Serie
Instrucciones: Completa la tabla según corresponda.

Concepto	*Definición*	*Ilustración*
Arteria		
Vena		

IV Serie
Instrucciones: Complete las siguientes definiciones según corresponda.

1. _____Son dos cavidades que comunican el exterior con la faringe.
2. _____Es un conducto por donde pasa el aire que viene de la nariz.
3. _____Tiene a cargo el transporte de oxígeno desde los pulmones a los tejidos.
4. _____Combate las infecciones y mantiene el equilibrio de los líquidos del cuerpo.
5. _____Es una amplia red de drenaje que ayuda a mantener los niveles de líquido corporal en equilibrio.

V Serie
Instrucciones: Escriba el significado de las siguientes palabras.

Amígdala: ___

__
Timo:

LIVEWORKSHEETS