AKTIVITAS 2

NAMA :
KELOMPOK :
KELAS :

- Amatilah video di bawah ini.

LIVEWORKSHEETS

1. Mengindetifikasi

Sebutkan bahan dan alat lift sederhana yang ada di video tersebut.

LIVEWORKSHEETS

2. Menganalisis

a.Hukum sains apa terjadi pada proses pergerakan lift sederhana?

Jawaban :

LIVEWORKSHEETS

3. Mengagas Ide

Pindahkanlah data yang ada d video kedalam tabel dibawah ini.

NO	Waktu	Rp100	Rp2000
1			
2			
3			
4			

LIVEWORKSHEETS

4. Menguji Solusi

Sebelum menjawab pertanyaan berikutnya, salin link untuk menonton video metode eliminasi.

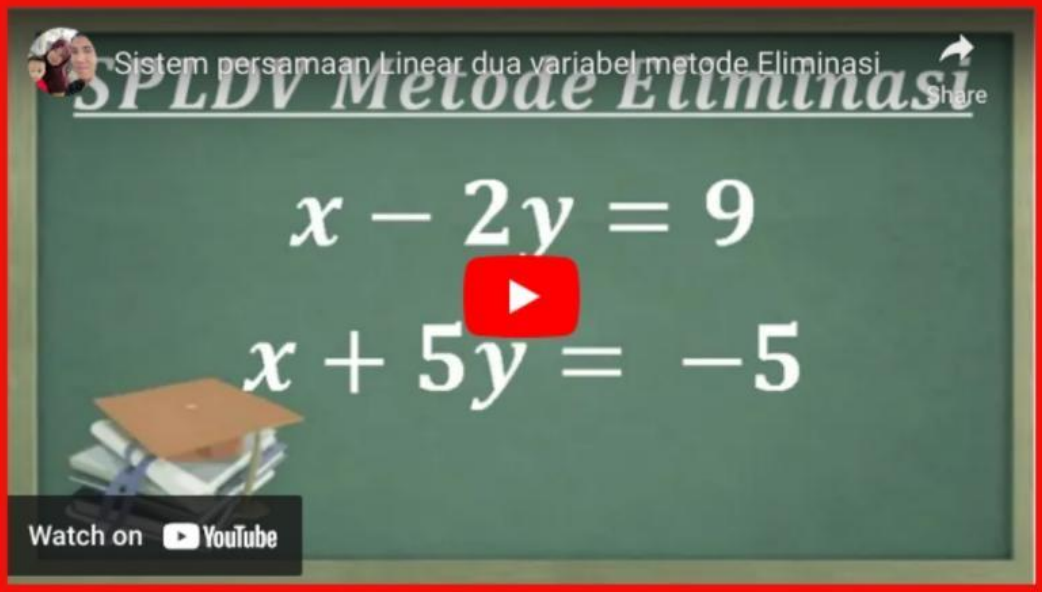

LIVEWORKSHEETS

Buatlah tabel no 1 dan 2 ke dalam penyelesaian dengan metode eliminasi.

Jawaban :

LIVEWORKSHEETS

5. Komunikasi

Berdasarkan kegiatan yang kalian dilakukan, buatlah kesimpulan bahwa?

Jawaban :

LIVEWORKSHEETS