Matematika
"Hubungan Antar Garis"

Nama :
Kelas :

Sebelum anak-anak mengerjakan latihan, tontonlah video di samping tentang materi hubungan antar garis terlebih dahulu ya.



Ayo jawab soal-soal di bawah ini !

LIVEWORKSHEETS

I. Berilah tanda ceklis (✓) pada salah satu huruf a, b, c atau d di depan jawaban yang paling tepat !

1. Kumpulan titik-titik yang sangat banyak, jika titik-titik tersebut berkumpul secara teratur dan berkesinambungan akan membentuk garis lurus disebut ... .

   A. garis C. ruas garis

   B. titik D. segmen garis

2. Garis yang dibatasi dua titik di kedua ujungnya disebut ... .

   A. garis lurus C. segmen garis

   B. sinar garis D. garis vertikal

3. Ruas garis yang salah satu ujungnya dapat diperpanjang tanpa batas disebut ... .

   A. sinar garis C. garis lurus

   B. garis horizontal D. segmen garis

4. Ruas garis yang kedua ujungnya dapat diperpanjang tanpa batas disebut ... .

   A. sinar garis C. ruas garis

   B. segmen garis D. garis lurus

5. Pehatikan gambar berikut ini !

   Gambar di samping merupakan garis … .

   A. vertikal C. horizontal

   B. diagonal D. lengkung

6. Perhatikan gambar berikut ini !

   Gambar di samping merupakan garis … .

   A. vertikal C. horizontal

   B. diagonal D. lengkung

II. Isilah titik-titik di bawah ini dengan jawaban yang paling tepat !

7. Garis yang mendatar disebut ……

8. Garis yang tegak disebut ……

LIVEWORKSHEETS

III. Tarik dan tempatkanlah kotak-kotak jawaban pada soal yang tepat !

9.

10.

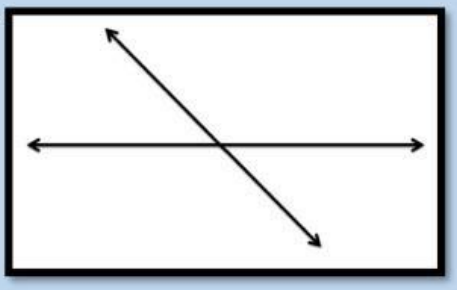

11.

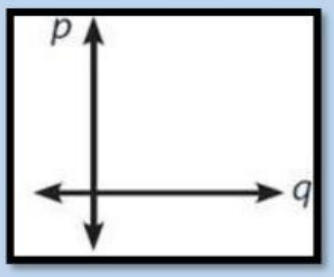

12.

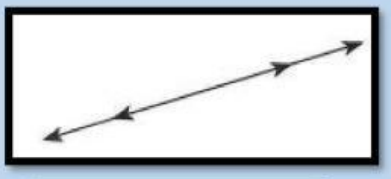

Garis berpotongan

Garis sejajar

Garis berimpit

Garis berpotongan tegak lurus

LIVEWORKSHEETS