MATEMÁTICAS SEGUNDO TRIMESTRE 2º GRADO

1. Continúa la siguiente sucesión de figuras.

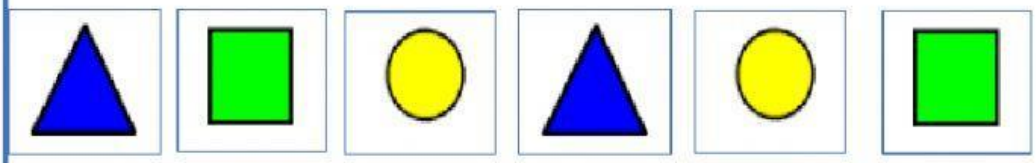

2. Coloca el signo de acuerdo a lo que se te pide.

56		89
150		150
600		300
45		39
120		300

LIVEWORKSHEETS

3. Selecciona que imagen es una retícula.

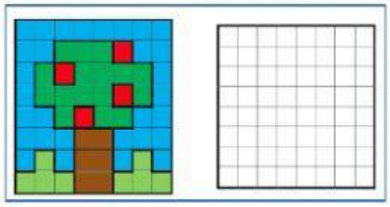

4. Relaciona las sumas con el sumando que falta.

____ + 8 = 20	___ + 10 = 25	____ + 12 =20	___ + 13 = 33

20	12	15	8

Soy un número
que sumando
con 23 da 38
¿Qué número soy?

Respuesta:

5. Contesta lo que se te pide

- Rocío se gastó $ 7. Si ahora tiene 22 ¿Cuánto dinero tenía?
- Mariana perdió 14 canicas. Si ahora tiene 5 ¿Cuántas tenía?

LIVEWORKSHEETS

6. Relaciona las columnas.

3 veces 5	8+8	3x5
6 veces 6	7+7+7+7	5x9
2 veces 8	9+9+9+9+9	6x6
4 veces el 7	5+5+5	2x8
5 veces el 9	6+6+6+6+6+6	4x7

7. Lupita va a hacer 7 suéteres como la de la imagen ¿Cuántos botones necesita en total?

	X		=	

LIVEWORKSHEETS

8. Une según corresponda



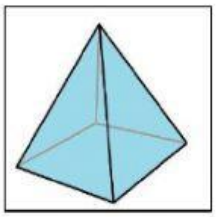

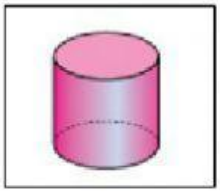

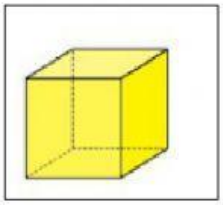

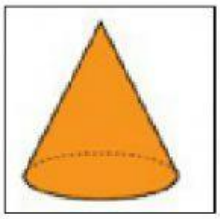

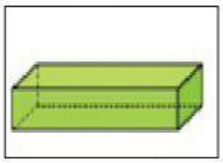

Cilindro

Cubo

Cono

Esfera

Prisma

Pirámide

LIVEWORKSHEETS

9. Valor posicional

a) En el 389 el 3 vale 300 , el 8 vale 80 8 y el 9 vale 9 .

b) En el 167 el 1 vale ____ , el 6 vale ____ y el 7 vale ____ .

c) En el 974 el 9 vale ____ , el 7 vale ____ y el 4 vale ____ .

10. Identifica la posición que ocupa el número subrayado y escríbelo.

Número C D U	Posición
2 7 8	
8 5 6	
1 4 9	
2 2 2	
6 3 7	

11. Lee la situación y resuelve.

En una papelería se venden lápiz por caja o en bolsas y sueltos como se muestra a continuación.

Caja con 100 lápices.

Bolsa con 10 lápices.

Lápices sueltos

¿Cuántas cajas, bolsas y lápiz sueltos completan los siguientes pedidos?

6 4 5= ____

LIVEWORKSHEETS

7 30=

12. Blanca se quiere comprar una mochila que cuesta 600 pesos.

a) ¿Cuánto dinero tiene?

b) ¿Cuánto le falta para comprar la mochila?

13. Observa y contesta

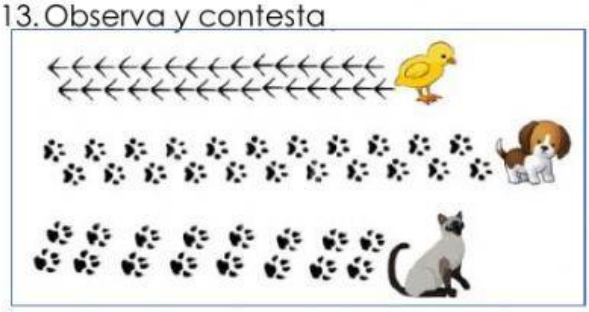

a) ¿De quién es el paso más largo?

b) ¿Quién da los pasos más pequeños?

c) ¿Quién recorrió un camino más largo?

LIVEWORKSHEETS