ورقة عمل (اختبر نفسك)

الفصل الثالث : **(٣-٥) المماسات**

الاسم : **الشعبة :**

١- حدد ما إذا كانت $\overline{FG}$ مماسًا لدائرة E

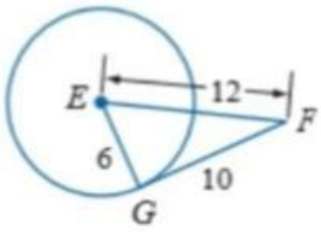

٢- إذا كان المضلع يحيط بالدائرة فأوجد قيمة x ثم أوجد محيط المضلع .

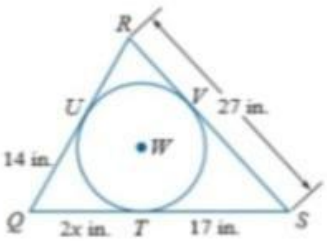

٣- أوجد قيمة x في الشكلين الآتيين مفترضًا أن القطعة المستقيمة التي تبدو مماسًا لدائرة هي مماس فعلاً :

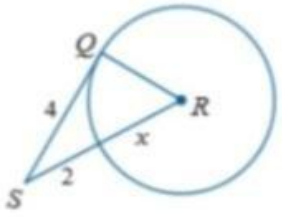

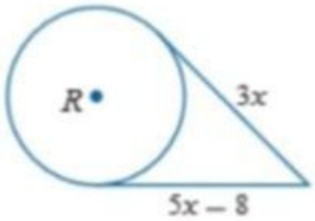

عمل على تفعيل ورقة العمل
طالبات :
ريماس عسيري
دانية الصاعدي رفيف المولد

باشراف المعلمه :
امينه رجب

LIVEWORKSHEETS