أسئلة على مؤشرات نافس

(يميز الزاوية الخارجية لمضلع ومجموع قياسات الزاوية الداخلية وأنواع الزوايا ويميز الاشكال المتماثلة

---

١ | **اوجد قيمة ص في المثلث التالي :**

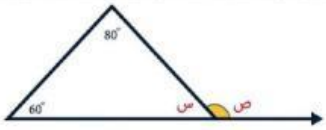

أ	ص = ٦٠	ب	ص = ٨٠
ج	ص = ١٢٠	د	ص = ١٨٠

٢

فن العمارة : استُعمل في تصميم البناء في الصورة المبينة على اليسار أشكال رباعية، والواجهة الأمامية للبناء مكونة من تكرار لمضلعات رباعية منتظمة (مربعات). أوجد قياس الزاوية الداخلية للمربع.

أ	٩٠	ب	١٨٠
ج	٣٦٠	د	٢٧٠

---

٣ **كم فياس الزاوية الخارجية في المربع التالي**

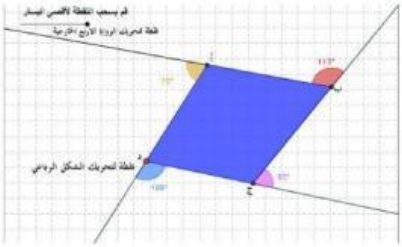

أ	٩٠	ب	٢٧٠
ح	١٨٠	د	٣٦٠

---

٤ في الشكل التالي إذا كان المستقيمان آ وَ ب متوازيين، فما قيمة س؟

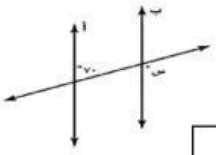

أ	٧٠	ب	٩٠
ج	١١٠	د	١٨٠

---

٥ **أي حروف كلمة (MATH) يكرر نفسه بزاوية دوران قياسها ١٨٠ °**

أ	A	ب	T
ج	M	د	H

٥

المرجع : أسئلة محاكية للاختبارات الوطنية (نافس) إدارة الاشراف التربوي بجازان
الأوراق التفاعلية اعداد المعلمة :حسنة الزهراني

LIVEWORKSHEETS