1. Complete cada sucesión.

a. ____

b. ____ ____

c. ____ ____ ____ ____

2. Anote con palabras el patrón de cada sucesión.

a. 105, 110, 115, 120, 125 » Patrón: _____

b. 240, 260, 280, 300, 320 » Patrón: _____

c. » Patrón: _____

3. Escriba el patrón en el recuadro en blanco de la siguiente sucesión.

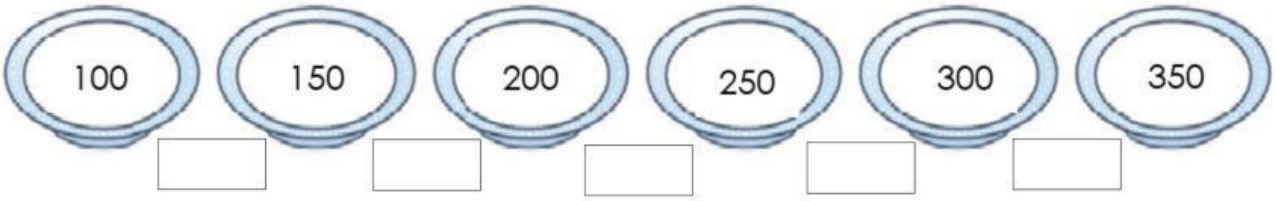

Aplicar. Escriba el patrón usando un número y uno de los signos + o –. Luego, complete la sucesión.

a.

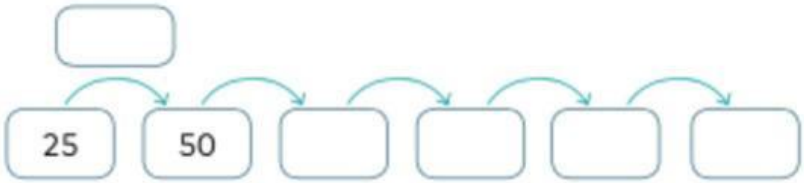

b.

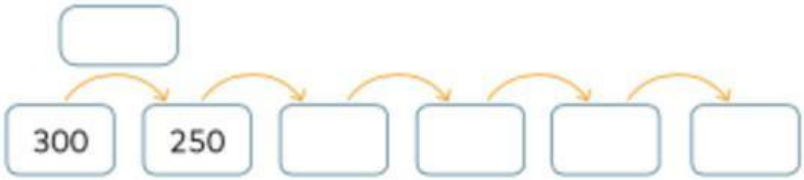

LIVEWORKSHEETS