БК: Сол қол ережесін қолданып Ампер және Лоренц күштерінің бағытын анықтай алады.

Жеке жұмыс. Дағды деңгейі: Қолданау. Өзара бағалау.

_____ 10_____ сын

1. Ампер күшінің әсер ету бағытын көрсетіңдер (солға, оңға, жоғары, төмен)

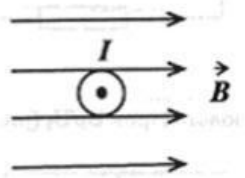

2. Қозғалыстағы зарядтың таңбасын анықтаңыз

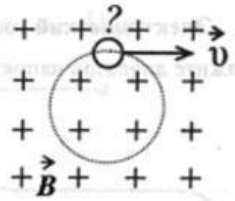

3. Ампер күшінің әсер ету бағытын көрсетіңдер (солға, оңға, жоғары, төмен)

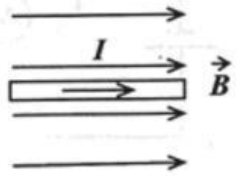

4. Лоренц күшінің әсер ету бағытын көрсетіңдер (солға, оңға, жоғары, төмен))

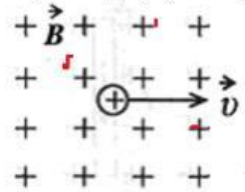

5 Ампер күшінің әсер ету бағытын көрсетіңдер (солға, оңға, жоғары, төмен)

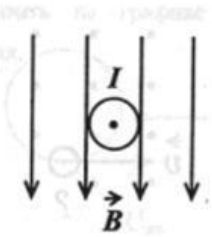

БК: Сол қол ережесін қолданып Ампер және Лоренц күштерінің бағытын анықтай алады.

Жеке жұмыс. Дағды деңгейі: Қолданау. Өзара бағалау.

_____ 10_____ сын

1. Ампер күшінің әсер ету бағытын көрсетіңдер (солға, оңға, жоғары, төмен))

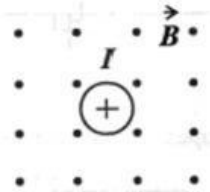

2. Ампер күшінің әсер ету бағытын көрсетіңдер (солға, оңға, жоғары, төмен)

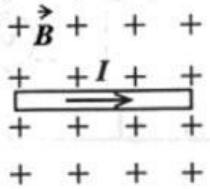

3. Ампер күшінің әсер ету бағытын көрсетіңдер (солға, оңға, жоғары, төмен)

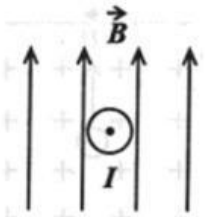

4. Ампер күшінің әсер ету бағытын көрсетіңдер (солға, оңға, жоғары, төмен)

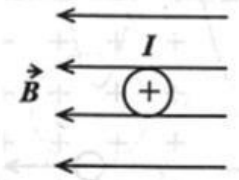

5. Қозғалыстағы зарядтың таңбасын анықтаңыз

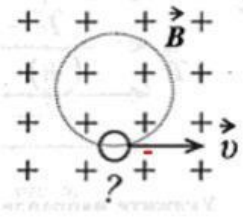

LIVEWORKSHEETS