KURIKULUM MERDEKA

LKPD

Lembar Kerja Peserta Didik

Kesebangunan dan Kekongruenan Bangun Datar

LIVEWORKSHEETS

Soal Pilihan Ganda

1. Diketahui segitiga DEF dan segitiga PQR sebangun, panjang DE=9 cm, EF = 12 cm, DF = 6 cm, PQ = 15 cm, PR = 10 cm, QR = 20 cm. Perbandingan sisi - sisi pada kedua segitiga tersebut adalah … .

   3 : 4 | 4 : 5 | 3 : 5 | 9 : 10

2. Bangun manakah di bawah ini yang kongruen dengan gambar di samping?

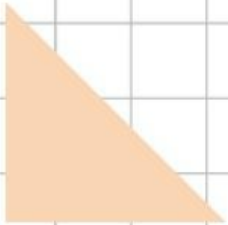

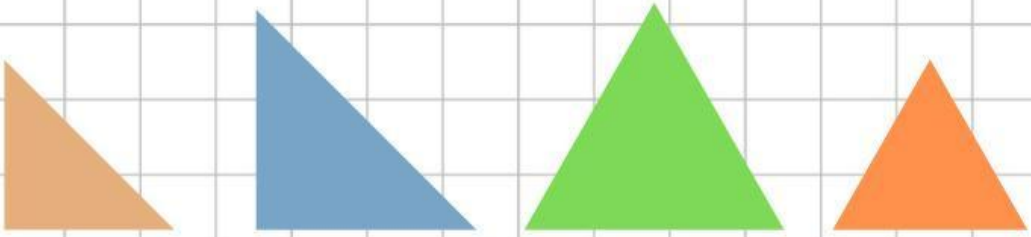

Soal Isian Singkat dan Paragraf

3. Kesebangunan adalah dua buah bangun yang memiliki bentuk yang sama akan tetapi ukuran … .

4. Syarat dua bangun datar dikatakan kongruen adalah … .

LIVEWORKSHEETS

Soal Drop Down

5. Silakan tulis pernyataan sebangun atau kongruen berdasarkan gambar yang tercantum!



Soal Check Box

6. Dua segitiga dikatakan kongruen jika memenuhi beberapa kondisi berikut ini. Tentukan mana saja pernyataan yang benar … .

Ketiga pasangan sisi yang sama panjang

Ketiga pasangan sisi yang sama panjang

Dua pasang sisi sama panjang dan sudut yang diapit sama besar

LIVEWORKSHEETS

Soal Join Arow

7. Tarik garis untuk memasangkan mana saja bangun yang sebangun, kongruen atau tidak keduanya!



Kongruen

Tidak Keduanya

Soal Drag and Drop

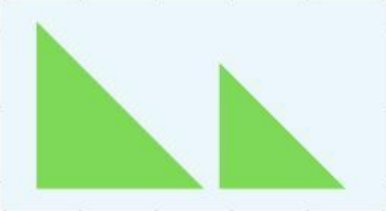

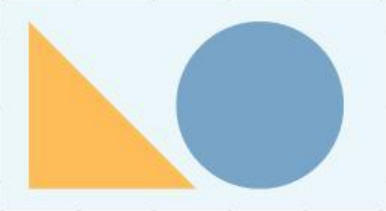

Sebangun

Kongruen

Tidak keduanya

LIVEWORKSHEETS

Soal Listening

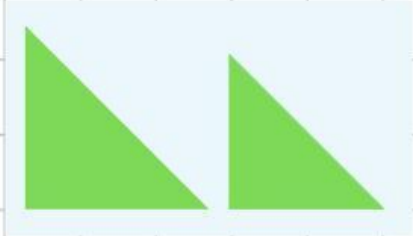

Benar Salah

Benar Salah

Soal Speaking

8. Dua buah bangun yang memiliki bentuk dan ukuran yang sama disebut … .

9. Dua buah bangun yang memiliki bentuk yang sama akan tetapi ukurannya berbeda disebut … .

LIVEWORKSHEETS

Soal Word Search

Cari kata: SEBANGUN, KONGRUEN, SEGITIGA, SUDUT, SISI

Z	S	E	B	A	N	G	U	N	O
I	S	D	Z	B	C	U	Y	I	K
T	A	X	L	J	H	F	W	Z	P
C	Z	D	U	C	S	N	Z	Q	R
K	O	N	G	R	U	E	N	Y	S
M	C	V	S	D	D	W	Q	N	I
N	I	W	R	S	U	Z	A	K	S
O	S	E	G	I	T	I	G	A	I

LIVEWORKSHEETS