MATEMÁTICAS

NÚMEROS

Repaso del 1 al 4

1. Cuenta los peces y une



1 uno

2 dos

3 tres

4 cuatro

2.- Selecciona

2 dos	
4 cuatro	
3 tres	
1 uno	

LIVEWORKSHEETS

3.- Completa los diagramas

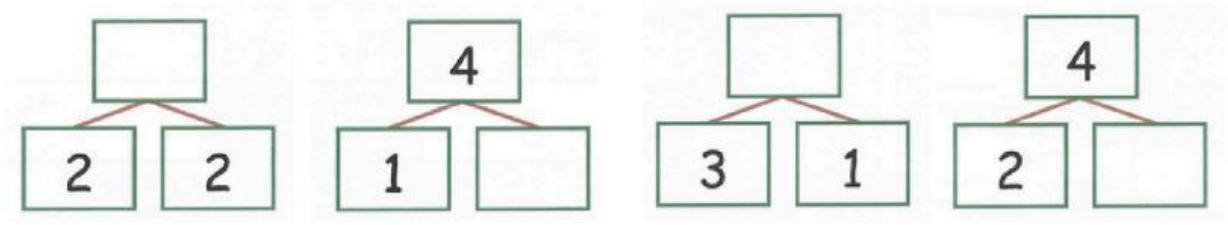

4.- Completa con el número que falta

2 = 1 + ___	4 = 3 + ___	3 = 1 + ___
3 = 2 + ___	4 = 1 + ___	4 = 2 + ___

5.- Elige el número correcto

6.- Ordena de menor a mayor



LIVEWORKSHEETS