mediadaringlulukindahsari2024

LKPD DARING
MATEMATIKA VII

NAMA :
KELAS :

RANGKUMAN DAN CONTOH SOAL

MACAM MACAM DIAGRAM

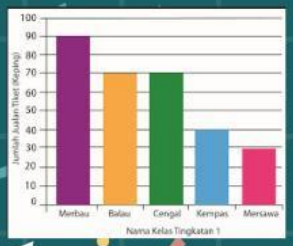

DIAGRAM BATANG

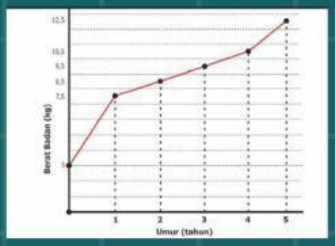

DIAGRAM GARIS

Moda Keberangkatan	Banyak Siswa
Diantar	10
Taxi	6
Ojek	12
Jalan Kaki	4
Jumlah	32

TABEL DAN DIAGRAM LINGKARAN

CONTOH SOAL

Data tinggi badan 26 siswa kelas VII D adalah sebagai berikut:
151, 151, 150, 157, 152, 160, 155, 152, 152, 154, 155, 155, 155, 157, 160, 160, 157, 158, 159, 159, 160, 152, 154, 156, 159, 153
sajikan dalam tabel, diagram batang, dan diagram garis.

Jawaban

Tinggi Badan	Banyak nya data
150	1
151	2
152	4
153	1
154	2
155	4
156	1
157	3
158	1
159	3
160	4
Jumlah	26

DIAGRAM BATANG

LIVEWORKSHEETS

LATIHAN SOAL

Tabel 7.1 Data ukuran kaus peserta didik SMP Maju Terus.

	1	2	3	4	5	6	7	8	9	10	11	12	13	14	15	16	17	18	19	20
1	L	L	M	M	M	S	L	S	S	XL	XL	M	L	L	XL	S	S	M	M	S
2	XL	M	XL	M	M	L	S	S	L	M	S	S	S	L	S	L	M	M	L	M
3	S	M	L	M	L	M	XL	L	L	L	M	L	S	XL	M	L	S	M	L	L
4	L	XL	XL	L	L	L	L	L	M	S	XL	M	M	S	S	S	S	M	M	XL
5	L	L	L	S	XL	M	M	M	M	S	S	S	M	M	XL	S	S	L	L	M
6	M	S	L	M	M	M	XL	L	L	S	S	L	S	L	S	L	S	M	M	L
7	L	S	M	L	L	S	M	L	M	M	L	M	XL	M	M	M	L	XL	M	M
8	L	M	M	L	L	S	L	M	M	M	M	S	M	M	L	M	L	L	L	M
9	S	XL	S	S	M	M	M	L	L	M	M	L	M	S	S	L	XL	L	XL	M
10	M	M	S	S	M	M	S	M	L	M	L	S	S	S	S	L	S	M	M	L
11	M	S	M	L	L	S	S	M	S	S	XL	L	M	L	M	L	XL	S	S	M
12	S	M	XL	XL	M	L	XL	M	M	S	M	S	M	L	XL	L	L	L	M	XL
13	L	XL	M	M	M	M	L	S	M	S	M	S	M	S	L	S	M	M	S	L
14	M	M	XL	M	M	L	M	S	L	L	L	L	L	S	XL	S	XL	XL	M	L
15	L	M	L	L	L	S	M	L	S	M	M	L	M	L	L	L	XL	S	S	M
16	M	M	M	L	M	L	M	M	M	M	M	M	M	M	L	M	L	L	M	L
17	S	XL	L	M	M	M	L	M	S	L	L	M	L	M	M	S	L	M	L	L
18	L	L	S	S	L	M	M	M	L	M	S	M	M	M	S	S	L	XL	L	M
19	M	L	XL	M	M	M	M	M	M	L	XL	S	XL	XL	S	L	XL	M	M	S
20	M	M	L	M	S	M	M	M	M	L	S	L	L	M	XL	M	M	L	L	S
21	L	L	XL	M	L	M	L	M	S	L	M	M	M	XL	L	M	M	XL	L	M
22	L	L	M	S	S	XL	L	XL	L	M	S	M	M	M	M	S	M	XL	M	L
23	S	L	L	M	M	S	M	XL	M	L	M	M	L	M	L	L	L	M	L	S
24	L	S	M	S	XL	S	S	M	M	M	L	M	M	S	M	S	XL	L	L	L
25	S	S	XL	S	L	L	M	L	M	M	XL	XL	S	L	M	L	M	M	M	L
26	S	M	XL	L	XL	M	M	L	M	L	L	M	XL	M	M	XL	L	M	S	S
27	S	M	L	L	M	S	L	M	M	S	M	XL	M	M	M	L	M	M	M	M
28	M	M	M	S	XL	M	S	L	S	L	M	L	L	L	L	S	S	L	S	L
29	L	L	S	M	S	S	L	S	S	L	L	M	L	S	L	M	M	M	S	S
30	L	M	L	L	L	M	M	M	S	M	M	L	XL	M	L	L	M	M	L	M
31	L	L	M	M	L	M	M	M	L	S	L	XL	L	S	M	S	L	L	S	L
32	L	L	L	M	M	L	S	S	M	L	M	XL	L	L	L	L	XL	L	S	M
33	M	M	S	M	S	XL	S	XL	M	L	L	M	M	M	L	L	M	M	S	M
34	M	M	S	M	XL	M	M	M	M	M	L	M	M	L	XL	S	M	M	L	L
35	M	S	S	M	L	M	XL	M	XL	L	L	L	M	XL	XL	S	M	S	M	L

Buatlah tabel dan diagram batang dari data ukuran kaos di atas

LIVEWORKSHEETS

mediadaringlulukindahsari2024

LEMBAR JAWABAN

Lengkapi tabel dibawah dengan mengisi pada kotak yang telah di sediakan

DATA UKURAN KAOS SISWA SMP MAJU TERUS

UKURAN	BANYAK
S	
M	
L	
XL	
Total	

Lengkapi diagram batang dibawah dengan menarik diagram sesuai data ukuran kaos siswa SMP Maju Terus.

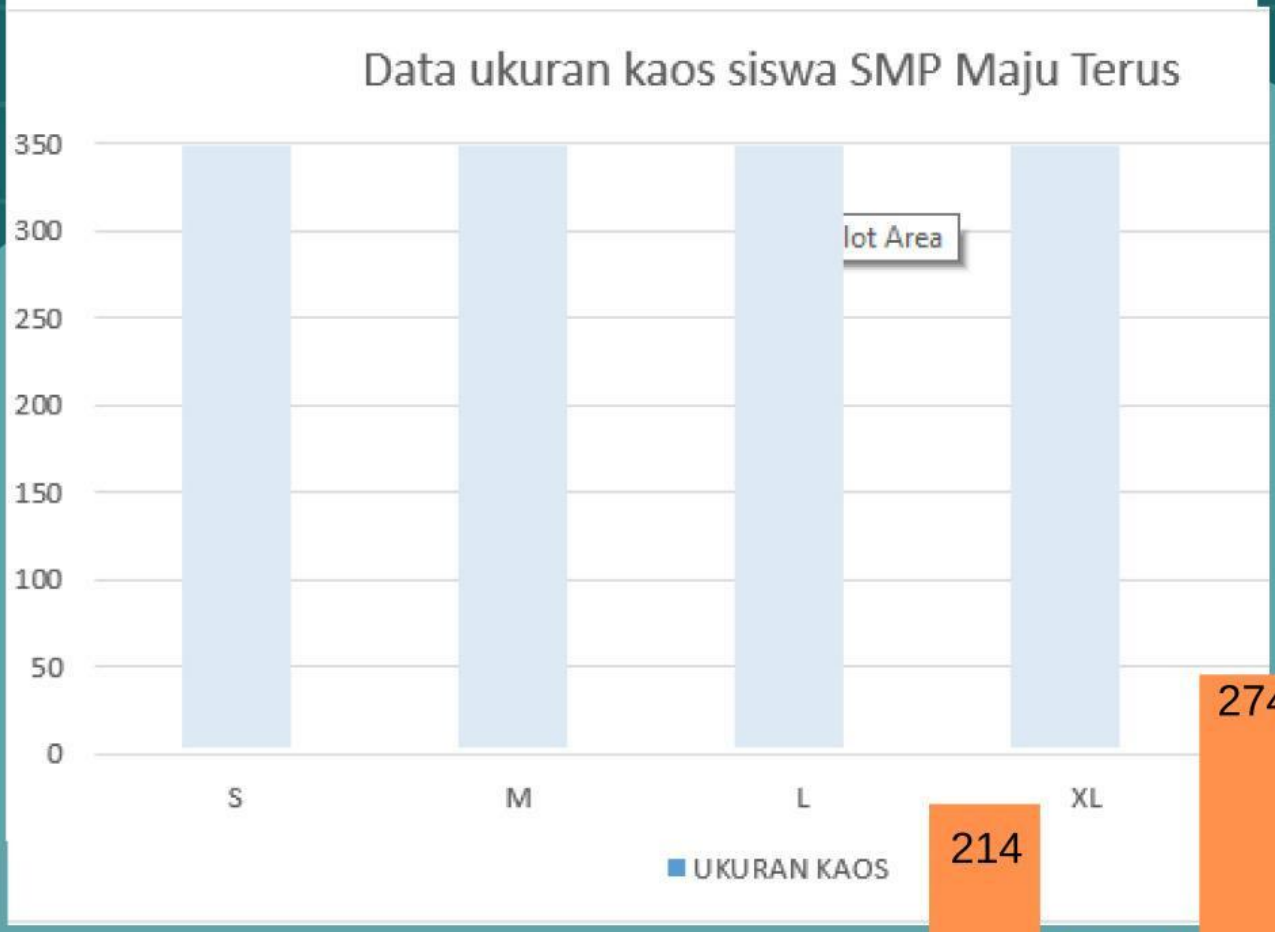

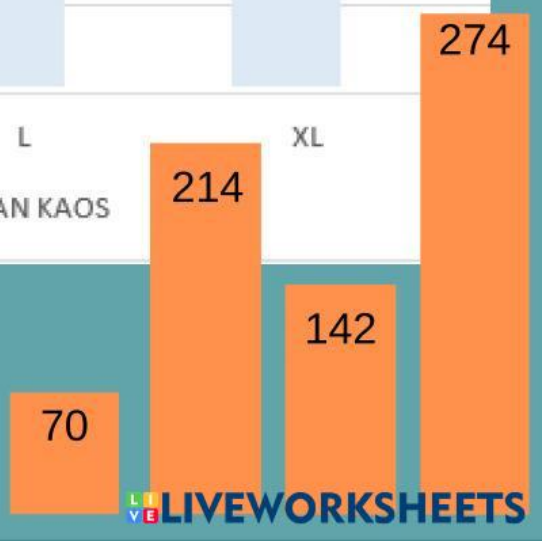

LIVEWORKSHEETS

LATIHAN SOAL LITERASI

1. Dari data ukuran kaos siswa SMP Maju Terus, jumlah siswa dengan ukuran kaos S adalah . . . .
a. 70 siswa
b.214 siswa
c. 274 siswa
d. 142 siswa

2. Jumlah siswa paling sedikit adalah yang memiliki ukuran kaos . . .
a. Kaos S
b.Kaos M
c. Kaos L
D. Kaos XL

3. Jumlah siswa paling banyak adalah yang memiliki ukuran kaos . . .
a. Kaos S
b.Kaos M
c. Kaos L
D. Kaos XL

4. Jumlah seluruh siswa pemesan koas SMP Maju Terus adalah . . .
a. 700 siswa
b. 600 siswa
c. 500 siswa
d. 400 siswa

5. Selisih pemesan koas ukuran M dan kaos ukuran L adalah , , . .
a. 60 anak
b. 144 anak
c. 70 anak
d. 154 anak

LIVEWORKSHEETS