LKPD

LEMBAR KERJA PESERTA DIDIK

BANGUN DATAR

Disusun Oleh:

Fitria Khairani Salsabila

LIVEWORKSHEETS

Nama:

Kelas:

No :

Lingkaran	Segi enam	Segitiga
Layang layang	Persegi	Trapesium

Jawablah soal berikut dengan memilih jawaban dari kolom diatas!

1. Bangun datar yang jumlah sisinya 4 adalah...
2. Bangun datar yang jumlah sisinya 3 adalah...
3. Bangun datar yang tidak memiliki titik sudut adalah...
4. Bangun datar yang memiliki sepasang sisi sejajar adalah...
5. Bangun datar yang jumlah sisinya 6 adalah...
6. Bangun datar yang memiliki satu sumbu simetri putar adalah...

LIVEWORKSHEETS

Pasangkan dengan yang tepat!



- Persegi
- Lingkaran
- Segitiga
- Persegi panjang

LIVEWORKSHEETS

Isilah titik-titik di dalam kolom sesuai bentuk gambar yang disajikan!

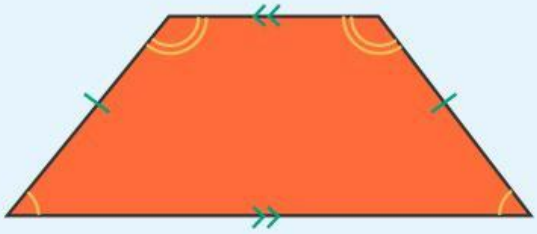

.....

.....

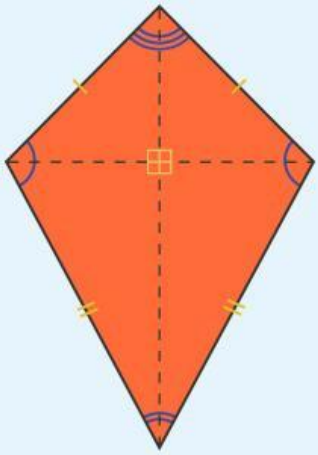

.....

.....

LIVEWORKSHEETS

Kerjakan soal isian berikut ini!

1. Jumlah sisi persegi adalah...
2. Jumlah titik sudut segitiga adalah...
3. Jumlah sisi segi enam adalah...
4. Jumlah titik sudut jajar genjang adalah...
5. Jumlah sisi trapesium adalah...
6. Luas persegi adalah...
7. Luas segitiga adalah...
8. Luas pesegi panjang...
9. Keliling segitiga adalah...
10. Keliling persegi adalah...

LIVEWORKSHEETS