WAKTU DAN DURASI

Lembar Kerja Peserta Didik
Matematika Kelas 2 Bab 3 Volume 1

Oleh: Westu Sedyo Kinasih

LIVEWORKSHEETS

Video Materi

Simaklah video tentang materi waktu dan durasi ini untuk menambah pemahamanmu!

Waktu dan Durasi

Setelah penjelasan materi oleh guru dan penayangan video, jelaskan apa saja yang kamu ketahui tentang waktu dan durasi!

LIVEWORKSHEETS

Nama: _____ Tanggal: _____

Tunjukkan Waktu yang Telah Berlalu

Bersiaplah untuk memecahkan masalah ini dan menunjukkan waktu akhir setiap aktivitas dengan menggambar jarum jam menggunakan alat gambar Live Worksheet!

1 **Pelajaran berenang Elianna memakan waktu 1 jam dan 20 menit. Jika dia mulai pukul 16:00, jam berapa berakhir dia akan selesai?**

Jam	Menit
+	

Tunjukkan jawaban lengkapmu di sini.

00:00 PAGI/SIANG/ MALAM/SIANG

2 **Sky dan Ava menyelesaikan pertandingan basket mereka pada pukul 11:55, setelah bermain selama 25 menit. Jam berapa mereka mulai bermain?**

Jam	Menit
+	

Tunjukkan jawaban lengkapmu di sini.

00:00 PAGI/SIANG/ MALAM/SIANG

LIVEWORKSHEETS

Nama: Tanggal: Kelas:

Jam berapa?

Seret dan lepas waktu tertulis ke jam yang sesuai.

Jam enam

Pukul lima kurang 10 menit

Jam dua belas

Pukul dua kurang tiga puluh menit

Jam lima

Pukul delapan lebih 20 menit

Pukul dua belas lebih dua puluh lima menit

Pukul delapan

Jam empat

LIVEWORKSHEETS

Name: _____ Date: _____

Waktu

Lihatlah waktu pada jam dinding dan pilih opsi di sampingnya dengan tepat!

Pukul dua Pukul dua belas	Pukul delapan Pukul sembilan
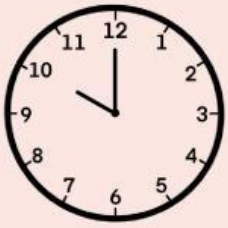 Pukul sebelas Pukul sepuluh	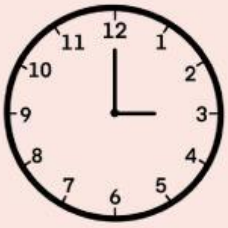 Pukul tiga Pukul tujuh
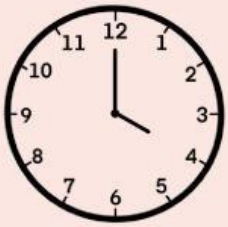 Pukul lima Pukul empat	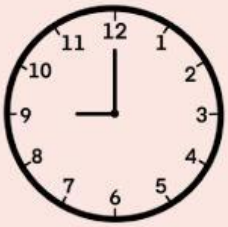 Pukul sembilan Pukul delapan
Pukul tujuh Pukul enam	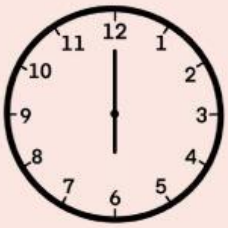 Pukul lima Pukul enam
Pukul satu Pukul empat	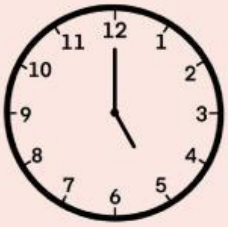 Pukul lima Pukul sembilan

LIVEWORKSHEETS

Nama : .....

Kelas : .....

Hubungkan!

Hubungkan pasangan yang tepat dengan sebuah garis!

1 tahun	48 jam
60 detik	3600 detik
14 hari	12 bulan
180 menit	3 jam
2 hari	1 menit
1 jam	2 minggu

LIVEWORKSHEETS

CARI KATA

WAKTU DAN DURASI

s	n	s	j	a	m	k	d	k	l	x
e	s	n	w	k	d	e	t	i	k	m
p	s	i	a	n	g	p	p	g	d	e
e	g	y	k	t	b	w	a	a	r	n
r	b	t	t	p	u	q	k	g	d	i
e	n	a	u	n	l	p	u	g	i	t
m	h	h	a	n	a	l	o	g	g	p
p	z	u	c	v	n	g	d	r	i	k
a	i	n	g	g	u	i	u	g	t	f
t	a	k	a	l	b	x	a	k	a	k
s	e	t	e	n	g	a	h	f	l	t

LIVEWORKSHEETS

JAM BERAPA?

Tulis waktu yang ditunjukkan pada jam analog!

:

:

:

:

:

:

:

:

:

LIVEWORKSHEETS

Jam berapa?

Lihatlah jarum jam. Tulis waktu yang benar di bawah setiap jam!

Pukul setengah tujuh

Pukul lima kurang 30 menit

Pukul 16.30

Pukul sebelas lebih 30 menit

Pukul 13.30

Pukul sepuluh kurang 30 menit

LIVEWORKSHEETS

Latihan Soal

Nama Siswa: _____

Nomor absen: _____

Berapa lama waktu antara pukul 01.00 sampai 04.00 sore?

Pukul berapakah 3 jam setelah pukul 11.00 pagi?

Pukul berapakah 2 jam sebelum pukul 01.00 siang?

Berapa lama waktu antara pukul 9 lebih 20 menit pagi sampai dengan pukul 10 lebih 10 menit pagi?

Yuli berbelanja dengan ibunya. Mereka meninggalkan rumah pada pukul 02.55 siang. Setelah berbelanja, mereka kembali ke rumah dan tiba pukul 04.57 sore. Berapa lama mereka pergi?

LIVEWORKSHEETS

Teka Teki Silang

Isilah kotak yang telah disediakan sesuai dengan soal yang ada di bawah!

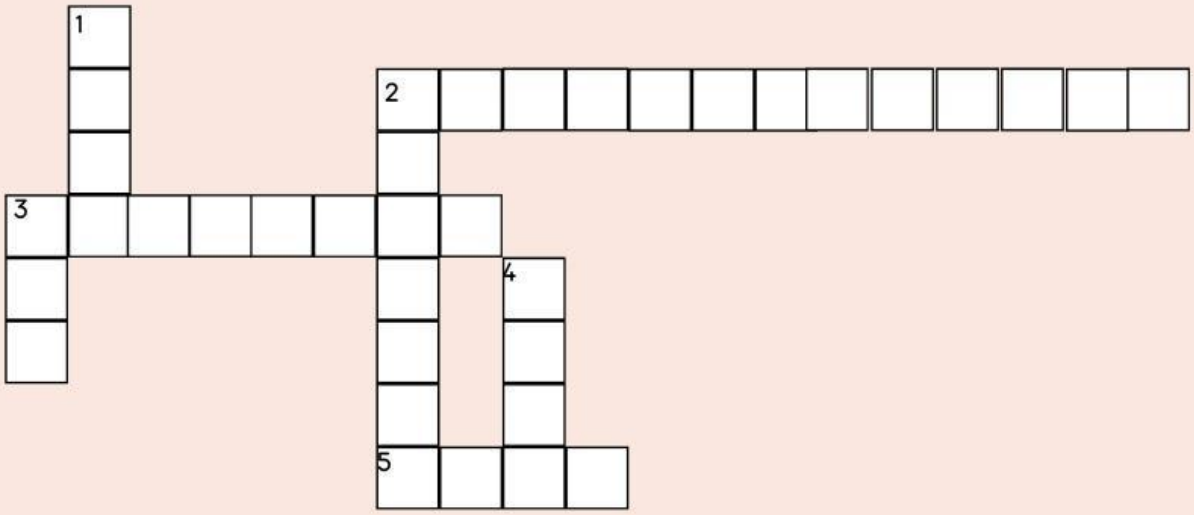

Mendatar

2. 1 hari = ... jam

3. Durasi waktu jarum pendek berputar sekali adalah ... jam

5. 60 menit = ...jam

Menurun

1. Durasi waktu jarum panjang berputar sekali putar adalah ... jam

2. Tengah hari sama dengan pukul ... siang

3. Jarum pendek dalam sehari berputar sebanyak ... kali

4. Durasi waktu untuk jarum panjang berpindah satu skala pada jam disebut dengan...

Time

LIVEWORKSHEETS