שם: _____

שברים על ישר המספרים

שאלה 1

סמנו את ישר המספרים שבו המספר $\frac{7}{5}$ מופיע במיקום הנכון:

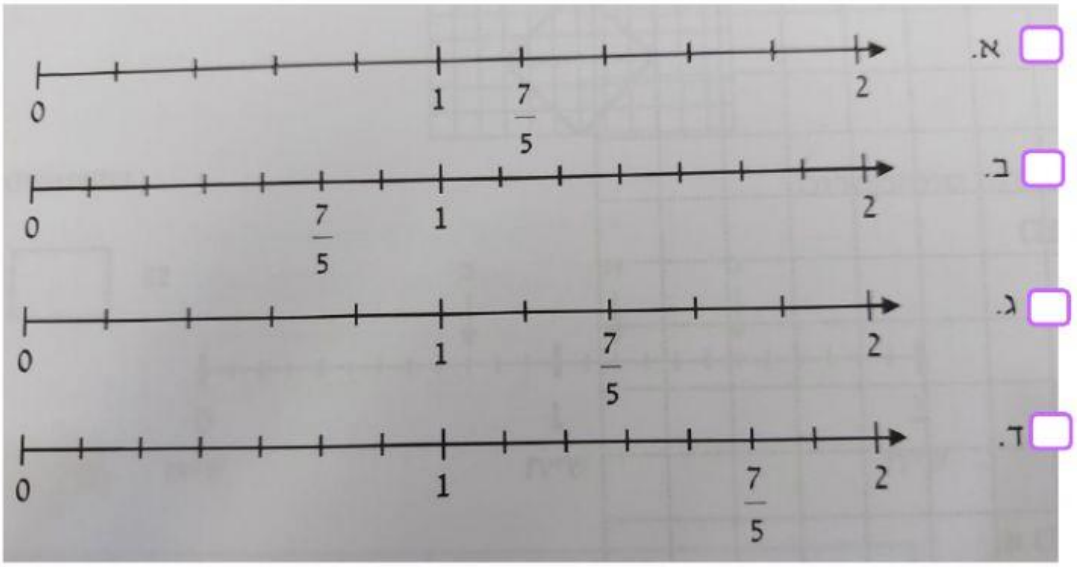

שאלה 2

נתון ישר מספרים סמנו את המשבצת המייצגת את המספר 1



שאלה 3

לפניכם ישר מספרים. רשמו את השברים המתאימים



LIVEWORKSHEETS

שאלה 4

סמנו את ישר המספרים שבו המספר $\frac{6}{7}$ מופיע במיקום הנכון:



שאלה 5

הַשלימו את המספרים החסרים במשבצות.

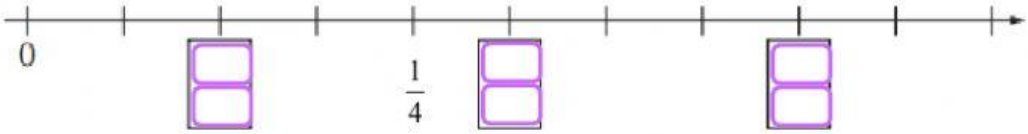

שאלה 6

לפניכם קטע מודגש על ישר המספרים. בחרו את המספר שנמצא בקטע המודגש.

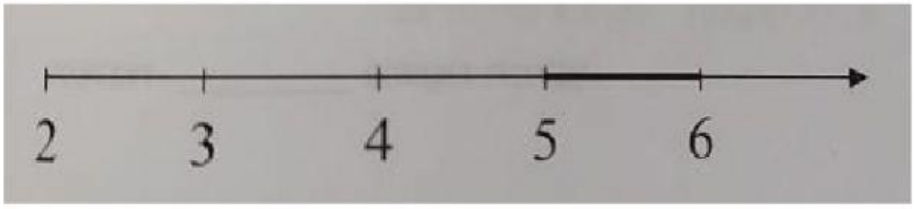

א. $\frac{25}{4}$ ב. $\frac{16}{3}$ ג. $\frac{17}{4}$ ד. $\frac{13}{3}$

LIVEWORKSHEETS