Decimāldaļas jēdziens, nosaukšana, pieraksts un atlikšana uz skaitļu ass

1. Nosaki, kāda daļa no figūras ir iekrāsota. Pieraksti to kā daļu un decimāldaļu.

a)		**b)**	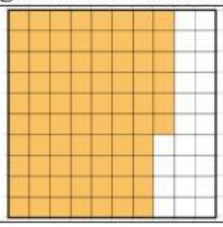	**c)**	
d)		**e)**	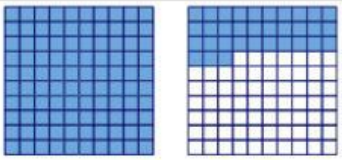	**f)**	

2. Iekrāso norādīto daļu!

a)	 0,8	**b)**	 $\frac{7}{10}$	**c)**	 0,13
d)	 $\frac{42}{100}$	**e)**	 $1\frac{35}{100}$	**f)**	 2,08

3. Uzraksti doto decimāldaļu ar vārdiem un ar skaitļiem!

Ar vārdiem	**Ar skaitļiem**	
	Kā daļu	**Kā decimāldaļu**
Divas desmitdaļas		
Sešpadsmit tūkstošdaļas		
	$\frac{7}{100}$	
		0,51
		0,804

LIVEWORKSHEETS

Divi veseli un piecpadsmit simtdaļas		
		2,06

4. Nosaki decimāldaļas skaitļa sastāvu!

Paraugs $0{,}45 = \frac{4}{10} + \frac{5}{100}$
0,64 =
0,08 =
1,37 =
4,007 =
60,87 =

5. Nosaki, kāda nozīme ir ciparam 5 katrā dotajā skaitlī!

Paraugs 0,57 – 5 desmitdaļas

a)	0,752	**b)**	3,185	**c)**	15,201
d)	502,3	**e)**	0,500	**f)**	5413,20

6. Uzraksti skaitli (decimāldaļas veidā), kurā ir:

Paraugs: divas simtdaļas	0,02
a) 3 desmitdaļas un 4 simtdaļas	
b) Viens vesels, piecas desmitdaļas un trīs tūkstošdaļas	
c) Četri simti, trīs desmiti un viena desmitdaļa	
d) Pieci desmiti un piecas simtdaļas	
e) Vieni ir lielākais viencipara skaitļis, bet desmitdaļas ir mazākais nepāra skaitlis	
f) Trīs desmitdaļas, bet simtdaļu ir 2 reizes vairāk	
g) Viens desmits, vienu nav, bet desmitdaļas un simtdaļas ir par 4 vairāk nekā desmiti	
h) 6 vieni, desmitu ir par 2 mazāk nekā vieni, desmitdaļu par 2 vairāk nekā desmitu, bet simtdaļas uz pusi mazāk nekā desmitdaļas	

LIVEWORKSHEETS

7. Papildini skaitļu asi ar trūkstošajiem skaitļiem!

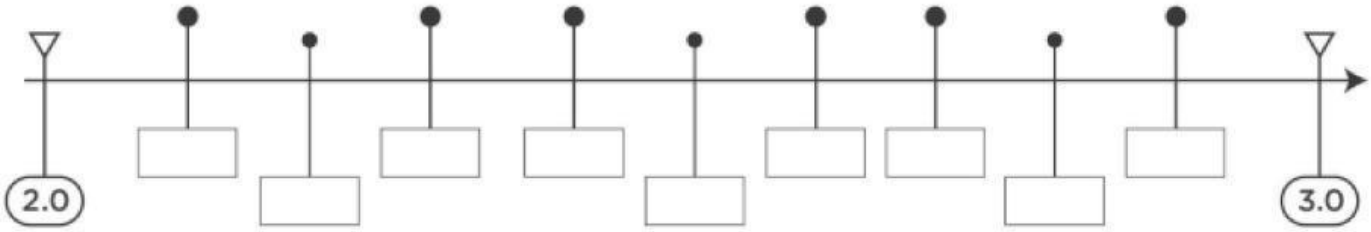

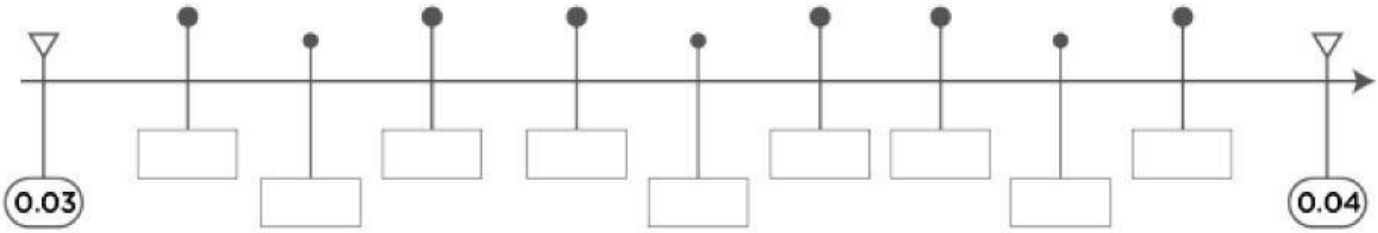

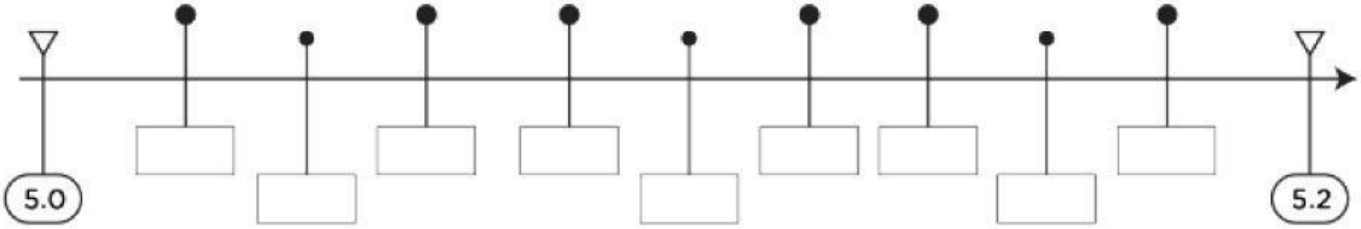

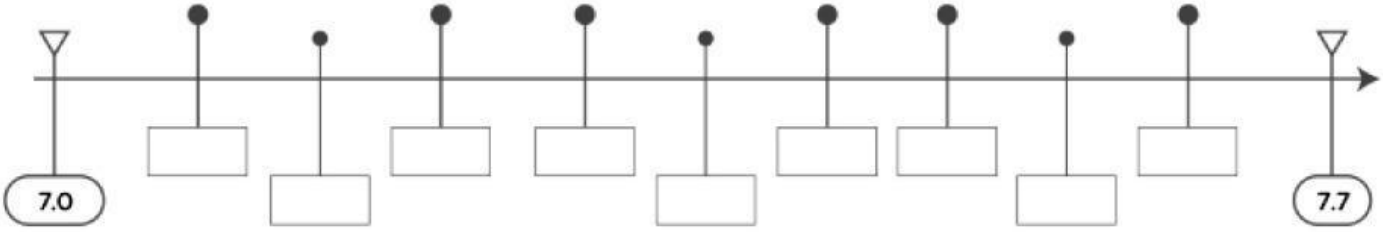

8. Uzzīmē skaitļu asi un atliec uz tās:

a) 1,2; 1,5; 1,9; 2,3

b) 0,14; 0,15; 0,19; 0,23; 0,3

c) 0,5; 0,75; 0,80; 0,92; 1

LIVEWORKSHEETS