## Десяток. Утворення десятків першої сотні. Лічба.

**1** Запиши послідовно числа в порядку зменшення.
10, 6, 5, 3, 1, 7, 2, 8, 9, 4.

**2** Скільки десятків ягід горобини на китицях? Запиши.



**3 дес. = 30**



☐ дес. = ☐☐



☐ дес. = ☐☐

☐ дес. = ☐☐



☐ дес. = ☐☐

☐ дес. = ☐☐

LIVEWORKSHEETS