ESCUELA DE EDUCACIÓN BÁSICA PUNTO DE PARTIDA
Educación de calidad y calidez

EVALUACIÓN DEL SEGUNDO TRIMESTRE DEL ÁREA DE CIENCIAS NATURALES		
Name:		**Score:**
Grade:	**Date:**	
Phrase: Usted mismo, tanto como cualquier otro en el universo entero, merece su amor y afecto (Buda)		

Indicaciones Generales:

Lee con atención las preguntas.
¡Éxitos!

1. Selecciona la opción que no corresponde al ciclo vital de los seres vivos.

a) Nacer	b) Crecer	c) Alimentar	d) Morir
			

2. Selecciona la respuesta correcta:

Los animales vertebrados son aquellos que…
a) No poseen esqueleto pero sí columna vertebral.
b) Poseen solo esqueleto.
c) Poseen esqueleto interno y columna vertebral.
d) No poseen esqueleto interno.

3. Selecciona las respuestas correctas.
Las plantas con semillas pueden clasificarse en:

a) gimnospermas	b) musgos	c) hepáticas	d) angiospermas

LIVEWORKSHEETS

ESCUELA DE EDUCACIÓN BÁSICA PUNTO DE PARTIDA
Educación de calidad y calidez

4. De las siguientes acciones ¿Qué medidas nos permiten proteger nuestro entorno?

a) Reciclar
b) Botar la basura en los ríos.
c) Utilizar aerosoles
d) Talar árboles

5. Selecciona el órgano que interviene principalmente en el proceso de respiración:

A) ojos	**b) pulmones**	**c) intestino grueso**	**d) corazón**
		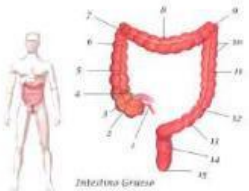	

6. Selecciona los alimentos de origen vegetal:

		

7. Selecciona la opción que permita completar la afirmación:
La…….. es la cantidad de materia que tiene un cuerpo.

a) volúmen	b) dureza
c) masa	d) maleabilidad

LIVEWORKSHEETS

8. ¿Cuál es la fuerza que posee un imán?

a) Fuerza de atracción	b) Fuerza gravitacional

9. De las siguientes fuentes de energía ¿Cuáles son renovables?

10. Observa la siguiente imágen. ¿Cómo se denomina a la parte más clara que se visualiza en la pantalla blanca, como producto de la luz emitida por la linterna?

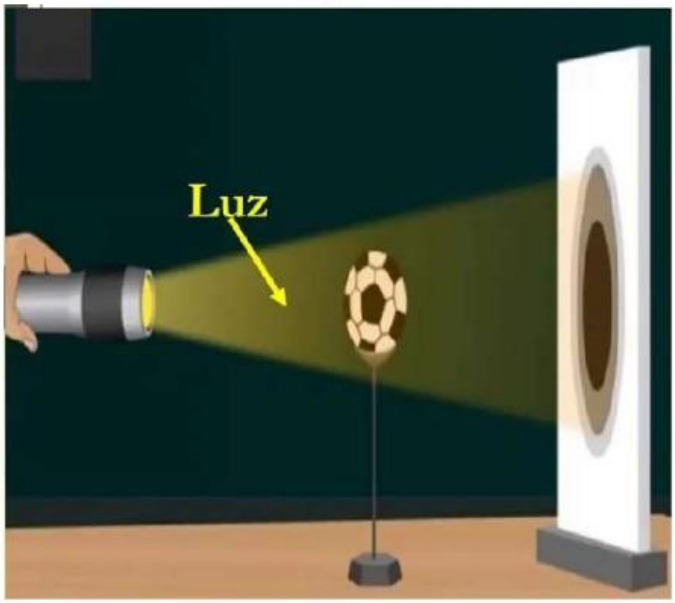

a) Sombra	**b) Penumbra**

LIVEWORKSHEETS

11. Selecciona la opción que demuestre la importancia de las fuentes de energía no renovables.

a) Evita la contaminación del aire	**c) Reduce los recursos**
b) Promueve la basura	**d) Incrementa los gastos**

13. Seleccione la capa del suelo que está formada por fragmentos de roca, entre los que crecen las raíces de las plantas.

a) Capa profunda	b) Capa intermedia	c) Capa superficial

14. Ordena el ciclo del agua:

Evaporación	**Precipitación**	**Condensación**	**Absorción**
1.	**2.**	**3.**	**4.**

15. De las siguientes actividades ¿Cuáles podemos realizar en el día?

a) Dormir	b) Jugar	c) Cenar	d) Desayunar

Firma del docente:	**Firma del representante:**

LIVEWORKSHEETS