BELAJAR DAN BERBAGI BERSAMA MGMP MATEMATIKA

LKPD ONLINE

Nama

Asal sekolah

Desjgned by: Andi Rachma Aris

LIVEWORKSHEETS

Soal Isian singkat

CEMILAN DAN GRAFIK BATANG

Survei untuk lima Cemilan yang paling populer di antara siswa Kelas 7 dan datanya disajikan dalam grafik batang. **Isilah dengan jawaban yang**

1. Cemilan yang paling popular adalah
2. Cemilan yang paling tidak populer adalah
3. Cemilan dengan poin 100 adalah
4. Di antara kue dan pizza, camilan mana yang lebih populer

Soal Kotak pilihan berupa daftar

Perhatikan gambar!

Jika tersedia bahan 2 kg kopi, 3 liter susu dan 12 liter air, maka maksimal banyakkopi nikmat yang dapat dibuat adalah gelas

Soal pilihan ganda

Sebuah foto berukururan 3 cm x 4 cm. Apabila foto diperbesar dan sisi terpanjang menjadi 12 cm, maka sisi terpendek menjadi ....

A. 4 cm

B. 6 cm

C. 9 cm

D. 10 cm

LIVEWORKSHEETS

Soal Menempelkan / seret - Lepas

TEBAK GAMBAR

Pasangkan nama dimasing-masing gambar

Jamaluddin

Najamuddin

Ismail

Amir Desar

LIVEWORKSHEETS

Soal menjodohkan

Segiempat dibawah laut

Silahkan tarik garis dari atas (jenis segi empat) ke bawah laut (gambar segi empat) sehingga menjadi jawaban yang benar

Persegi

Trapesium

Jajar genjang

Persegi panjang

Belah ketupat

Layang-layang

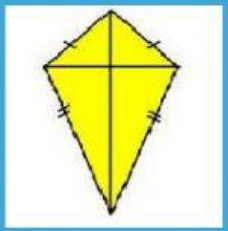

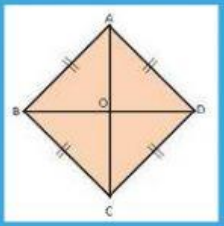

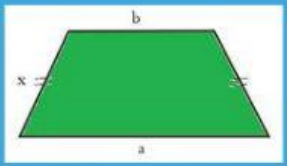

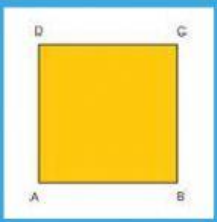

Soal kotak centang

Tentukan kondisi berikut yang manakah menunjukkan kondisi rugi? (kalian boleh memilih lebih dari 1 jawaban yang dianggap benar)

- [ ] Pemasukan Rp600.000,00 dan pengeluaran Rp620.000,00
- [ ] Pemasukan Rp520.000,00 dan pengeluaran Rp520.000,00
- [ ] Pemasukan Rp650.000,00 dan pengeluaran Rp630.000,00
- [ ] Pemasukan Rp700.000,00 dan pengeluaran Rp710.000,00
- [ ] Pemasukan Rp640.000,00 dan pengeluaran Rp630.000,00

LIVEWORKSHEETS

Soal Essay

All About Diskon

Arti diskon 50%+20% adalah memberikan diskon 50% terhadap harga suatu barang kemudian menambahkan diskon 20% terhadap harga sesudah diskon pertama.

Pertanyaan

Ani berkunjung di toko B dan melihat baju dengan label harga Rp150.000,00. Uang yang harus dikeluarkan Ani untuk membeli baju tersebut adalah ....

Jawaban