BÀI 4: THỂ HIỆN CẤU TRÚC RẼ NHÁNH TRONG CHƯƠNG TRÌNH

<u>Phiếu học tập số 2</u>

Nhóm:

Nhiệm vụ:

Câu 1. Em hãy ghép mỗi phát biểu về thuật toán ở cột bên trái với thể hiện cấu trúc rẽ nhánh tương ứng trong Scratch ở cột bên phải.

Phát biểu	Khối lệnh trong Scratch
1. Nếu số 12 chia hết cho m thì thông báo m là một ước số của 12.	**A**.
2. Nếu m chia hết cho 2 thì thông báo m là số chẵn, ngược lại thì thông báo m là số lẻ.	**B**. 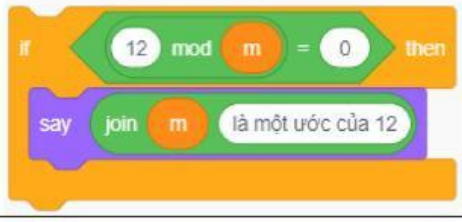

Câu 2. Em hãy lắp ghép mỗi biểu thức điều kiện ở cột bên phải vào đúng vị trí trong mỗi khối lệnh ở cột bên trái để khối lệnh được thực hiện đúng.

Khối lệnh rẽ nhánh trong Scratch	Các biểu thức điều kiện trong Scratch.
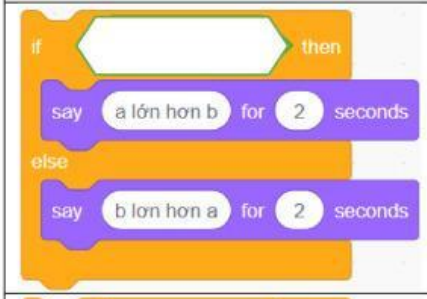	A.
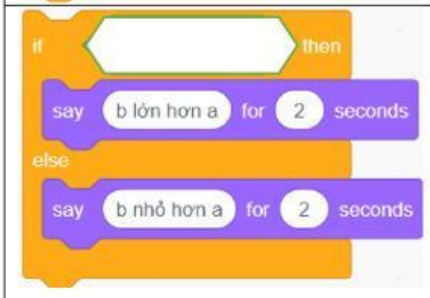	B.

Nhận xét giáo viên:

LIVEWORKSHEETS