LEMBAR KERJA PESERTA DIDIK

Operasi Penjumlahan dan Pengurangan dengan Penyebut Sama dan Pecahan Senilai

MATEMATIKA

NAMA : .....

KELAS : .....

SEKOLAH : .....

Oleh : Bella Citra Rastranda, S.Pd.

LIVEWORKSHEETS

LIVEWORKSHEETS

YUK SIMAK VIDEO BERIKUT

Tuliskan Rangkuman Singkat Tentang Video di atas ke dalam Kotak Dibawah ini

LIVEWORKSHEETS

LIVEWORKSHEETS

A. TENTUKAN NILAI PECAHAN DARI GAMBAR BERIKUT INI

Cara pengerjaan :

Tarik garis dari gambar ke arah jawaban yang sesuai dengan nilai pecahannya (menjodohkan gambar)

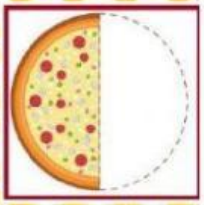

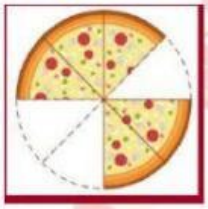

$\frac{1}{8}$ $\frac{1}{2}$ $\frac{1}{4}$ $\frac{3}{8}$

B. TENTUKAN NILAI PECAHAN DARI GAMBAR BERIKUT INI

Cara pengerjaan :

Centang jawaban yang sesuai dengan gambar dengan klik kotak jawaban

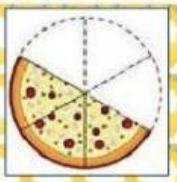

- Tiga per enam
- Enam per tiga
- Tiga per tiga

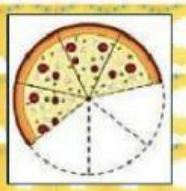

- Tujuh per tiga
- Empat per tiga
- Empat per tujuh

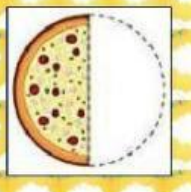

- Satu per satu
- Satu per dua
- Dua per dua

LIVEWORKSHEETS

LIVEWORKSHEETS

C. TENTUKAN PECAHAN YANG SENILAI

Cara pengerjaan :

Jawablah dengan memilih opsi jawaban pada kotak yang disediakan

1. $\frac{4}{6} = \frac{12}{\dots}$

2. $\frac{7}{12} = \frac{\dots}{24}$

3. $\frac{8}{9} = \frac{32}{\dots}$

4. $\frac{5}{10} = \frac{\dots}{2}$

5. $\frac{3}{15} = \frac{\dots}{5}$

6. $\frac{8}{9} = \frac{32}{\dots}$

D. TENTUKAN HASIL PENJUMLAHAN PECAHAN SENILAI BERIKUT

Cara pengerjaan :

Jawablah dengan mengisi angka pada kotak jawaban

(1) $\frac{2}{4} + \frac{1}{4} = \frac{\square}{\square}$

(2) $\frac{4}{7} + \frac{2}{7} = \frac{\square}{\square}$

(3) $\frac{2}{6} + \frac{3}{6} = \frac{\square}{\square}$

(4) $\frac{1}{9} + \frac{7}{9} = \frac{\square}{\square}$

LIVEWORKSHEETS

LIVEWORKSHEETS