Задачи на движение

6. Прочитай условие задачи. Выполни задания.

От двух пристаней одновременно навстречу друг другу отплыли два катера. Через 2 ч после отплытия расстояние между ними стало 8 км. Вычисли расстояние между пристанями, если известны скорости катеров: 38 км/ч и 42 км/ч.

А) Заполни пропуски в условии задачи.

_____ км/ч – скорость 1-го катера

42 ____ /____ – _____

8 _____ – расстояние между катерами через ____ после отплытия

_____ расстояние между пристанями?

Б) Выбери из предложенных схем ту, которая соответствует условию задачи.
Перетащи выбранную схему в соответствующее поле.

1) 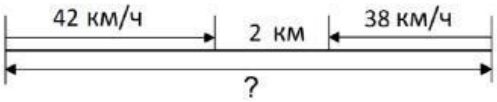

2) 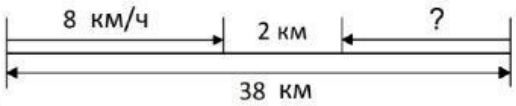

3) 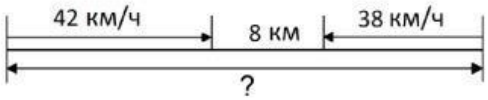

4) 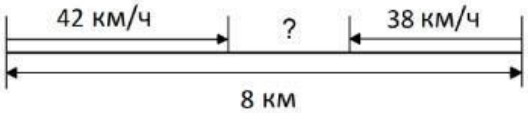

Вставь схему

LIVEWORKSHEETS